4 G Books

वार्षिक परीक्षा
हिंदी मंथन

समय : ..... **कक्षा–1** **पूर्णांक : .....**

नोट–सभी प्रश्न करने अनिवार्य हैं। स्वच्छता का विशेष ध्यान रखें।

I. निम्नलिखित प्रश्नों के उत्तर दीजिए–

1. सियार क्या करता था?
2. राकेश क्यों चिल्लाया?
3. खरगोश कहाँ आराम करता है?
4. रजत ने अचानक क्या देखा?

II. वचन बदलिए–

पटरी	_____	गति	_____	यात्री	_____
चिड़िया	_____	पत्ता	_____	गौशाला	_____

III. सही उत्तर चुनकर (✓) का चिह्न लगाइए–

1. वृक्ष के नीचे सो रहा था—
   (i) चूहा ☐ (ii) खरगोश ☐ (iii) शेर ☐
2. शेर था बहुत—
   (i) खूँखार ☐ (ii) दयालु ☐ (iii) डरपोक ☐

IV. चित्र पहचानकर नाम लिखिए–

1. 2. 3. 4.

_____ _____ _____ _____

V. सही शब्द पर गोला (◯) लगाइए–

1.	नृप	नरप	नप्र	नपृ
2.	तकीया	तकिया	तक्यि	तिकिया
3.	फेसला	फैसेला	फैसला	फासला
4.	आगन	आँगन	आंगन	आगनॅ

4 G Books

वार्षिक परीक्षा
हिंदी मंथन

समय : ..... **कक्षा–1** **पूर्णांक : .....**

नोट–सभी प्रश्न करने अनिवार्य हैं। स्वच्छता का विशेष ध्यान रखें।

I. निम्नलिखित प्रश्नों के उत्तर दीजिए–

1. सियार क्या करता था?
2. राकेश क्यों चिल्लाया?
3. खरगोश कहाँ आराम करता है?
4. रजत ने अचानक क्या देखा?

II. वचन बदलिए–

पटरी	_____	गति	_____	यात्री	_____
चिड़िया	_____	पत्ता	_____	गौशाला	_____

III. सही उत्तर चुनकर (✓) का चिह्न लगाइए–

1. वृक्ष के नीचे सो रहा था—
   (i) चूहा ☐ (ii) खरगोश ☐ (iii) शेर ☐
2. शेर था बहुत—
   (i) खूँखार ☐ (ii) दयालु ☐ (iii) डरपोक ☐

IV. चित्र पहचानकर नाम लिखिए–

1. 2. 3. 4.

_____ _____ _____ _____

V. सही शब्द पर गोला (◯) लगाइए–

1.	नृप	नरप	नप्र	नपृ
2.	तकीया	तकिया	तक्यि	तिकिया
3.	फेसला	फैसेला	फैसला	फासला
4.	आगन	आँगन	आंगन	आगनॅ

वार्षिक परीक्षा
हिंदी मंथन

समय : ..... **कक्षा–2** **पूर्णांक : .....**

नोट–सभी प्रश्न करने अनिवार्य हैं। स्वच्छता का विशेष ध्यान रखें।

I. उत्तर लिखिए–

1. शबरी ने राम को जूठे बेर क्यों खिलाये?
2. ओले पड़ने पर कौओं का क्या हाल हुआ?
3. जीसस क्राइस्ट कौन थे?
4. सारस ने बाहर जाने से पूर्व बच्चों से क्या कहा?

II. रिक्त स्थान भरिए–

1. यज्ञकर्ता मेरे पत्तों से _____ करते हैं।
2. हिरण्यकश्यप के _____ पुत्र थे।
3. गाँव के लोग बड़े _____ हैं।
4. तिरंगे के मध्य में स्थित सफेद रंग _____ का प्रतीक है।

III. निम्नलिखित वाक्यों में से रेखांकित शब्दों को सही कीजिए–

1. फलों का राजा <u>सेब</u> है।
2. रमेश को इनाम में <u>साइकिल</u> मिली।
3. प्रह्लाद जन्म से ही <u>भगवान शिव</u> का परम भक्त था।
4. मेहनत का फल हमेशा <u>कड़वा</u> होता है।

IV. सही जोड़े बनाइए–

• मैं फलों का	• मिठाइयाँ बाँटी।
• बच्चों को	• धनी था।
• किसान बहुत	• महीना था।
• फाल्गुन का	• राजा हूँ।

V. किसने कहा, किससे कहा?

1. ''पोरस! अब तुम राजा नहीं हो।'' ____ ने ____ से
2. ''क्या तेरा विष्णु इसमें भी है?'' ____ ने ____ से
3. ''यह गेहूँ और मटर के बीज उसमें बो देना।'' ____ ने ____ से
4. ''गीदड़ भाई मुझे खाना खाने के बाद नहाने की आदत है।'' ____ ने ____ से

4 G Books

वार्षिक परीक्षा
हिंदी मंथन

समय : ..... कक्षा–2 पूर्णांक : .....

नोट–सभी प्रश्न करने अनिवार्य हैं। स्वच्छता का विशेष ध्यान रखें।

I. उत्तर लिखिए–
1. शबरी ने राम को जूठे बेर क्यों खिलाये?
2. ओले पड़ने पर कौओं का क्या हाल हुआ?
3. जीसस क्राइस्ट कौन थे?
4. सारस ने बाहर जाने से पूर्व बच्चों से क्या कहा?

II. रिक्त स्थान भरिए–
1. यज्ञकर्ता मेरे पत्तों से _____ करते हैं।
2. हिरण्यकश्यप के _____ पुत्र थे।
3. गाँव के लोग बड़े _____ हैं।
4. तिरंगे के मध्य में स्थित सफेद रंग _____ का प्रतीक है।

III. निम्नलिखित वाक्यों में से रेखांकित शब्दों को सही कीजिए–
1. फलों का राजा सेब है।
2. रमेश को इनाम में साइकिल मिली।
3. प्रह्लाद जन्म से ही भगवान शिव का परम भक्त था।
4. मेहनत का फल हमेशा कड़वा होता है।

IV. सही जोड़े बनाइए–
• मैं फलों का • मिठाइयाँ बाँटी।
• बच्चों को • धनी था।
• किसान बहुत • महीना था।
• फाल्गुन का • राजा हूँ।

V. किसने कहा, किससे कहा?
1. ''पोरस! अब तुम राजा नहीं हो।'' ____ ने ____ से
2. ''क्या तेरा विष्णु इसमें भी है?'' ____ ने ____ से
3. ''यह गेहूँ और मटर के बीज उसमें बो देना।'' ____ ने ____ से
4. ''गीदड़ भाई मुझे खाना खाने के बाद नहाने की आदत है।'' ____ ने ____ से

वार्षिक परीक्षा
हिंदी मंथन

समय : ..... **कक्षा–3** **पूर्णांक : .....**

नोट–सभी प्रश्न करने अनिवार्य हैं। स्वच्छता का विशेष ध्यान रखें।

I. उत्तर दीजिए–

1. बूढ़ा–बूढ़ी कैसे जीवन व्यतीत करते थे?
2. गाय के दूध से क्या–क्या चीजें बनती हैं?
3. गुरु अपने शिष्यों को क्या प्रस्ताव देना चाहते थे?
4. सुखी व्यक्ति कौन होता है?

II. रिक्त स्थानों की पूर्ति कीजिए–

1. _____ मंत्री की जय–जयकार कर उठा।
2. सरोजिनी नायडू _____ को इस संसार से विदा हो गईं।
3. वीरों के लिए _____ का कोई बंधन नहीं होता।
4. तोते की आयु अपेक्षाकृत _____ होती है।

III. निम्नलिखित शब्दों के बहुवचन शब्द लिखिए–

मंत्री	_____	रोटी	_____	बंदूक	_____
गुफा	_____	मूर्ति	_____	हाथ	_____

IV. बहुविकल्पीय प्रश्न–

1. ताजमहल किस शहर में है?
   (i) दिल्ली में ☐ (ii) मुंबई में ☐ (iii) आगरा में ☐
2. राजा को कौन–सी बीमारी हो गई थी?
   (i) हैजा ☐ (ii) डेंगू ☐ (iii) पीलिया ☐
3. किसको सताने से उनकी हाय लगती है—
   (i) दुर्बलों को ☐ (ii) अमीरों को ☐ (iii) सज्जनों को ☐

V. निम्नलिखित शब्दों के स्त्रीलिंग रूप लिखिए–

बूढ़ा	_____	बालक	_____	विद्वान	_____
कवि	_____	पिता	_____	पति	_____
पौत्र	_____	नवयुवक	_____	शेर	_____

4 G Books

वार्षिक परीक्षा
हिंदी मंथन

समय : ..... कक्षा–3 पूर्णांक : .....

नोट–सभी प्रश्न करने अनिवार्य हैं। स्वच्छता का विशेष ध्यान रखें।

I. उत्तर दीजिए–
1. बूढ़ा–बूढ़ी कैसे जीवन व्यतीत करते थे?
2. गाय के दूध से क्या–क्या चीजें बनती हैं?
3. गुरु अपने शिष्यों को क्या प्रस्ताव देना चाहते थे?
4. सुखी व्यक्ति कौन होता है?

II. रिक्त स्थानों की पूर्ति कीजिए–
1. _____ मंत्री की जय–जयकार कर उठा।
2. सरोजिनी नायडू _____ को इस संसार से विदा हो गईं।
3. वीरों के लिए _____ का कोई बंधन नहीं होता।
4. तोते की आयु अपेक्षाकृत _____ होती है।

III. निम्नलिखित शब्दों के बहुवचन शब्द लिखिए–
मंत्री _____ रोटी _____ बंदूक _____
गुफा _____ मूर्ति _____ हाथ _____

IV. बहुविकल्पीय प्रश्न–
1. ताजमहल किस शहर में है?
(i) दिल्ली में ☐ (ii) मुंबई में ☐ (iii) आगरा में ☐
2. राजा को कौन–सी बीमारी हो गई थी?
(i) हैजा ☐ (ii) डेंगू ☐ (iii) पीलिया ☐
3. किसको सताने से उनकी हाय लगती है—
(i) दुर्बलों को ☐ (ii) अमीरों को ☐ (iii) सज्जनों को ☐

V. निम्नलिखित शब्दों के स्त्रीलिंग रूप लिखिए–
बूढ़ा _____ बालक _____ विद्वान _____
कवि _____ पिता _____ पति _____
पौत्र _____ नवयुवक _____ शेर _____

वार्षिक परीक्षा
हिंदी मंथन

समय : ..... **कक्षा–4** **पूर्णांक : .....**

नोट–सभी प्रश्न करने अनिवार्य हैं। स्वच्छता का विशेष ध्यान रखें।

I. उत्तर लिखिए–

1. व्यापारी कहाँ जा रहा था?
2. पहले दिन लड़का सोने की मोहर कहाँ से लाया?
3. कवि ने धर्म को सुंदर आचरण क्यों कहा है?
4. चाणक्य कौन थे?

II. रिक्त स्थानों की पूर्ति कीजिए–

1. लड़के ने वृक्ष पर चढ़कर _____ में हाथ डाल दिया।
2. _____ बोली से सब काम बन जाते हैं।
3. मेरी बड़ी इच्छा थी, मैं _____ बनूँ।
4. बाहरी खतरों के अतिरिक्त कुछ _____ घर में भी मौजूद हैं।
5. नंद ने बालक की माँ की _____ स्वीकार कर ली।

III. निम्नलिखित पंक्तियों का भावार्थ लिखिए–

1. दुख में सुमिरन सब करैं, सुख में करै न कोय।
   जो सुख में सुमिरन करैं, तो दुख काहे को होय।।
2. जिस बालक में सदा, गुरु का मान समाय।
   ऐसे बालक का सदा ईश्वर होत सहाय।।

IV. किसने कहा, किससे कहा?

1. ''बालकों! तुममें से कोई मैना का बच्चा लेगा?'' ___ ने ___ से
2. ''प्रभु! मुझ अज्ञानी को क्षमा कर दें।'' ___ ने ___ से
3. ''दादा, धीरे–धीरे पीने से चाय ठंडी हो जाएगी।'' ___ ने ___ से
4. ''अब आप मुझे निकाल सकते हैं।'' ___ ने ___ से

V. विलोम शब्द लिखिए–

आदर	_____	एकता	_____	बुरा	_____
जीवन	_____	उत्तर	_____	सत्य	_____
हित	_____	योग्य	_____	कल्याण	_____

4 G Books

वार्षिक परीक्षा
हिंदी मंथन

समय : ..... कक्षा–4 पूर्णांक : .....

नोट–सभी प्रश्न करने अनिवार्य हैं। स्वच्छता का विशेष ध्यान रखें।

I. उत्तर लिखिए–
1. व्यापारी कहाँ जा रहा था?
2. पहले दिन लड़का सोने की मोहर कहाँ से लाया?
3. कवि ने धर्म को सुंदर आचरण क्यों कहा है?
4. चाणक्य कौन थे?

II. रिक्त स्थानों की पूर्ति कीजिए–
1. लड़के ने वृक्ष पर चढ़कर _____ में हाथ डाल दिया।
2. _____ बोली से सब काम बन जाते हैं।
3. मेरी बड़ी इच्छा थी, मैं _____ बनूँ।
4. बाहरी खतरों के अतिरिक्त कुछ _____ घर में भी मौजूद हैं।
5. नंद ने बालक की माँ की _____ स्वीकार कर ली।

III. निम्नलिखित पंक्तियों का भावार्थ लिखिए–
1. दुख में सुमिरन सब करैं, सुख में करै न कोय।
   जो सुख में सुमिरन करैं, तो दुख काहे को होय।।
2. जिस बालक में सदा, गुरु का मान समाय।
   ऐसे बालक का सदा ईश्वर होत सहाय।।

IV. किसने कहा, किससे कहा?
1. ''बालकों! तुममें से कोई मैना का बच्चा लेगा?'' ___ ने ___ से
2. ''प्रभु! मुझ अज्ञानी को क्षमा कर दें।'' ___ ने ___ से
3. ''दादा, धीरे–धीरे पीने से चाय ठंडी हो जाएगी।'' ___ ने ___ से
4. ''अब आप मुझे निकाल सकते हैं।'' ___ ने ___ से

V. विलोम शब्द लिखिए–

आदर	_____	एकता	_____	बुरा	_____
जीवन	_____	उत्तर	_____	सत्य	_____
हित	_____	योग्य	_____	कल्याण	_____

वार्षिक परीक्षा
हिंदी मंथन

समय : ..... **कक्षा–5** **पूर्णांक : .....**

नोट–सभी प्रश्न करने अनिवार्य हैं। स्वच्छता का विशेष ध्यान रखें।

I. निम्नलिखित प्रश्नों के उत्तर दीजिए–

1. राहुल कौन था? वह क्या करता था?
2. कबूतर प्राचीन काल में किस काम आता था?
3. युधिष्ठिर ने सबसे पहले किसे पानी लाने के लिए भेजा?
4. एकलव्य की भक्ति से प्रसन्न होकर गुरु द्रोण ने क्या किया?

II. रिक्त स्थानों की पूर्ति कीजिए–

1. कमल ने बड़े मन से एक _____ लिखा।
2. कस्तूरी चिड़िया बहुत ही _____ स्वर में गाती है।
3. अन्याय के विरोध में भी उन्होंने _____ उठाई थी।
4. गांधी जी भारतीय _____ के मंत्री थे।

III. सही मिलान कीजिए–

• एक दिन भाग्य ने	• मारकर खा जाता।
• कुछ पक्षी गाने वाले	• हो गए थे।
• शेर मुझे	• पलटा खाया।
• आज तीन दिन	• होते हैं।

IV. किसने कहा, किससे कहा–

1. ''लोमड़ी बहन, इन्हें मरे कोई दो घंटे हो गए।'' ____ ने ____ से
2. ''बहादुर माँ का ही पुत्र बहादुर होता है।'' ____ ने ____ से
3. ''देख लिया झूठ का नतीजा।'' ____ ने ____ से
4. ''बेटा, तू क्यों रोता है?'' ____ ने ____ से

V. मुहावरों का अर्थ लिखकर वाक्यों में प्रयोग कीजिए–

1. फूला न समाना _____ _____
2. अंधे की लाठी _____ _____
3. अँगूठा दिखाना _____ _____
4. नौ दो ग्यारह होना _____ _____

4 G Books

वार्षिक परीक्षा
हिंदी मंथन

समय : ..... कक्षा–5 पूर्णांक : .....

नोट–सभी प्रश्न करने अनिवार्य हैं। स्वच्छता का विशेष ध्यान रखें।

I. निम्नलिखित प्रश्नों के उत्तर दीजिए–
1. राहुल कौन था? वह क्या करता था?
2. कबूतर प्राचीन काल में किस काम आता था?
3. युधिष्ठिर ने सबसे पहले किसे पानी लाने के लिए भेजा?
4. एकलव्य की भक्ति से प्रसन्न होकर गुरु द्रोण ने क्या किया?

II. रिक्त स्थानों की पूर्ति कीजिए–
1. कमल ने बड़े मन से एक _____ लिखा।
2. कस्तूरी चिड़िया बहुत ही _____ स्वर में गाती है।
3. अन्याय के विरोध में भी उन्होंने _____ उठाई थी।
4. गांधी जी भारतीय _____ के मंत्री थे।

III. सही मिलान कीजिए–
• एक दिन भाग्य ने • मारकर खा जाता।
• कुछ पक्षी गाने वाले • हो गए थे।
• शेर मुझे • पलटा खाया।
• आज तीन दिन • होते हैं।

IV. किसने कहा, किससे कहा–
1. ''लोमड़ी बहन, इन्हें मरे कोई दो घंटे हो गए।'' ____ ने ____ से
2. ''बहादुर माँ का ही पुत्र बहादुर होता है।'' ____ ने ____ से
3. ''देख लिया झूठ का नतीजा।'' ____ ने ____ से
4. ''बेटा, तू क्यों रोता है?'' ____ ने ____ से

V. मुहावरों का अर्थ लिखकर वाक्यों में प्रयोग कीजिए–
1. फूला न समाना _____ _____
2. अंधे की लाठी _____ _____
3. अँगूठा दिखाना _____ _____
4. नौ दो ग्यारह होना _____ _____

4 G Books

वार्षिक परीक्षा

हिंदी मंथन

समय : ..... **कक्षा–6** **पूर्णांक : .....**

नोट–सभी प्रश्न करने अनिवार्य हैं। स्वच्छता का विशेष ध्यान रखें।

1. निम्नलिखित प्रश्नों के उत्तर दीजिए–

(क) 'यह तन काचा कुम्भ है' का भावार्थ स्पष्ट कीजिए।
(ख) रेलवे स्टेशन से बाहर आकर महेंद्रलाल ने ऑटोवाले से क्या पूछा?
(ग) बच्ची अपनी माँ से किस तरह की शिकायत करती है?
(घ) विद्यालय में शिष्टाचार के क्या नियम हैं?
(ङ) अब्दुल कलाम को 'भारत रत्न' से क्यों सम्मानित किया गया?

2. रिक्त स्थानों की पूर्ति कीजिए–

(क) "_____ रुपये तो बहुत ज्यादा हैं भैया!"
(ख) मत्स्यपुराण में एक वृक्ष को _____ के बराबर बताया गया है।
(ग) दुनिया में सबसे बड़ी चीज _____ है।
(घ) डॉ० भाभा _____ आयोग के चेयरमैन बनाए गए।
(ङ) शिष्टता का तीसरा लक्षण है— _____।

3. सही उत्तर पर (✓) का निशान लगाइए–

(क) ऑटो वाले का नाम था—
(i) जमाल ☐ (ii) सलीम ☐ (iii) कमाल ☐
(ख) पृथ्वी मिसाइल का वजन है—
(i) 13 टन ☐ (ii) 14 टन ☐ (iii) 15 टन ☐

4. सही जोड़े बनाइए–

• अकलू बंदर	• आए हो खान।
• चारों राजकुमार	• सामाजिक प्राणी है।
• बहुत दिनों बाद	• बहुत अक्लमंद था।
• मानव एक	• बहुत सुंदर थे।

5. किसने कहा, किससे कहा?

(क) "हाँ, वन देवता मेरे गवाह हैं।" ____ ने ____ से
(ख) "राजन्, मैं विशेष कार्यवश ही आपके पास आया हूँ।" ____ ने ____ से
(ग) "मेरा आखिरी सवाल है, बुद्धि करती क्या है?" ____ ने ____ से
(घ) "सुना, समझ नहीं है लड़ने वालों में।" ____ ने ____ से

4 G Books

वार्षिक परीक्षा

हिंदी मंथन

समय : ..... **कक्षा–6** **पूर्णांक : .....**

नोट–सभी प्रश्न करने अनिवार्य हैं। स्वच्छता का विशेष ध्यान रखें।

1. निम्नलिखित प्रश्नों के उत्तर दीजिए–

(क) 'यह तन काचा कुम्भ है' का भावार्थ स्पष्ट कीजिए।
(ख) रेलवे स्टेशन से बाहर आकर महेंद्रलाल ने ऑटोवाले से क्या पूछा?
(ग) बच्ची अपनी माँ से किस तरह की शिकायत करती है?
(घ) विद्यालय में शिष्टाचार के क्या नियम हैं?
(ङ) अब्दुल कलाम को 'भारत रत्न' से क्यों सम्मानित किया गया?

2. रिक्त स्थानों की पूर्ति कीजिए–

(क) "_____ रुपये तो बहुत ज्यादा हैं भैया!"
(ख) मत्स्यपुराण में एक वृक्ष को _____ के बराबर बताया गया है।
(ग) दुनिया में सबसे बड़ी चीज _____ है।
(घ) डॉ० भाभा _____ आयोग के चेयरमैन बनाए गए।
(ङ) शिष्टता का तीसरा लक्षण है— _____।

3. सही उत्तर पर (✓) का निशान लगाइए–

(क) ऑटो वाले का नाम था—
(i) जमाल ☐ (ii) सलीम ☐ (iii) कमाल ☐
(ख) पृथ्वी मिसाइल का वजन है—
(i) 13 टन ☐ (ii) 14 टन ☐ (iii) 15 टन ☐

4. सही जोड़े बनाइए–

• अकलू बंदर	• आए हो खान।
• चारों राजकुमार	• सामाजिक प्राणी है।
• बहुत दिनों बाद	• बहुत अक्लमंद था।
• मानव एक	• बहुत सुंदर थे।

5. किसने कहा, किससे कहा?

(क) "हाँ, वन देवता मेरे गवाह हैं।" ____ ने ____ से
(ख) "राजन्, मैं विशेष कार्यवश ही आपके पास आया हूँ।" ____ ने ____ से
(ग) "मेरा आखिरी सवाल है, बुद्धि करती क्या है?" ____ ने ____ से
(घ) "सुना, समझ नहीं है लड़ने वालों में।" ____ ने ____ से

वार्षिक परीक्षा

हिंदी मंथन

समय : ..... **कक्षा–7** **पूर्णांक : .....**

नोट–सभी प्रश्न करने अनिवार्य हैं। स्वच्छता का विशेष ध्यान रखें।

1. निम्नलिखित प्रश्नों के उत्तर दीजिए–

(क) टॉलस्टॉय की बचपन की कटु स्मृतियों का उल्लेख कीजिए।

(ख) फूल और काँटे के स्वभाव में क्या अंतर है?

(ग) स्कूल देखकर तोत्तो–चान की आँखों में चमक क्यों आ गई?

(घ) पेड़–पौधे अशुद्ध वायु को किस प्रकार शुद्ध करते हैं?

2. रिक्त स्थानों की पूर्ति कीजिए–

(क) अंतरिक्ष युग का सूत्रपात _____ को हुआ था।

(ख) महाराष्ट्र के ठाणे जिले में _____ के आदिवासियों के निवास हैं।

(ग) गेट के ये दो खंभे _____ ही थे।

(घ) _____ सभी प्राणियों के जीवन के लिए एक अनिवार्य वस्तु है।

3. निम्नलिखित वाक्यों को कर्मवाच्य में बदलिए–

(क) राधिका सेब खाती है। _____

(ख) बढ़ई मेज बनाता है। _____

(ग) किसान खेत जोतता है। _____

(घ) दादी जी कहानी सुनाती हैं। _____

4. निम्नलिखित शब्दों का वाक्यों में प्रयोग कीजिए–

काँटों मीठी हवा

5. किसने कहा, किससे कहा?

(क) ''यहाँ पानी जरूर निकलेगा।'' _____ ने _____ से

(ख) ''सर, पानी हाजिर है।'' _____ ने _____ से

(ग) ''यह स्कूल मुझे बहुत अच्छा लगा है।'' _____ ने _____ से

(घ) ''माँ जी, बिल्ली तो उठकर भाग गई।'' _____ ने _____ से

6. निम्नलिखित शब्दों के विलोम शब्द लिखिए–

हार	_____	वीर	_____	सफलता	_____
साकार	_____	मीठा	_____	पक्का	_____
नए	_____	सच	_____	आशा	_____

4 G Books

वार्षिक परीक्षा

हिंदी मंथन

समय : ..... कक्षा–7 पूर्णांक : .....

नोट–सभी प्रश्न करने अनिवार्य हैं। स्वच्छता का विशेष ध्यान रखें।

1. निम्नलिखित प्रश्नों के उत्तर दीजिए–

(क) टॉलस्टॉय की बचपन की कटु स्मृतियों का उल्लेख कीजिए।

(ख) फूल और काँटे के स्वभाव में क्या अंतर है?

(ग) स्कूल देखकर तोत्तो–चान की आँखों में चमक क्यों आ गई?

(घ) पेड़–पौधे अशुद्ध वायु को किस प्रकार शुद्ध करते हैं?

2. रिक्त स्थानों की पूर्ति कीजिए–

(क) अंतरिक्ष युग का सूत्रपात _____ को हुआ था।

(ख) महाराष्ट्र के ठाणे जिले में _____ के आदिवासियों के निवास हैं।

(ग) गेट के ये दो खंभे _____ ही थे।

(घ) _____ सभी प्राणियों के जीवन के लिए एक अनिवार्य वस्तु है।

3. निम्नलिखित वाक्यों को कर्मवाच्य में बदलिए–

(क) राधिका सेब खाती है। _____

(ख) बढ़ई मेज बनाता है। _____

(ग) किसान खेत जोतता है। _____

(घ) दादी जी कहानी सुनाती हैं। _____

4. निम्नलिखित शब्दों का वाक्यों में प्रयोग कीजिए–

काँटों मीठी हवा

5. किसने कहा, किससे कहा?

(क) ''यहाँ पानी जरूर निकलेगा।'' _____ ने _____ से

(ख) ''सर, पानी हाजिर है।'' _____ ने _____ से

(ग) ''यह स्कूल मुझे बहुत अच्छा लगा है।'' _____ ने _____ से

(घ) ''माँ जी, बिल्ली तो उठकर भाग गई।'' _____ ने _____ से

6. निम्नलिखित शब्दों के विलोम शब्द लिखिए–

हार	_____	वीर	_____	सफलता	_____
साकार	_____	मीठा	_____	पक्का	_____
नए	_____	सच	_____	आशा	_____

वार्षिक परीक्षा

4 G Books

हिंदी मंथन

समय : ..... **कक्षा-8** **पूर्णांक : .....**

नोट-सभी प्रश्न करने अनिवार्य हैं। स्वच्छता का विशेष ध्यान रखें।

1. निम्नलिखित प्रश्नों के उत्तर दीजिए-

(क) मीरा ने जीवन में क्या-क्या कष्ट सहे?

(ख) पक्षी के साथ क्या घटना घट गई थी?

(ग) 'शब्द और कृति' से लेखक का क्या तात्पर्य है?

(घ) ईश्वरी जमींदारों के पक्ष में क्या दलील देता था?

(ङ) केवट की बातें सुनकर रामचंद्र जी क्यों हँस दिए?

2. सही विकल्प पर (✓) लगाइए-

(क) भाई साहब लेखक से बड़े थे—

(i) पाँच साल ☐ (ii) साल साल ☐ (iii) नौ साल ☐

(ख) बूढ़ों से स्वाभाविक विद्वेष होता है—

(i) लड़कियों को ☐ (ii) पड़ोसियों को ☐ (iii) लड़कों को ☐

3. निम्नलिखित शब्दों का अर्थ लिखकर वाक्यों में प्रयोग कीजिए-

(क) आपदाएँ (ख) लताड़

(ग) मनि-मुदरी (घ) अभियोग

4. निम्नलिखित शब्दों के विलोम शब्द लिखिए-

उचित _____ क्रोध _____ अर्थ _____

विजय _____ पुराने _____ सृजन _____

5. सही कथन पर (✓) तथा गलत कथन पर (✗) का चिह्न लगाइए-

(क) मीराबाई पर विष का कोई प्रभाव नहीं पड़ा। ☐

(ख) पंखे की हवा केवल बच्चे को लग रही थी। ☐

(ग) मैं प्राण त्यागते समय निराश हूँ कि हमारा बलिदान व्यर्थ गया। ☐

(घ) लाल किले का सबसे शानदार स्मारक दीवान-ए-खास था। ☐

6. निम्नलिखित शब्दों से भाववाचक संज्ञा बनाइए-

लिखना _____ वीर _____ कठोर _____

ईमानदार _____ सच्चा _____ भक्त _____

वार्षिक परीक्षा

4 G Books

हिंदी मंथन

समय : ..... **कक्षा-8** **पूर्णांक : .....**

नोट-सभी प्रश्न करने अनिवार्य हैं। स्वच्छता का विशेष ध्यान रखें।

1. निम्नलिखित प्रश्नों के उत्तर दीजिए-

(क) मीरा ने जीवन में क्या-क्या कष्ट सहे?

(ख) पक्षी के साथ क्या घटना घट गई थी?

(ग) 'शब्द और कृति' से लेखक का क्या तात्पर्य है?

(घ) ईश्वरी जमींदारों के पक्ष में क्या दलील देता था?

(ङ) केवट की बातें सुनकर रामचंद्र जी क्यों हँस दिए?

2. सही विकल्प पर (✓) लगाइए-

(क) भाई साहब लेखक से बड़े थे—

(i) पाँच साल ☐ (ii) साल साल ☐ (iii) नौ साल ☐

(ख) बूढ़ों से स्वाभाविक विद्वेष होता है—

(i) लड़कियों को ☐ (ii) पड़ोसियों को ☐ (iii) लड़कों को ☐

3. निम्नलिखित शब्दों का अर्थ लिखकर वाक्यों में प्रयोग कीजिए-

(क) आपदाएँ (ख) लताड़

(ग) मनि-मुदरी (घ) अभियोग

4. निम्नलिखित शब्दों के विलोम शब्द लिखिए-

उचित _____ क्रोध _____ अर्थ _____

विजय _____ पुराने _____ सृजन _____

5. सही कथन पर (✓) तथा गलत कथन पर (✗) का चिह्न लगाइए-

(क) मीराबाई पर विष का कोई प्रभाव नहीं पड़ा। ☐

(ख) पंखे की हवा केवल बच्चे को लग रही थी। ☐

(ग) मैं प्राण त्यागते समय निराश हूँ कि हमारा बलिदान व्यर्थ गया। ☐

(घ) लाल किले का सबसे शानदार स्मारक दीवान-ए-खास था। ☐

6. निम्नलिखित शब्दों से भाववाचक संज्ञा बनाइए-

लिखना _____ वीर _____ कठोर _____

ईमानदार _____ सच्चा _____ भक्त _____

4 G Books

वार्षिक परीक्षा
विज्ञान मंथन

समय : ..... **कक्षा–1** **पूर्णांक : .....**

नोट–सभी प्रश्न करने अनिवार्य हैं। स्वच्छता का विशेष ध्यान रखें।

1. सही उत्तर पर (✓) का निशान लगाइए–

(क) संतुलित भोजन हमारे शरीर को बनाता है—
(अ) स्वस्थ ☐ (ब) मजबूत ☐ (स) दोनों ☐

(ख) पृथ्वी के चारों ओर है—
(अ) वायु ☐ (ब) खाद ☐ (स) भोजन ☐

(ग) कीटों की टाँगें होती है—
(अ) आठ ☐ (ब) छह ☐ (स) दस ☐

2. रिक्त स्थानों की पूर्ति कीजिए–

(क) _____ को पूर्ण आहार कहते हैं।
(ख) हमें सदा _____ कपड़े पहनने चाहिए।
(ग) मनुष्य का शरीर एक _____ के समान है।
(घ) मौसम समय-समय पर _____ रहता है।
(ङ) वायु _____ घेरती है।

3. सही जोड़े बनाइए–

(क) जल के बिना	• आँधी कहलाती है।
(ख) फलों में	• थकान दूर होती है।
(ग) बहुत तेज चलती वायु	• बहुत विटामिन होते हैं।
(घ) आराम करने से	• जीवन संभव नहीं है।

4. निम्नलिखित प्रश्नों के उत्तर दीजिए–

(क) हमें किस प्रकार का भोजन करना चाहिए।
(ख) प्रतिदिन स्थान करने से क्या होता है?
(ग) स्पर्श का ज्ञान किस अंग द्वारा होता है।
(घ) मौसम तूफानी कब होता है?
(ङ) निर्वात किसे कहते हैं?
(च) पृथ्वी का कितना भाग पर जल है?

4 G Books

वार्षिक परीक्षा
विज्ञान मंथन

समय : ..... **कक्षा–1** **पूर्णांक : .....**

नोट–सभी प्रश्न करने अनिवार्य हैं। स्वच्छता का विशेष ध्यान रखें।

1. सही उत्तर पर (✓) का निशान लगाइए–

(क) संतुलित भोजन हमारे शरीर को बनाता है—
(अ) स्वस्थ ☐ (ब) मजबूत ☐ (स) दोनों ☐

(ख) पृथ्वी के चारों ओर है—
(अ) वायु ☐ (ब) खाद ☐ (स) भोजन ☐

(ग) कीटों की टाँगें होती है—
(अ) आठ ☐ (ब) छह ☐ (स) दस ☐

2. रिक्त स्थानों की पूर्ति कीजिए–

(क) _____ को पूर्ण आहार कहते हैं।
(ख) हमें सदा _____ कपड़े पहनने चाहिए।
(ग) मनुष्य का शरीर एक _____ के समान है।
(घ) मौसम समय-समय पर _____ रहता है।
(ङ) वायु _____ घेरती है।

3. सही जोड़े बनाइए–

(क) जल के बिना	• आँधी कहलाती है।
(ख) फलों में	• थकान दूर होती है।
(ग) बहुत तेज चलती वायु	• बहुत विटामिन होते हैं।
(घ) आराम करने से	• जीवन संभव नहीं है।

4. निम्नलिखित प्रश्नों के उत्तर दीजिए–

(क) हमें किस प्रकार का भोजन करना चाहिए।
(ख) प्रतिदिन स्थान करने से क्या होता है?
(ग) स्पर्श का ज्ञान किस अंग द्वारा होता है।
(घ) मौसम तूफानी कब होता है?
(ङ) निर्वात किसे कहते हैं?
(च) पृथ्वी का कितना भाग पर जल है?

वार्षिक परीक्षा
विज्ञान मंथन

समय : ..... **कक्षा–2** **पूर्णांक : .....**

नोट–सभी प्रश्न करने अनिवार्य हैं। स्वच्छता का विशेष ध्यान रखें।

1. निम्नलिखित प्रश्नों के उत्तर दीजिए–

(क) सूर्य किससे बना है?
(ख) तारे हमें छोटे क्यों दिखाई देते हैं?
(ग) हमें किस प्रकार चलना चाहिए?
(घ) घर हमारी किन से रक्षा करता है?
(ङ) मधुमक्खी से हमें क्या प्राप्त होता है?

2. रिक्त स्थानों की पूर्ति कीजिए–

(क) छाया का दूसरा नाम _____ है।
(ख) केंचुए किसानों के _____ कहे जाते हैं।
(ग) सजीवों के लिए _____ बहुत आवश्यक है।
(घ) चंद्रमा की चाँदनी _____ होती है।
(ङ) सीपियों से _____ मिलते हैं।

3. सही जोड़े बनाइए–

(क) घोड़ा	• गुफा (माँद) में
(ख) बरगद, नीम	• 600
(ग) गुलाब	• 206
(घ) शरीर में पेशियाँ	• इत्र
(ङ) शेर	• वृक्ष
(च) शरीर में हड्डियाँ	• अस्तबल में

4. निम्नलिखित में से गलत शब्द को काटिए–

(क) चाँदनी शीतल/गर्म होती है।
(ख) पत्थर, लकड़ी, लोहे आदि से बनी वस्तुएँ पारदर्शी/अपारदर्शी होती है।
(ग) हिरन से ऊन/कस्तूरी मिलती है।
(घ) पूर्ण चंद्रमा वाली रात को पूर्णिमा/अमावस्था कहा जाता है।
(ङ) व्यायाम करने से शरीर कमजोर/मजबूत होता है।

4 G Books

वार्षिक परीक्षा
विज्ञान मंथन

समय : ..... कक्षा–2 पूर्णांक : .....

नोट–सभी प्रश्न करने अनिवार्य हैं। स्वच्छता का विशेष ध्यान रखें।

1. निम्नलिखित प्रश्नों के उत्तर दीजिए–
(क) सूर्य किससे बना है?
(ख) तारे हमें छोटे क्यों दिखाई देते हैं?
(ग) हमें किस प्रकार चलना चाहिए?
(घ) घर हमारी किन से रक्षा करता है?
(ङ) मधुमक्खी से हमें क्या प्राप्त होता है?

2. रिक्त स्थानों की पूर्ति कीजिए–
(क) छाया का दूसरा नाम _____ है।
(ख) केंचुए किसानों के _____ कहे जाते हैं।
(ग) सजीवों के लिए _____ बहुत आवश्यक है।
(घ) चंद्रमा की चाँदनी _____ होती है।
(ङ) सीपियों से _____ मिलते हैं।

3. सही जोड़े बनाइए–

(क) घोड़ा	• गुफा (माँद) में
(ख) बरगद, नीम	• 600
(ग) गुलाब	• 206
(घ) शरीर में पेशियाँ	• इत्र
(ङ) शेर	• वृक्ष
(च) शरीर में हड्डियाँ	• अस्तबल में

4. निम्नलिखित में से गलत शब्द को काटिए–
(क) चाँदनी शीतल/गर्म होती है।
(ख) पत्थर, लकड़ी, लोहे आदि से बनी वस्तुएँ पारदर्शी/अपारदर्शी होती है।
(ग) हिरन से ऊन/कस्तूरी मिलती है।
(घ) पूर्ण चंद्रमा वाली रात को पूर्णिमा/अमावस्था कहा जाता है।
(ङ) व्यायाम करने से शरीर कमजोर/मजबूत होता है।

4 G Books

वार्षिक परीक्षा
विज्ञान मंथन

समय : ..... **कक्षा–3** **पूर्णांक : .....**

नोट–सभी प्रश्न करने अनिवार्य हैं। स्वच्छता का विशेष ध्यान रखें।

1. सही विकल्प पर (✓) का निशान लगाइए–

(क) शाकाहारी है—
(अ) शेर ☐ (ब) उल्लू ☐ (स) गाय ☐

(ख) सार्वत्रिक विलायक कहा जाता है—
(अ) जल को ☐ (ब) शहद को ☐ (स) तेल को ☐

(ग) सात तारों के एक समूह को कहते हैं—
(अ) तारामंडल ☐ (ब) सप्तऋषि मंडल ☐ (स) ध्रुव तारा ☐

2. रिक्त स्थानों की पूर्ति कीजिए–

(क) जल (पानी) एक _____ पदार्थ है।
(ख) तारों के समूह को _____ कहा जाता है।
(ग) दोमट मिट्टी, बलुई तथा चिकनी का _____ होती है।
(घ) पृथ्वी के _____ के कारण दिन–रात होते हैं।
(ङ) _____ तने का ही प्रसार है।

3. रेखांकित शब्द को सही कीजिए–

(क) द्रव बहते नहीं है।
(ख) सूर्य भी एक ग्रह है।
(ग) चंद्रमा से ऊष्मा और प्रकाश मिलता है।
(घ) बीज फलों के बाहरी भाग में होते हैं।
(ङ) ध्रुव तारा सदैव दक्षिण दिशा में ही स्थित होता है।

4. निम्नलिखित प्रश्नों के उत्तर दीजिए–

(क) पदार्थ की संरचना से आप क्या समझते हैं?
(ख) वातावरण किसे कहते हैं?
(ग) मिट्टी का निर्माण किस प्रकार हुआ?
(घ) ऋतुएँ किस प्रकार बदलती है?
(ङ) जुगाली करना किसे कहते हैं?

4 G Books

वार्षिक परीक्षा
विज्ञान मंथन

समय : ..... **कक्षा–3** **पूर्णांक : .....**

नोट–सभी प्रश्न करने अनिवार्य हैं। स्वच्छता का विशेष ध्यान रखें।

1. सही विकल्प पर (✓) का निशान लगाइए–

(क) शाकाहारी है—
(अ) शेर ☐ (ब) उल्लू ☐ (स) गाय ☐

(ख) सार्वत्रिक विलायक कहा जाता है—
(अ) जल को ☐ (ब) शहद को ☐ (स) तेल को ☐

(ग) सात तारों के एक समूह को कहते हैं—
(अ) तारामंडल ☐ (ब) सप्तऋषि मंडल ☐ (स) ध्रुव तारा ☐

2. रिक्त स्थानों की पूर्ति कीजिए–

(क) जल (पानी) एक _____ पदार्थ है।
(ख) तारों के समूह को _____ कहा जाता है।
(ग) दोमट मिट्टी, बलुई तथा चिकनी का _____ होती है।
(घ) पृथ्वी के _____ के कारण दिन–रात होते हैं।
(ङ) _____ तने का ही प्रसार है।

3. रेखांकित शब्द को सही कीजिए–

(क) द्रव बहते नहीं है।
(ख) सूर्य भी एक ग्रह है।
(ग) चंद्रमा से ऊष्मा और प्रकाश मिलता है।
(घ) बीज फलों के बाहरी भाग में होते हैं।
(ङ) ध्रुव तारा सदैव दक्षिण दिशा में ही स्थित होता है।

4. निम्नलिखित प्रश्नों के उत्तर दीजिए–

(क) पदार्थ की संरचना से आप क्या समझते हैं?
(ख) वातावरण किसे कहते हैं?
(ग) मिट्टी का निर्माण किस प्रकार हुआ?
(घ) ऋतुएँ किस प्रकार बदलती है?
(ङ) जुगाली करना किसे कहते हैं?

4 G Books

वार्षिक परीक्षा
विज्ञान मंथन

समय : ..... **कक्षा–4** **पूर्णांक : .....**

नोट–सभी प्रश्न करने अनिवार्य हैं। स्वच्छता का विशेष ध्यान रखें।

1. निम्नलिखित प्रश्नों के उत्तर दीजिए–

(क) भंगुरता से आप क्या समझते हैं?
(ख) सौरमंडल क्या है?
(ग) जल चक्र से आप क्या समझते हैं?
(घ) सरल मशीन किसे कहते हैं?
(ङ) अनाज का संरक्षण किस प्रकार किया जा सकता है?

2. रिक्त स्थानों की पूर्ति कीजिए–

(क) _____ सदैव गति करते रहते हैं।
(ख) सौरमंडल में सबसे बड़ा ग्रह _____ है।
(ग) विलेय और विलायक का मिश्रण _____ कहलाता है।
(घ) वायुदाब को _____ यंत्र से नापते हैं।
(ङ) काँच की सतह सबसे अधिक _____ होती है।

3. सही उत्तर पर (✓) का निशान लगाइए–

(क) जल में विलेय है—
(अ) मोम ☐ (ख) डीजल ☐ (स) चीनी ☐
(ख) भोर का तारा किस ग्रह को कहा जाता है—
(अ) शुक्र को ☐ (ब) पृथ्वी को ☐ (स) मंगल को ☐
(ग) वर्ष में सबसे बड़ा दिन होता है—
(अ) 21 जून ☐ (ब) 22 सितंबर ☐ (स) 22 जून ☐

4. नाम लिखिए–

(क) दो तारामंडल _____ _____
(ख) दो पर्वतीय पौधे _____ _____
(ग) दो राष्ट्रीय उद्यान _____ _____
(घ) दो ग्रह _____ _____
(ङ) दो सुचालक पदार्थ _____ _____

4 G Books

वार्षिक परीक्षा
विज्ञान मंथन

समय : ..... **कक्षा–4** **पूर्णांक : .....**

नोट–सभी प्रश्न करने अनिवार्य हैं। स्वच्छता का विशेष ध्यान रखें।

1. निम्नलिखित प्रश्नों के उत्तर दीजिए–

(क) भंगुरता से आप क्या समझते हैं?
(ख) सौरमंडल क्या है?
(ग) जल चक्र से आप क्या समझते हैं?
(घ) सरल मशीन किसे कहते हैं?
(ङ) अनाज का संरक्षण किस प्रकार किया जा सकता है?

2. रिक्त स्थानों की पूर्ति कीजिए–

(क) _____ सदैव गति करते रहते हैं।
(ख) सौरमंडल में सबसे बड़ा ग्रह _____ है।
(ग) विलेय और विलायक का मिश्रण _____ कहलाता है।
(घ) वायुदाब को _____ यंत्र से नापते हैं।
(ङ) काँच की सतह सबसे अधिक _____ होती है।

3. सही उत्तर पर (✓) का निशान लगाइए–

(क) जल में विलेय है—
(अ) मोम ☐ (ख) डीजल ☐ (स) चीनी ☐
(ख) भोर का तारा किस ग्रह को कहा जाता है—
(अ) शुक्र को ☐ (ब) पृथ्वी को ☐ (स) मंगल को ☐
(ग) वर्ष में सबसे बड़ा दिन होता है—
(अ) 21 जून ☐ (ब) 22 सितंबर ☐ (स) 22 जून ☐

4. नाम लिखिए–

(क) दो तारामंडल _____ _____
(ख) दो पर्वतीय पौधे _____ _____
(ग) दो राष्ट्रीय उद्यान _____ _____
(घ) दो ग्रह _____ _____
(ङ) दो सुचालक पदार्थ _____ _____

वार्षिक परीक्षा
विज्ञान मंथन

समय : ..... **कक्षा–5** **पूर्णांक : .....**

नोट–सभी प्रश्न करने अनिवार्य हैं। स्वच्छता का विशेष ध्यान रखें।

1. निम्नलिखित प्रश्नों के उत्तर दीजिए–

(क) वृक्षारोपण का क्या महत्व है?
(ख) छाया किस प्रकार बनती है?
(ग) ऊर्जा के प्रमुख स्रोतों का वर्णन कीजिए।
(घ) वायुमंडल में कौन–कौन सी गैसें पाई जाती हैं?
(ङ) आणविक बल से आप क्या समझते हैं?

2. रिक्त स्थानों की पूर्ति कीजिए–

(क) पेड़–पौधे _____ को शुद्ध करते हैं।
(ख) सूर्यग्रहण _____ के दिन होता है।
(ग) चूना पत्थर चूना तथा _____ बनाने के काम आता है।
(घ) केंची एक _____ है।
(ङ) एक ही पदार्थ से अनेक _____ बनाई जा सकती है।

3. सही कथन के सामने 'सत्य' तथा गलत कथन के सामने 'असत्य' लिखिए–

(क) रेडियोधर्मी प्रदूषण मानव निर्मित नहीं है। _____
(ख) ग्रहण प्रत्येक पूर्णिमा व अमावस्या को पड़ता है। _____
(ग) पृथ्वी ठोस चट्टानों से बनी है। _____
(घ) बहती पवन में ऊर्जा नहीं होती है। _____
(ङ) ऑक्सीजन जलने में सहायक है। _____

4. सही जोड़े बनाइए–

(क) अक्रियाशील गैस	• 9 मीटर
(ख) फीताकृमि	• नाइट्रोजन
(ग) आहार नाल की लंबाई	• विलेय
(घ) चीनी	• परजीवी जंतु

4 G Books

वार्षिक परीक्षा
विज्ञान मंथन

समय : ..... कक्षा–5 पूर्णांक : .....

नोट–सभी प्रश्न करने अनिवार्य हैं। स्वच्छता का विशेष ध्यान रखें।

1. निम्नलिखित प्रश्नों के उत्तर दीजिए–
(क) वृक्षारोपण का क्या महत्व है?
(ख) छाया किस प्रकार बनती है?
(ग) ऊर्जा के प्रमुख स्रोतों का वर्णन कीजिए।
(घ) वायुमंडल में कौन–कौन सी गैसें पाई जाती हैं?
(ङ) आणविक बल से आप क्या समझते हैं?

2. रिक्त स्थानों की पूर्ति कीजिए–
(क) पेड़–पौधे _____ को शुद्ध करते हैं।
(ख) सूर्यग्रहण _____ के दिन होता है।
(ग) चूना पत्थर चूना तथा _____ बनाने के काम आता है।
(घ) केंची एक _____ है।
(ङ) एक ही पदार्थ से अनेक _____ बनाई जा सकती है।

3. सही कथन के सामने 'सत्य' तथा गलत कथन के सामने 'असत्य' लिखिए–
(क) रेडियोधर्मी प्रदूषण मानव निर्मित नहीं है। _____
(ख) ग्रहण प्रत्येक पूर्णिमा व अमावस्या को पड़ता है। _____
(ग) पृथ्वी ठोस चट्टानों से बनी है। _____
(घ) बहती पवन में ऊर्जा नहीं होती है। _____
(ङ) ऑक्सीजन जलने में सहायक है। _____

4. सही जोड़े बनाइए–

(क) अक्रियाशील गैस	• 9 मीटर
(ख) फीताकृमि	• नाइट्रोजन
(ग) आहार नाल की लंबाई	• विलेय
(घ) चीनी	• परजीवी जंतु

4 G Books

वार्षिक परीक्षा
विज्ञान मंथन

समय : ..... **कक्षा–6** **पूर्णांक : .....**

नोट–सभी प्रश्न करने अनिवार्य हैं। स्वच्छता का विशेष ध्यान रखें।

(क) सही विकल्प के सामने सही (✓) का चिह्न लगाइए–

1. दाब का मात्रक है—
   (i) न्यूटन ☐ (ii) पास्कल ☐ (iii) वॉट ☐
2. जलने की क्रिया में सहायक गैस है—
   (i) नाइट्रोजन ☐ (ii) ऑक्सीजन ☐ (iii) ओजोन ☐
3. रंगीन वस्तु की छाया बनती है—
   (i) रंगीन ☐ (ii) सफेद ☐ (iii) काली ☐

(ख) रिक्त स्थानों की पूर्ति कीजिए–

1. दो सतह के बीच कार्य करने वाले बल को _____ कहते हैं।
2. भार की SI इकाई _____ है।
3. पृथ्वी के चारों ओर की वायु की परत _____ कहलाती है।
4. माचिस की तीली का जलना _____ परिवर्तन है।
5. _____ वाले जंतु कशेरुकी कहलाते हैं।

(ग) निम्नलिखित के दो उदाहरण लिखिए–

1. आवर्ती गति _____ _____
2. दीप्त वस्तु _____ _____
3. तीव्र परिवर्तन _____ _____
4. जलोद्भिद पौधे _____ _____
5. उभयचर _____ _____

(घ) निम्नलिखित प्रश्नों के उत्तर दीजिए–

1. घर्षण बल का वर्णन कीजिए।
2. मापक पद्धति इकाइयों की आवश्यकता क्यों होती है?
3. वायु के संघटक कौन–कौन से हैं?
4. सूची छिद्र कैमरे का वर्णन कीजिए।
5. क्रिस्टलीकरण से आप क्या समझते हैं?

4 G Books

वार्षिक परीक्षा
विज्ञान मंथन

समय : ..... **कक्षा–6** **पूर्णांक : .....**

नोट–सभी प्रश्न करने अनिवार्य हैं। स्वच्छता का विशेष ध्यान रखें।

(क) सही विकल्प के सामने सही (✓) का चिह्न लगाइए–

1. दाब का मात्रक है—
   (i) न्यूटन ☐ (ii) पास्कल ☐ (iii) वॉट ☐
2. जलने की क्रिया में सहायक गैस है—
   (i) नाइट्रोजन ☐ (ii) ऑक्सीजन ☐ (iii) ओजोन ☐
3. रंगीन वस्तु की छाया बनती है—
   (i) रंगीन ☐ (ii) सफेद ☐ (iii) काली ☐

(ख) रिक्त स्थानों की पूर्ति कीजिए–

1. दो सतह के बीच कार्य करने वाले बल को _____ कहते हैं।
2. भार की SI इकाई _____ है।
3. पृथ्वी के चारों ओर की वायु की परत _____ कहलाती है।
4. माचिस की तीली का जलना _____ परिवर्तन है।
5. _____ वाले जंतु कशेरुकी कहलाते हैं।

(ग) निम्नलिखित के दो उदाहरण लिखिए–

1. आवर्ती गति _____ _____
2. दीप्त वस्तु _____ _____
3. तीव्र परिवर्तन _____ _____
4. जलोद्भिद पौधे _____ _____
5. उभयचर _____ _____

(घ) निम्नलिखित प्रश्नों के उत्तर दीजिए–

1. घर्षण बल का वर्णन कीजिए।
2. मापक पद्धति इकाइयों की आवश्यकता क्यों होती है?
3. वायु के संघटक कौन–कौन से हैं?
4. सूची छिद्र कैमरे का वर्णन कीजिए।
5. क्रिस्टलीकरण से आप क्या समझते हैं?

वार्षिक परीक्षा
विज्ञान मंथन

समय : ..... **कक्षा–7** **पूर्णांक : .....**

नोट–सभी प्रश्न करने अनिवार्य हैं। स्वच्छता का विशेष ध्यान रखें।

(क) निम्नलिखित प्रश्नों के उत्तर दीजिए–

1. चक्रवात किसे कहते हैं?
2. वनों को हरे फेफड़ें क्यों कहते हैं?
3. तापमान को प्रभावित करने वाले कारक कौन–कौन से हैं?
4. जल के विविध स्रोत क्या हैं?
5. मृदा के प्रमुख प्रकारों का वर्णन कीजिए।

(ख) रिक्त स्थानों की पूर्ति कीजिए–

1. वायु दिक्सूचक एक _____ है।
2. एक खाद्य शृंखला में हरे पौधों को _____ कहते हैं।
3. जल द्वारा पौधों में _____ का परिवहन होता है।
4. मृदा जीवन के लिए _____ है।
5. बाह्य दलपुंज _____ का बना होता है।

(ग) सही कथन के सामने सही (✓) तथा गलत कथन के सामने गलत (✗) का चिह्न लगाइए–

1. रेजिन वन उत्पाद नहीं है। ☐
2. ध्रुवीय भालू का रंग काला होता है। ☐
3. समुद्र जल का मुख्य स्रोत है। ☐
4. मृदा जल का अवशोषण करती है। ☐
5. रेशम के कीड़े कोकून में मारे जाते हैं। ☐

(घ) सही विकल्प के सामने सही (✓) का चिह्न लगाइए–

1. भारी वर्षा के कारण कौन–सी प्राकृतिक आपदा होती है?
   (i) भूकंप ☐ (ii) बाढ़ ☐ (iii) सुनामी ☐
2. फल का मादा भाग है—
   (i) दलपुंज ☐ (ii) स्त्रीकेंसर ☐ (iii) पुंकेसर ☐
3. वायवीय श्वसन किसकी उपस्थिति में होता है?
   (i) नाइट्रोजन ☐ (ii) ऑक्सीजन ☐ (iii) हाइड्रोजन ☐

4 G Books

वार्षिक परीक्षा
विज्ञान मंथन

समय : ..... कक्षा–7 पूर्णांक : .....

नोट–सभी प्रश्न करने अनिवार्य हैं। स्वच्छता का विशेष ध्यान रखें।

(क) निम्नलिखित प्रश्नों के उत्तर दीजिए–
1. चक्रवात किसे कहते हैं?
2. वनों को हरे फेफड़ें क्यों कहते हैं?
3. तापमान को प्रभावित करने वाले कारक कौन–कौन से हैं?
4. जल के विविध स्रोत क्या हैं?
5. मृदा के प्रमुख प्रकारों का वर्णन कीजिए।

(ख) रिक्त स्थानों की पूर्ति कीजिए–
1. वायु दिक्सूचक एक _____ है।
2. एक खाद्य शृंखला में हरे पौधों को _____ कहते हैं।
3. जल द्वारा पौधों में _____ का परिवहन होता है।
4. मृदा जीवन के लिए _____ है।
5. बाह्य दलपुंज _____ का बना होता है।

(ग) सही कथन के सामने सही (✓) तथा गलत कथन के सामने गलत (✗) का चिह्न लगाइए–
1. रेजिन वन उत्पाद नहीं है। ☐
2. ध्रुवीय भालू का रंग काला होता है। ☐
3. समुद्र जल का मुख्य स्रोत है। ☐
4. मृदा जल का अवशोषण करती है। ☐
5. रेशम के कीड़े कोकून में मारे जाते हैं। ☐

(घ) सही विकल्प के सामने सही (✓) का चिह्न लगाइए–
1. भारी वर्षा के कारण कौन–सी प्राकृतिक आपदा होती है?
   (i) भूकंप ☐ (ii) बाढ़ ☐ (iii) सुनामी ☐
2. फल का मादा भाग है—
   (i) दलपुंज ☐ (ii) स्त्रीकेंसर ☐ (iii) पुंकेसर ☐
3. वायवीय श्वसन किसकी उपस्थिति में होता है?
   (i) नाइट्रोजन ☐ (ii) ऑक्सीजन ☐ (iii) हाइड्रोजन ☐

वार्षिक परीक्षा
विज्ञान मंथन

समय : ..... **कक्षा-8** **पूर्णांक : .....**

नोट–सभी प्रश्न करने अनिवार्य हैं। स्वच्छता का विशेष ध्यान रखें।

(क) निम्नलिखित प्रश्नों के उत्तर दीजिए–

1. सौर ऊर्जा के उपयोग लिखिए।
2. आँख की समायोजन क्षमता से क्या तात्पर्य है?
3. वन हमारे लिए कैसे उपयोगी है?
4. जीवद्रव्य से आप क्या समझते हैं?
5. जीवाणु में प्रजनन विधि का वर्णन चित्र द्वारा कीजिए।

(ख) रिक्त स्थानों की पूर्ति कीजिए–

1. कार्य करने की क्षमता को _____ कहते हैं।
2. सात रंगों की पट्टी को _____ कहते हैं।
3. वन पृथ्वी का लगभग _____ प्रतिशत क्षेत्र घेरे हैं।
4. कोशिका शब्द _____ ने प्रचलित किया था।
5. बीमारियाँ फैलाने वाले सूक्ष्म जीवों को _____ कहते हैं।
6. पदार्थ का दहन एक _____ क्रिया है।

(ग) सही विकल्प के सामने सही (✓) का चिह्न लगाइए–

1. एथलीट फुट बीमारी होती है—
   (i) वायरस द्वारा ☐ (ii) कवक द्वारा ☐ (iii) जीवाणु द्वारा ☐
2. विटामिन A की कमी से कौन-सा रोग होता है?
   (i) बेरी-बेरी ☐ (ii) रतौंधी ☐ (iii) स्कर्वी ☐
3. फसल को बोरों में भरकर सुरक्षित स्थान पर रखना कहलाता है—
   (i) सिंचाई ☐ (ii) भंडारण ☐ (iii) जुताई ☐

(घ) सही कथन के सामने सही (✓) तथा गलत कथन के सामने गलत (✗) का चिह्न लगाइए–

1. सूर्य में नाभिकीय विखंडन से ऊर्जा उत्पन्न होती है। ☐
2. सबसे शुद्ध जल तालाब का होता है। ☐
3. वनोन्मूलन में सूखा और बाढ़ आती है। ☐
4. सुरक्षा उपचार में अच्छा है। ☐
5. अवर्णीलवक रंगहीन मूलक हैं। ☐
6. सूक्ष्मजीव रोग फैलाते हैं। ☐

4 G Books

वार्षिक परीक्षा
विज्ञान मंथन

समय : ..... कक्षा-8 पूर्णांक : .....

नोट–सभी प्रश्न करने अनिवार्य हैं। स्वच्छता का विशेष ध्यान रखें।

(क) निम्नलिखित प्रश्नों के उत्तर दीजिए–
1. सौर ऊर्जा के उपयोग लिखिए।
2. आँख की समायोजन क्षमता से क्या तात्पर्य है?
3. वन हमारे लिए कैसे उपयोगी है?
4. जीवद्रव्य से आप क्या समझते हैं?
5. जीवाणु में प्रजनन विधि का वर्णन चित्र द्वारा कीजिए।

(ख) रिक्त स्थानों की पूर्ति कीजिए–
1. कार्य करने की क्षमता को _____ कहते हैं।
2. सात रंगों की पट्टी को _____ कहते हैं।
3. वन पृथ्वी का लगभग _____ प्रतिशत क्षेत्र घेरे हैं।
4. कोशिका शब्द _____ ने प्रचलित किया था।
5. बीमारियाँ फैलाने वाले सूक्ष्म जीवों को _____ कहते हैं।
6. पदार्थ का दहन एक _____ क्रिया है।

(ग) सही विकल्प के सामने सही (✓) का चिह्न लगाइए–
1. एथलीट फुट बीमारी होती है—
   (i) वायरस द्वारा ☐ (ii) कवक द्वारा ☐ (iii) जीवाणु द्वारा ☐
2. विटामिन A की कमी से कौन-सा रोग होता है?
   (i) बेरी-बेरी ☐ (ii) रतौंधी ☐ (iii) स्कर्वी ☐
3. फसल को बोरों में भरकर सुरक्षित स्थान पर रखना कहलाता है—
   (i) सिंचाई ☐ (ii) भंडारण ☐ (iii) जुताई ☐

(घ) सही कथन के सामने सही (✓) तथा गलत कथन के सामने गलत (✗) का चिह्न लगाइए–
1. सूर्य में नाभिकीय विखंडन से ऊर्जा उत्पन्न होती है। ☐
2. सबसे शुद्ध जल तालाब का होता है। ☐
3. वनोन्मूलन में सूखा और बाढ़ आती है। ☐
4. सुरक्षा उपचार में अच्छा है। ☐
5. अवर्णीलवक रंगहीन मूलक हैं। ☐
6. सूक्ष्मजीव रोग फैलाते हैं। ☐

Yearly Examination

4 G Books

Blue Berry English Reader

Time : _____ **Class-I** M.M. :_____

Note : All questions are compulsory :

A. Fill in the blanks :

1. An elephant _____ an umbrella.
2. The pigeon is white but the crow is _____.
3. The short hand showing the _____.
4. A_____ enemy is better than a foolish friend.
5. The newspaper is _____ the table.

B. Match the following :

• Clock on	• time
• Long hand	• ding dong
• Short hand	• wall
• Sound	• hours
• Clock tells	• minute

C. Put a tick (✓) for true and a cross (✗) for false sentences :

1. Milk is on the table. ☐
2. The rider is on the horse. ☐
3. There are six days in a week. ☐
4. The clothes are in the box. ☐
5. The clock tells time to one and all. ☐

D. Complete the following spellings :

1. Ro _ nd	2. Min _ tes
3. Ho _ r	4. Sh _ rt
5. Clo _ k	6. L _ ng
7. B _ rd	8. M _ th _ r
9. Eg _	10. C _ ttl _

E. Answer the following questions :

1. Who is Neha's mother?
2. Is the boat under the bridge?
3. What are John and Anil doing?
4. How is the clock in shape and size?
5. What was the monkey doing?
6. Who is better than a foolish friend?

Yearly Examination

4 G Books

Blue Berry English Reader

Time : _____ **Class-I** M.M. :_____

Note : All questions are compulsory :

A. Fill in the blanks :

1. An elephant _____ an umbrella.
2. The pigeon is white but the crow is _____.
3. The short hand showing the _____.
4. A_____ enemy is better than a foolish friend.
5. The newspaper is _____ the table.

B. Match the following :

• Clock on	• time
• Long hand	• ding dong
• Short hand	• wall
• Sound	• hours
• Clock tells	• minute

C. Put a tick (✓) for true and a cross (✗) for false sentences :

1. Milk is on the table. ☐
2. The rider is on the horse. ☐
3. There are six days in a week. ☐
4. The clothes are in the box. ☐
5. The clock tells time to one and all. ☐

D. Complete the following spellings :

1. Ro _ nd	2. Min _ tes
3. Ho _ r	4. Sh _ rt
5. Clo _ k	6. L _ ng
7. B _ rd	8. M _ th _ r
9. Eg _	10. C _ ttl _

E. Answer the following questions :

1. Who is Neha's mother?
2. Is the boat under the bridge?
3. What are John and Anil doing?
4. How is the clock in shape and size?
5. What was the monkey doing?
6. Who is better than a foolish friend?

Yearly Examination

4 G Books

Blue Berry English Reader

Time : _____ **Class-II** M.M. :_____

Note : All questions are compulsory :

A. Fill in the blanks :

1. People have different ways of _____ God.
2. The earthen pot was tied with a _____.
3. He sat and wept by the river _____.
4. There was a poor weak rat _____ Chintu.
5. Priya laughed because she had _____.

B. Match the following :

• Tree	• Ring
• Wood	• Ghee
• Iron	• Fruits
• Gold	• Chair
• Milk	• Engine

C. Put a tick (✓) for true and a cross (✗) for false sentence :

1. The Christians go to Gurdwara to offer their prayers. ☐
2. The woodcutter lived in Rampur. ☐
3. The God of water heard the cries of woodcutter. ☐
4. The farmer was eating the food in the field. ☐
5. One night Mangu had a vary bad dream. ☐

D. Write the plurals of the following words :

1. Tree	_____	2. River	_____
3. Axe	_____	4. Branch	_____
5. Cry	_____	6. Table	_____
7. Ox	_____	8. Chair	_____
9. Box	_____	10. Fruit	_____

E. Answer the following questions :

1. Where do the Hindus say their prayer?
2. Where are the ripe fruits in the garden?
3. Why did the tiger's cheek start bleeding?
4. What prize did the woodcutter get from the God for his honesty?
5. What did they had at the birthday party?
6. What type of girl Priya was?

Yearly Examination

4 G Books

Blue Berry English Reader

Time : _____ **Class-II** M.M. :_____

Note : All questions are compulsory :

A. Fill in the blanks :

1. People have different ways of _____ God.
2. The earthen pot was tied with a _____.
3. He sat and wept by the river _____.
4. There was a poor weak rat _____ Chintu.
5. Priya laughed because she had _____.

B. Match the following :

• Tree	• Ring
• Wood	• Ghee
• Iron	• Fruits
• Gold	• Chair
• Milk	• Engine

C. Put a tick (✓) for true and a cross (✗) for false sentence :

1. The Christians go to Gurdwara to offer their prayers. ☐
2. The woodcutter lived in Rampur. ☐
3. The God of water heard the cries of woodcutter. ☐
4. The farmer was eating the food in the field. ☐
5. One night Mangu had a vary bad dream. ☐

D. Write the plurals of the following words :

1. Tree	_____	2. River	_____
3. Axe	_____	4. Branch	_____
5. Cry	_____	6. Table	_____
7. Ox	_____	8. Chair	_____
9. Box	_____	10. Fruit	_____

E. Answer the following questions :

1. Where do the Hindus say their prayer?
2. Where are the ripe fruits in the garden?
3. Why did the tiger's cheek start bleeding?
4. What prize did the woodcutter get from the God for his honesty?
5. What did they had at the birthday party?
6. What type of girl Priya was?

Yearly Examination

4 G Books

Blue Berry English Reader

Time : _____ **Class-III** M.M. :_____

Note : All questions are compulsory :

A. Fill in the blanks :

1. You put your _____ into my throat.
2. They gave them _____ and peanuts.
3. You will _____ for your laziness.
4. After passing matriculation, he went to _____.
5. The king and _____ took off their clothes.

B. Make sentences with the following words :

1. Village : _____.
2. Animals : _____.
3. Month : _____.
4. Happy : _____.
5. Forest : _____.

C. Put a tick (✓) for true and a cross (✗) for false sentences :

1. We should never do a service to a bad person. ☐
2. Mohit and his brother went to see the zoo. ☐
3. Mahatma Gandhi went to London for higher education. ☐
4. Ram's mother appreciated him instead of punishing. ☐
5. Last Monday Rahul finished his home task early. ☐

D. Match the following :

1. We should	• saw many animals and birds.
2. We	• was afraid.
3. The man had	• not run on the road.
4. Mohit and his sister	• whitewash our houses.
5. The crane	• a long pipe in his hands.

E. Answer the following questions :

1. Where is the Taj situated?
2. What did Raju see in the village?
3. What is the Qutub Minar made of?
4. What did Ram steal from his neighbour's house?
5. What do the children do on Diwali?

Yearly Examination

4 G Books

Blue Berry English Reader

Time : _____ **Class-III** M.M. :_____

Note : All questions are compulsory :

A. Fill in the blanks :

1. You put your _____ into my throat.
2. They gave them _____ and peanuts.
3. You will _____ for your laziness.
4. After passing matriculation, he went to _____.
5. The king and _____ took off their clothes.

B. Make sentences with the following words :

1. Village : _____.
2. Animals : _____.
3. Month : _____.
4. Happy : _____.
5. Forest : _____.

C. Put a tick (✓) for true and a cross (✗) for false sentences :

1. We should never do a service to a bad person. ☐
2. Mohit and his brother went to see the zoo. ☐
3. Mahatma Gandhi went to London for higher education. ☐
4. Ram's mother appreciated him instead of punishing. ☐
5. Last Monday Rahul finished his home task early. ☐

D. Match the following :

1. We should	• saw many animals and birds.
2. We	• was afraid.
3. The man had	• not run on the road.
4. Mohit and his sister	• whitewash our houses.
5. The crane	• a long pipe in his hands.

E. Answer the following questions :

1. Where is the Taj situated?
2. What did Raju see in the village?
3. What is the Qutub Minar made of?
4. What did Ram steal from his neighbour's house?
5. What do the children do on Diwali?

Yearly Examination

4 G Books

Blue Berry English Reader

Time : _____ **Class-IV** M.M. :_____

Note : All questions are compulsory :

A. Fill in the blanks :

1. The Aryans lived nearby the _____ so that they can get the water easily.
2. The pan with the _____ was lighter.
3. The old lady thought of _____ a nice girl.
4. Everyone must find time for _____ good books.
5. Once upon a time, there was a _____ in a village.

B. Add 'ing' in the following verbs :

1. Open _____ 2. Place _____
3. Receive _____ 4. Wash _____
5. Rub _____

C. Put a tick (✓) for true and a cross (✗) for false sentence :

1. Books are the treasure house of garbage. ☐
2. He wanted to buy a house with his money. ☐
3. All rivers rise from the Himalayas in our country. ☐
4. The Koel is brown in colour. ☐
5. The dove was chased by a hawk. ☐

D. Match opposite words :

• UP	• Small
• Big	• Push
• Fast	• Down
• Quiet	• Slow
• Pull	• Noisy

E. Answer the following questions :

1. Where do the rivers carry water at last?
2. Where does the Koel go in the winter?
3. What topic did Kalpana Chawla choose for her project?
4. Why did old lady adopt the last girl?
5. Why did the grasshopper feel miserable?
6. What did the king do to save the dove?

Yearly Examination

4 G Books

Blue Berry English Reader

Time : _____ **Class-IV** M.M. :_____

Note : All questions are compulsory :

A. Fill in the blanks :

1. The Aryans lived nearby the _____ so that they can get the water easily.
2. The pan with the _____ was lighter.
3. The old lady thought of _____ a nice girl.
4. Everyone must find time for _____ good books.
5. Once upon a time, there was a _____ in a village.

B. Add 'ing' in the following verbs :

1. Open _____ 2. Place _____
3. Receive _____ 4. Wash _____
5. Rub _____

C. Put a tick (✓) for true and a cross (✗) for false sentence :

1. Books are the treasure house of garbage. ☐
2. He wanted to buy a house with his money. ☐
3. All rivers rise from the Himalayas in our country. ☐
4. The Koel is brown in colour. ☐
5. The dove was chased by a hawk. ☐

D. Match opposite words :

• UP	• Small
• Big	• Push
• Fast	• Down
• Quiet	• Slow
• Pull	• Noisy

E. Answer the following questions :

1. Where do the rivers carry water at last?
2. Where does the Koel go in the winter?
3. What topic did Kalpana Chawla choose for her project?
4. Why did old lady adopt the last girl?
5. Why did the grasshopper feel miserable?
6. What did the king do to save the dove?

Yearly Examination

4 G Books

Blue Berry English Reader

Time : _____ **Class-V** M.M. :_____

Note : All questions are compulsory :

A. Fill in the blanks :

1. The Pandavas acted _____ and secretly dug a _____.
2. Vikramaditya's palace _____ the heaps of ruins.
3. The mouse and the frog started living _____.
4. In the evening people visit one _____.
5. Father would protect the little _____ from wild beats.

B. Make sentences of your own with the given words :

1. Wise : _____
2. Foolish : _____
3. Careless : _____
4. Tall : _____
5. Sad : _____

C. Put a tick (✓) for true and a cross (✗) for false sentences :

1. The farmer did not care for the mongoose. ☐
2. The tree was the home of a flock of wild geese. ☐
3. Father wolf wanted to save Mowgli. ☐
4. Akela promised to come back to the forest. ☐
5. The Camel and the Jackal went to the sugarcane field. ☐

D. Who said the following and to whom?

1. Tell all of them not to forget me. _____ _____
2. I am old and about to die soon. _____ _____
3. We shall name him Mowgli. _____ _____
4. He will die here in the forest. _____ _____
5. We shall never forget you. _____ _____

E. Answer the following questions :

1. Who was the King of Ujjain?
2. When did Mowgli promise to return?
3. Why did the geese pretend to be dead?
4. When does a solar eclipse occur?
5. Why did the farmer kill the mongoose?
6. Why was the Brahmin woman crying?

Yearly Examination

4 G Books

Blue Berry English Reader

Time : _____ **Class-V** M.M. :_____

Note : All questions are compulsory :

A. Fill in the blanks :

1. The Pandavas acted _____ and secretly dug a _____.
2. Vikramaditya's palace _____ the heaps of ruins.
3. The mouse and the frog started living _____.
4. In the evening people visit one _____.
5. Father would protect the little _____ from wild beats.

B. Make sentences of your own with the given words :

1. Wise : _____
2. Foolish : _____
3. Careless : _____
4. Tall : _____
5. Sad : _____

C. Put a tick (✓) for true and a cross (✗) for false sentences :

1. The farmer did not care for the mongoose. ☐
2. The tree was the home of a flock of wild geese. ☐
3. Father wolf wanted to save Mowgli. ☐
4. Akela promised to come back to the forest. ☐
5. The Camel and the Jackal went to the sugarcane field. ☐

D. Who said the following and to whom?

1. Tell all of them not to forget me. _____ _____
2. I am old and about to die soon. _____ _____
3. We shall name him Mowgli. _____ _____
4. He will die here in the forest. _____ _____
5. We shall never forget you. _____ _____

E. Answer the following questions :

1. Who was the King of Ujjain?
2. When did Mowgli promise to return?
3. Why did the geese pretend to be dead?
4. When does a solar eclipse occur?
5. Why did the farmer kill the mongoose?
6. Why was the Brahmin woman crying?

Yearly Examination

4 G Books

Blue Berry English Reader

Time : _____ **Class-VI** M.M. :_____

Note : All questions are compulsory :

A. Fill in the blanks :

1. Two and _____ make four.
2. Shah Jahan was the son of _____.
3. Ashoka was crowned as king in _____
4. The merchant purchased _____ his hungry cat.
6. Carpenter was _____ with simple wear.

B. Arrange the following groups of words to form sentences :

1. my best friend Amit is
2. play We hockey everyday evening the in
3. a dog faithful The animal is
4. very fast horse runs The
5. was Prime Minister Pt. Jawaharlal Nehru of India first the
6. a girl is Simmi beautiful

C. Match the following :

1.	Ashoka was	• burst out laughing at this.
2.	The merchant	• lived with his parents in mountain.
3.	A neighbour	• did not believe in Kong Hia Chiang's ability.
4.	Kong Hia Chiang	• initited into Buddhism.
5.	The jailer	• of his one day asked him.

D. Put a tick (✓) for true and cross (✗) for false sentences :

1. Guru Nanak was born on 14th November 1469. ☐
2. Bagheera was the black panther. ☐
3. The Taj is about 10 kilometres far from Agra. ☐
4. Kalinga was a poor kingdom. ☐
5. He sold the wood in the market and purchased pens. ☐

E. Answer the following questions :

1. How did Arun start saving money?
2. Why did the carpenter think a debt, which he must pay?
3. What quality did Kong Hia Chiang have?
4. Why was Nanak sent to Sultanpur?
5. What did Mowgli have to learn?

Yearly Examination

4 G Books

Blue Berry English Reader

Time : _____ **Class-VI** M.M. :_____

Note : All questions are compulsory :

A. Fill in the blanks :

1. Two and _____ make four.
2. Shah Jahan was the son of _____.
3. Ashoka was crowned as king in _____
4. The merchant purchased _____ his hungry cat.
6. Carpenter was _____ with simple wear.

B. Arrange the following groups of words to form sentences :

1. my best friend Amit is
2. play We hockey everyday evening the in
3. a dog faithful The animal is
4. very fast horse runs The
5. was Prime Minister Pt. Jawaharlal Nehru of India first the
6. a girl is Simmi beautiful

C. Match the following :

1.	Ashoka was	• burst out laughing at this.
2.	The merchant	• lived with his parents in mountain.
3.	A neighbour	• did not believe in Kong Hia Chiang's ability.
4.	Kong Hia Chiang	• initited into Buddhism.
5.	The jailer	• of his one day asked him.

D. Put a tick (✓) for true and cross (✗) for false sentences :

1. Guru Nanak was born on 14th November 1469. ☐
2. Bagheera was the black panther. ☐
3. The Taj is about 10 kilometres far from Agra. ☐
4. Kalinga was a poor kingdom. ☐
5. He sold the wood in the market and purchased pens. ☐

E. Answer the following questions :

1. How did Arun start saving money?
2. Why did the carpenter think a debt, which he must pay?
3. What quality did Kong Hia Chiang have?
4. Why was Nanak sent to Sultanpur?
5. What did Mowgli have to learn?

Yearly Examination

4 G Books

Blue Berry English Reader

Time : _____ **Class-VII** M.M. :_____

Note : All questions are compulsory :

A. Fill in the blanks :

1. Mother Teresa get the Nobel Peace Prize in _____.
2. Teerra used to _____ for his living.
3. The news spread from _____ to _____.
4. Latter on they would be _____ as slave.
5. The cloth Sujaan wove was _____.

B. Make sentences using the following words :

1. truth : _____
2. mankind : _____
3. saved : _____
4. abolished : _____
5. quality : _____

C. Put a tick (✓) for true and a cross (✗) for false sentences :

1. Mahavir's teaching were appreciated in middle India. ☐
2. Mother Teresa was born on August 27, 1910. ☐
3. The villagers seek blessing from the Brahmin. ☐
4. The Sultan did not appear before the Qazi. ☐
5. God gave a lot of wealth to Sujaan. ☐

D. Match the following :

• a gang of	• socks
• a bunch of	• students
• a class of	• keys
• a herd of	• robbers
• a pair of	• cattle

E. Answer the following questions :

1. Why did Vardhman leave his home?
2. How can we protect the nature?
3. Who was Socrates? Where was he born?
4. Why did Shri Ram get surprised?
5. What did God ask the weaver to do?

Yearly Examination

4 G Books

Blue Berry English Reader

Time : _____ **Class-VII** M.M. :_____

Note : All questions are compulsory :

A. Fill in the blanks :

1. Mother Teresa get the Nobel Peace Prize in _____.
2. Teerra used to _____ for his living.
3. The news spread from _____ to _____.
4. Latter on they would be _____ as slave.
5. The cloth Sujaan wove was _____.

B. Make sentences using the following words :

1. truth : _____
2. mankind : _____
3. saved : _____
4. abolished : _____
5. quality : _____

C. Put a tick (✓) for true and a cross (✗) for false sentences :

1. Mahavir's teaching were appreciated in middle India. ☐
2. Mother Teresa was born on August 27, 1910. ☐
3. The villagers seek blessing from the Brahmin. ☐
4. The Sultan did not appear before the Qazi. ☐
5. God gave a lot of wealth to Sujaan. ☐

D. Match the following :

• a gang of	• socks
• a bunch of	• students
• a class of	• keys
• a herd of	• robbers
• a pair of	• cattle

E. Answer the following questions :

1. Why did Vardhman leave his home?
2. How can we protect the nature?
3. Who was Socrates? Where was he born?
4. Why did Shri Ram get surprised?
5. What did God ask the weaver to do?

Yearly Examination

4 G Books

Blue Berry English Reader

Time : _____ **Class-VIII** M.M. :_____

Note : All questions are compulsory :

A. Fill in the blanks :

1. She always tried to _____ people.
2. Trees play an important part in the _____ of soil.
3. The word paper is derived from _____.
4. In a village of _____ there lived a poor shephered.
5. Salim was the _____ man of the village.

B. Write the antonyms of the following words :

1. love
2. never
3. Ring
4. Servant
5. Friend

C. Fill in the blanks with suitable prepositions :

1. Father is _____ home.
2. Beware _____ mad dogs.
3. He died _____ plague.
4. The policeman is _____ duty.
5. Be kind _____ the poor.

D. Make sentences using the following words :

1. huge
2. president
3. silence
4. princess
5. purpose

E. Answer the following questions :

1. What is Braille? Who invented it?
2. Why do we celebrate 'Vanamahotsava'?
3. Why did Tara feel neglected?
4. Why was the wife of Shiv Nath puzzled?
5. Who was Vali? Whose did he live?

Yearly Examination

4 G Books

Blue Berry English Reader

Time : _____ **Class-VIII** M.M. :_____

Note : All questions are compulsory :

A. Fill in the blanks :

1. She always tried to _____ people.
2. Trees play an important part in the _____ of soil.
3. The word paper is derived from _____.
4. In a village of _____ there lived a poor shephered.
5. Salim was the _____ man of the village.

B. Write the antonyms of the following words :

1. love
2. never
3. Ring
4. Servant
5. Friend

C. Fill in the blanks with suitable prepositions :

1. Father is _____ home.
2. Beware _____ mad dogs.
3. He died _____ plague.
4. The policeman is _____ duty.
5. Be kind _____ the poor.

D. Make sentences using the following words :

1. huge
2. president
3. silence
4. princess
5. purpose

E. Answer the following questions :

1. What is Braille? Who invented it?
2. Why do we celebrate 'Vanamahotsava'?
3. Why did Tara feel neglected?
4. Why was the wife of Shiv Nath puzzled?
5. Who was Vali? Whose did he live?

वार्षिक परीक्षा
गणित मंथन

समय : ..... **कक्षा–1** **पूर्णांक : .....**

नोट–सभी प्रश्न हल करने अनिवार्य हैं।

1. निम्न मुद्राओं को गिनिए एवं उचित धनराशि लिखिए–

(i) (ii)

_____ _____

2. निम्न आकृतियों को पहचानकर उनके नाम से मिलाइए–

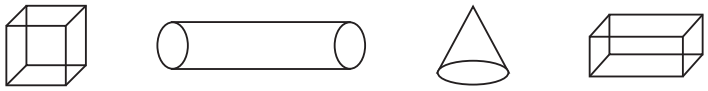

घनाभ | शंकु | बेलन | घन

3. इबारती प्रश्न–

(i) एक डिब्बे में 15 लड्डू हैं। बताइए, 4 डिब्बों में कितने लड्डू होंगे?

(ii) एक दुकान पर 26 मूली और 42 गाजर हैं। दुकान में कुल कितने गाजर–मूली हैं?

(iii) ₹ 100 प्राप्त करने के लिए आपको ₹ 10 के कितने नोट मिलाने चाहिए?

4. रिक्त स्थानों की पूर्ति कीजिए–

(i) धातु से बनी मुद्रा _____ कहलाती है।

(ii) जोकर की टोपी _____ का उदाहरण है।

(iii) किसी सूचना के समूह को _____ कहते हैं।

5. निम्न को पूरा कीजिए–

3 + 3 + 3 + 3 = □ = 3 × □ = □

6 + 6 + 6 + 6 + 6 + 6 □ = □ × □ = □

6. भाग कीजिए–

6) 48 5) 15 9) 36 4) 16 6) 42

4 G Books

वार्षिक परीक्षा
गणित मंथन

समय : ..... कक्षा–1 पूर्णांक : .....

नोट–सभी प्रश्न हल करने अनिवार्य हैं।

1. निम्न मुद्राओं को गिनिए एवं उचित धनराशि लिखिए–

(i) (ii)

2. निम्न आकृतियों को पहचानकर उनके नाम से मिलाइए–

घनाभ | शंकु | बेलन | घन

3. इबारती प्रश्न–

(i) एक डिब्बे में 15 लड्डू हैं। बताइए, 4 डिब्बों में कितने लड्डू होंगे?

(ii) एक दुकान पर 26 मूली और 42 गाजर हैं। दुकान में कुल कितने गाजर–मूली हैं?

(iii) ₹ 100 प्राप्त करने के लिए आपको ₹ 10 के कितने नोट मिलाने चाहिए?

4. रिक्त स्थानों की पूर्ति कीजिए–

(i) धातु से बनी मुद्रा _____ कहलाती है।

(ii) जोकर की टोपी _____ का उदाहरण है।

(iii) किसी सूचना के समूह को _____ कहते हैं।

5. निम्न को पूरा कीजिए–

3 + 3 + 3 + 3 = □ = 3 × □ = □

6 + 6 + 6 + 6 + 6 + 6 □ = □ × □ = □

6. भाग कीजिए–

6) 48 5) 15 9) 36 4) 16 6) 42

वार्षिक परीक्षा
गणित मंथन

समय : ..... **कक्षा–2** **पूर्णांक : .....**

नोट–सभी प्रश्न हल करने अनिवार्य हैं।

1. रिक्त स्थानों की पूर्ति कीजिए–

(i) लंबाई मापने के फीते को _____ कहा जाता है।

(ii) सौ से गुणा करने में संख्या के बाद _____ शून्य लिखते हैं।

(iii) रेखाखण्ड मापने के लिए _____ का प्रयोग करते हैं।

(iv) किरण का _____ बिन्दु होता है लेकिन अन्त बिन्दु नहीं होता है।

2. निम्न को जोड़िए एवं घटाइए–

(i)

	₹	पैसे
	15	17
+	41	12

(ii)

	मी	सेमी
	52	98
+	72	12

(iii)

	किग्रा	ग्रा
	35	150
–	12	115

(iv)

	₹	पैसे
	70	82
–	12	24

3. निम्न को स्तंभ में लिखकर हल कीजिए–

(i) 842 + 123 = ☐ (ii) 156 + 914 = ☐

(iii) 615 – 123 = ☐ (iv) 945 – 541 = ☐

(v) 723 × 3 = ☐ (vi) 414 × 5 = ☐

4. इबारती प्रश्न–

(i) 456 तथा 123 का अन्तर ज्ञात कीजिए।

(ii) राहुल के पास 415 कंचों का एक डिब्बा है। बताइए, ऐसी 5 डिब्बों में कितने कंचे होंगे?

(iii) एक व्यक्ति 912 पुस्तकों 4 अलमारियों में रखता है। बताइए, प्रत्येक अलमारी में कितनी पुस्तकें रखी गई हैं?

5. घड़ी में समय देखकर बॉक्स लिखिए–

☐

☐

☐

6. निम्न बिंदुओं को पैमाने की सहायता से मिलाए और रेखाखंड की संख्या लिखिए।

वार्षिक परीक्षा
गणित मंथन

समय : ..... **कक्षा–2** **पूर्णांक : .....**

नोट–सभी प्रश्न हल करने अनिवार्य हैं।

1. रिक्त स्थानों की पूर्ति कीजिए–

(i) लंबाई मापने के फीते को _____ कहा जाता है।

(ii) सौ से गुणा करने में संख्या के बाद _____ शून्य लिखते हैं।

(iii) रेखाखण्ड मापने के लिए _____ का प्रयोग करते हैं।

(iv) किरण का _____ बिन्दु होता है लेकिन अन्त बिन्दु नहीं होता है।

2. निम्न को जोड़िए एवं घटाइए–

(i)

	₹	पैसे
	15	17
+	41	12

(ii)

	मी	सेमी
	52	98
+	72	12

(iii)

	किग्रा	ग्रा
	35	150
–	12	115

(iv)

	₹	पैसे
	70	82
–	12	24

3. निम्न को स्तंभ में लिखकर हल कीजिए–

(i) 842 + 123 = ☐ (ii) 156 + 914 = ☐

(iii) 615 – 123 = ☐ (iv) 945 – 541 = ☐

(v) 723 × 3 = ☐ (vi) 414 × 5 = ☐

4. इबारती प्रश्न–

(i) 456 तथा 123 का अन्तर ज्ञात कीजिए।

(ii) राहुल के पास 415 कंचों का एक डिब्बा है। बताइए, ऐसी 5 डिब्बों में कितने कंचे होंगे?

(iii) एक व्यक्ति 912 पुस्तकों 4 अलमारियों में रखता है। बताइए, प्रत्येक अलमारी में कितनी पुस्तकें रखी गई हैं?

5. घड़ी में समय देखकर बॉक्स लिखिए–

☐

☐

☐

6. निम्न बिंदुओं को पैमाने की सहायता से मिलाए और रेखाखंड की संख्या लिखिए।

वार्षिक परीक्षा
गणित मंथन

समय : ..... **कक्षा–3** **पूर्णांक : .....**

नोट–सभी प्रश्न हल करने अनिवार्य हैं।

1. निम्न कथन 'सत्य' हैं या 'असत्य'–

(i) लीटर का प्रयोग छोटी मात्रा को नापने के लिए करते हैं। (सत्य/असत्य)

(ii) धन की भुजाएँ आपस में बराबर होती है। (सत्य/असत्य)

(iii) जिस संख्या में भाग दिया जाता है, उसे भाजक कहते हैं। (सत्य/असत्य)

(iv) तीन अंकों की सबसे बड़ी संख्या 999 होती है। (सत्य/असत्य)

2. निम्न आकृतियों का परिमाप ज्ञात कीजिए–

3. निम्न को स्तंभ में लिखकर हल कीजिए–

(i)	6235 ÷ 3	= ☐	(ii)	₹ 7.35 × 6	= ☐
(iii)	₹ 36.12 ÷ 4	= ☐	(iv)	₹ 1480 – ₹ 9.40	= ☐
(v)	₹ 84.75 + 256.10	= ☐	(vi)	55 मी + 65 मी	= ☐

4. इबारती प्रश्न–

(i) 7 ली 180 मिली में से 3 ली 216 मिली घटाइए।

(ii) त्रिभुज में तीन भुजा क्रमश: 4, 5 तथा 9 सेमी है। इसका परिमाप बताइए।

(iii) राघव ने 6 किग्रा घी, 8 किग्रा गेहूँ खरीदा, उसने कुल कितना समान खरीदा?

5. नीचे दिए गए अंकों से चार अंकों की सबसे बड़ी और सबसे छोटी संख्या बनाइए–

(i) 2, 8, 6, 3 (ii) 6, 1, 4, 2 (iii) 4, 9, 3, 1

(iv) 9, 6, 0, 2 (v) 5, 9, 2, 0 (vi) 5, 3, 6, 2

6. निम्न गिनतारों पर दर्शाई गई संख्याओं को बताइए–

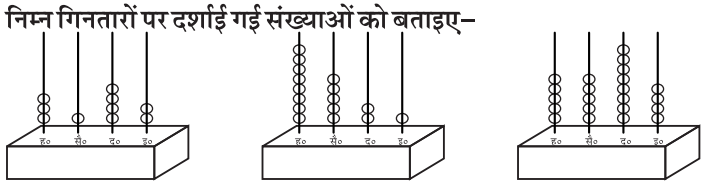

7. निम्न संख्याओं के गुणनफल लिखिए–

52 × 25 = ☐ 24 × 85 = ☐

1534 × 8 = ☐ 187 × 42 = ☐

4 G Books

वार्षिक परीक्षा
गणित मंथन

समय : ..... कक्षा–3 पूर्णांक : .....

नोट–सभी प्रश्न हल करने अनिवार्य हैं।

1. निम्न कथन 'सत्य' हैं या 'असत्य'–

(i) लीटर का प्रयोग छोटी मात्रा को नापने के लिए करते हैं। (सत्य/असत्य)

(ii) धन की भुजाएँ आपस में बराबर होती है। (सत्य/असत्य)

(iii) जिस संख्या में भाग दिया जाता है, उसे भाजक कहते हैं। (सत्य/असत्य)

(iv) तीन अंकों की सबसे बड़ी संख्या 999 होती है। (सत्य/असत्य)

2. निम्न आकृतियों का परिमाप ज्ञात कीजिए–

3. निम्न को स्तंभ में लिखकर हल कीजिए–

(i)	6235 ÷ 3	= ☐	(ii)	₹ 7.35 × 6	= ☐
(iii)	₹ 36.12 ÷ 4	= ☐	(iv)	₹ 1480 – ₹ 9.40	= ☐
(v)	₹ 84.75 + 256.10	= ☐	(vi)	55 मी + 65 मी	= ☐

4. इबारती प्रश्न–

(i) 7 ली 180 मिली में से 3 ली 216 मिली घटाइए।

(ii) त्रिभुज में तीन भुजा क्रमश: 4, 5 तथा 9 सेमी है। इसका परिमाप बताइए।

(iii) राघव ने 6 किग्रा घी, 8 किग्रा गेहूँ खरीदा, उसने कुल कितना समान खरीदा?

5. नीचे दिए गए अंकों से चार अंकों की सबसे बड़ी और सबसे छोटी संख्या बनाइए–

(i) 2, 8, 6, 3 (ii) 6, 1, 4, 2 (iii) 4, 9, 3, 1

(iv) 9, 6, 0, 2 (v) 5, 9, 2, 0 (vi) 5, 3, 6, 2

6. निम्न गिनतारों पर दर्शाई गई संख्याओं को बताइए–

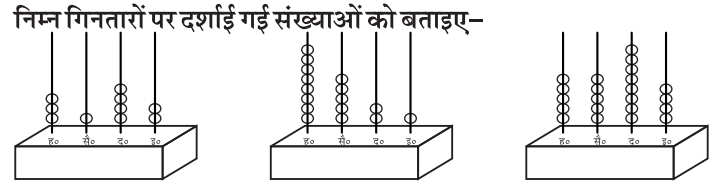

7. निम्न संख्याओं के गुणनफल लिखिए–

52 × 25 = ☐ 24 × 85 = ☐

1534 × 8 = ☐ 187 × 42 = ☐

वार्षिक परीक्षा
गणित मंथन

समय : ..... **कक्षा–4** **पूर्णांक : .....**

नोट–सभी प्रश्न हल करने अनिवार्य हैं।

1. सही विकल्प पर गोला (◯) कीजिए–

(i) 4648 ग्राम में (4.648/46.48) किग्रा होते हैं।

(ii) $\frac{1}{7}, \frac{4}{7}, \frac{3}{7}$ (विजातीय/सजातीय) भिन्न हैं।

(iii) 0° से अधिक परन्तु 90° से कम माप वाले कोणों को (न्यूनकोण/समकोण) कहते हैं।

(iv) 1 सेन्टीमीटर का (सौवाँ/दसवाँ) भाग 1 मिलीमीटर कहलाता है।

2. नीचे दी गई माप के कोणों की रचना कीजिए–

(i) 95° (ii) 30° (iii) 140° (iv) 150°

3. निम्न को परिभाषित कीजिए–

(i) दशमलव (ii) कोण (iii) परिमाप (iv) समतुल्य भिन्न

4. निम्न भिन्नों को हल कीजिए–

(i) $\frac{5}{6}+\frac{7}{9}$ (ii) $\frac{10}{7}-\frac{2}{7}$ (iii) $1\frac{9}{3}-\frac{4}{5}$

(iv) $\frac{3}{13}+\frac{4}{13}+\frac{5}{13}$ (v) $4\frac{1}{15}+2\frac{1}{20}+\frac{5}{45}$ (vi) $4\frac{1}{2}+\frac{1}{2}-1\frac{1}{2}$

5. इबारती प्रश्न–

(i) रमेश ने 8 मी रस्सी में से 5/2 मीटर रस्सी काट दी। बताइए, कितनी रस्सी शेष बची?

(ii) 3 किग्रा 562 ग्राम; 9 किग्रा 672 ग्राम तथा 4 किग्रा 709 ग्राम को जोड़िए।

(iii) एक आयताकार खेत की लम्बाई 12 मीटर, चौड़ाई 14 मीटर है। खेत का परिमाप ज्ञात कीजिए।

6. निम्न दशमलव का मान ज्ञात कीजिए–

(i) 4.80 + 2.58 (ii) 456.146 + 246.12

(iii) 30.005 + 20 + 5.05 (iv) 95.06 – 25.65

(v) 62.506 – 20.09 (vi) 665.607 – 425.529

4 G Books

वार्षिक परीक्षा
गणित मंथन

समय : ..... कक्षा–4 पूर्णांक : .....

नोट–सभी प्रश्न हल करने अनिवार्य हैं।

1. सही विकल्प पर गोला (◯) कीजिए–

(i) 4648 ग्राम में (4.648/46.48) किग्रा होते हैं।

(ii) $\frac{1}{7}, \frac{4}{7}, \frac{3}{7}$ (विजातीय/सजातीय) भिन्न हैं।

(iii) 0° से अधिक परन्तु 90° से कम माप वाले कोणों को (न्यूनकोण/समकोण) कहते हैं।

(iv) 1 सेन्टीमीटर का (सौवाँ/दसवाँ) भाग 1 मिलीमीटर कहलाता है।

2. नीचे दी गई माप के कोणों की रचना कीजिए–

(i) 95° (ii) 30° (iii) 140° (iv) 150°

3. निम्न को परिभाषित कीजिए–

(i) दशमलव (ii) कोण (iii) परिमाप (iv) समतुल्य भिन्न

4. निम्न भिन्नों को हल कीजिए–

(i) $\frac{5}{6}+\frac{7}{9}$ (ii) $\frac{10}{7}-\frac{2}{7}$ (iii) $1\frac{9}{3}-\frac{4}{5}$

(iv) $\frac{3}{13}+\frac{4}{13}+\frac{5}{13}$ (v) $4\frac{1}{15}+2\frac{1}{20}+\frac{5}{45}$ (vi) $4\frac{1}{2}+\frac{1}{2}-1\frac{1}{2}$

5. इबारती प्रश्न–

(i) रमेश ने 8 मी रस्सी में से 5/2 मीटर रस्सी काट दी। बताइए, कितनी रस्सी शेष बची?

(ii) 3 किग्रा 562 ग्राम; 9 किग्रा 672 ग्राम तथा 4 किग्रा 709 ग्राम को जोड़िए।

(iii) एक आयताकार खेत की लम्बाई 12 मीटर, चौड़ाई 14 मीटर है। खेत का परिमाप ज्ञात कीजिए।

6. निम्न दशमलव का मान ज्ञात कीजिए–

(i) 4.80 + 2.58 (ii) 456.146 + 246.12

(iii) 30.005 + 20 + 5.05 (iv) 95.06 – 25.65

(v) 62.506 – 20.09 (vi) 665.607 – 425.529

4 G Books

वार्षिक परीक्षा
गणित मंथन

समय : ..... **कक्षा–5** **पूर्णांक : .....**

नोट–सभी प्रश्न हल करने अनिवार्य हैं।

1. निम्नलिखित राशि का मान बताइए–

(i) 40%, 10 किग्रा (ii) 20%, 6 किग्रा (iii) 10%, 50 सेग्रा
(iv) 10%, 50 सेग्रा (v) 25%, 6 किमी (vi) 6%, 750 रुपये

2. रिक्त स्थानों की पूर्ति कीजिए–

(i) इकाई समय में तय की गई दूरी _____ कहलाती है।
(ii) चाँदे या परकार का प्रयोग करके _____ बनाए जाते हैं।
(iii) वस्तु द्वारा घेरे गए स्थान की मात्रा को _____ कहते हैं।
(iv) जिस मूल्य पर वस्तु की खरीदा जाता है उसे _____ कहते हैं।

3. इमारती प्रश्न–

(i) यदि एक बोतल का क्रय मूल्य ₹ 1814 है। इसके 12% लाभ पर बेचने से क्या मूल्य प्राप्त होगा?
(ii) 180 किमी/घण्टा को मी/सेकण्ड में बदलिए।
(iii) किसी संख्या का 60 के साथ वही अनुपात होगा, जो 9 : 10 है।
(iv) 5 पेटियों में 480 पेज रखे है, तो बताइए 15 पेटियों में कितने पेज रखे होंगे?

4. चाँदे का प्रयोग करके कोण बनाइए–

(i) 40° (ii) 65°
(iii) 160° (iv) 52°

5. घनाभ का आयतन ज्ञात कीजिए–

(i) लं० = 4 सेमी, चौ० = 6 सेमी, ऊँ० = 4 सेमी
(ii) लं० = 8 सेमी, चौ० = 2 सेमी, ऊँ० = 5 सेमी
(iii) लं० = 12 सेमी, चौ० = 15 सेमी, ऊँ० = 2 सेमी
(iv) लं० = 6 सेमी, चौ० = 8 सेमी, ऊँ० = 4 सेमी

6. निम्न को सरल कीजिए–

(i) $8.5 + 0.26 \div 0.13 \times 3.5 - 5.5$ (ii) $20 + (10 \times 3 - 15) + 40 \div 8$

(iii) $3\frac{1}{2} + 2\frac{5}{7} \times \frac{7}{19} - \frac{1}{2} + 2$ (iv) $\frac{9}{22} \times \left(\frac{4}{9} + \frac{1}{6}\right) + \frac{7}{12}$

4 G Books

वार्षिक परीक्षा
गणित मंथन

समय : ..... **कक्षा–5** **पूर्णांक : .....**

नोट–सभी प्रश्न हल करने अनिवार्य हैं।

1. निम्नलिखित राशि का मान बताइए–

(i) 40%, 10 किग्रा (ii) 20%, 6 किग्रा (iii) 10%, 50 सेग्रा
(iv) 10%, 50 सेग्रा (v) 25%, 6 किमी (vi) 6%, 750 रुपये

2. रिक्त स्थानों की पूर्ति कीजिए–

(i) इकाई समय में तय की गई दूरी _____ कहलाती है।
(ii) चाँदे या परकार का प्रयोग करके _____ बनाए जाते हैं।
(iii) वस्तु द्वारा घेरे गए स्थान की मात्रा को _____ कहते हैं।
(iv) जिस मूल्य पर वस्तु की खरीदा जाता है उसे _____ कहते हैं।

3. इमारती प्रश्न–

(i) यदि एक बोतल का क्रय मूल्य ₹ 1814 है। इसके 12% लाभ पर बेचने से क्या मूल्य प्राप्त होगा?
(ii) 180 किमी/घण्टा को मी/सेकण्ड में बदलिए।
(iii) किसी संख्या का 60 के साथ वही अनुपात होगा, जो 9 : 10 है।
(iv) 5 पेटियों में 480 पेज रखे है, तो बताइए 15 पेटियों में कितने पेज रखे होंगे?

4. चाँदे का प्रयोग करके कोण बनाइए–

(i) 40° (ii) 65°
(iii) 160° (iv) 52°

5. घनाभ का आयतन ज्ञात कीजिए–

(i) लं० = 4 सेमी, चौ० = 6 सेमी, ऊँ० = 4 सेमी
(ii) लं० = 8 सेमी, चौ० = 2 सेमी, ऊँ० = 5 सेमी
(iii) लं० = 12 सेमी, चौ० = 15 सेमी, ऊँ० = 2 सेमी
(iv) लं० = 6 सेमी, चौ० = 8 सेमी, ऊँ० = 4 सेमी

6. निम्न को सरल कीजिए–

(i) $8.5 + 0.26 \div 0.13 \times 3.5 - 5.5$ (ii) $20 + (10 \times 3 - 15) + 40 \div 8$

(iii) $3\frac{1}{2} + 2\frac{5}{7} \times \frac{7}{19} - \frac{1}{2} + 2$ (iv) $\frac{9}{22} \times \left(\frac{4}{9} + \frac{1}{6}\right) + \frac{7}{12}$

वार्षिक परीक्षा
गणित मंथन

समय : ..... **कक्षा-6** **पूर्णांक : .....**

नोट–सभी प्रश्न हल करने अनिवार्य हैं।

1. रिक्त स्थानों की पूर्ति कीजिए–

(i) तीन या अधिक रेखाएँ जो किसी सामान्य बिंदु से गुजरती हैं, _____ कहलाती हैं।

(ii) दीवार की लम्बाई को ही चहारदीवारी का _____ कहते हैं।

(iii) आँकड़ों का चित्रों द्वारा प्रदर्शन को _____ कहते हैं।

(iv) त्रिभुज का _____ भाग होते हैं।

2. निम्न को परिभाषित कीजिए–

(i) चतुर्भुज (ii) रेखाखंड (iii) विषमबाहु त्रिभुज (iv) किरण

(v) बहुभुज (vi) त्रिभुज की माध्यिका (vii) वृत्त (viii) वृत्त का व्यास

3. पैमाने तथा परकार की सहायता से कोण बनाइए–

(i) 90° (ii) 180° (iii) 90° (iv) 45°

4. इबारती प्रश्न–

(i) वर्ग मीटर में उस आयत का क्षेत्रफल ज्ञात कीजिए जिसकी लंबाई 8 डेकामीटर तथा चौड़ाई 17.5 मी० है। (1 डेकामी० = 10 मी०)

(ii) $(p-q)$ में क्या जोड़े की योगफल $(2p+q)$ प्राप्त हो?

(iii) चार अंकों की सबसे बड़ी संख्या ज्ञात कीजिए, जिसे 8, 10 तथा 12 से पूर्णतया विभाजित हो जाए।

(iv) फिल्म के एक शो के 25 टिकटों का मूल्य ₹ 12000 है।

5. निम्न आकृतियों के परिमाप ज्ञात कीजिए–

(i)
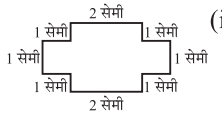

(ii)
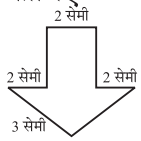

(iii)
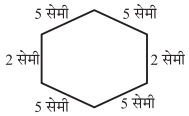

6. निम्न व्यंजकों को हल कीजिए–

(i) $(x+y+z)-(x-y-z)$ (ii) $5p-[4q-\{4p-(3q-2q-2p\}]$

(iii) $(2x^2+4x^2+3x+1)-(9x^2+7x-2)$

7. प्रगुणों के आधार पर भरिए–

(i) $646+182=\square$ (ii) $18146-\square=9561$

(iii) $67\times23=60\times\square+7\times\square$ (iv) $\square\div1=187$

4 G Books

वार्षिक परीक्षा
गणित मंथन

समय : ..... कक्षा-6 पूर्णांक : .....

नोट–सभी प्रश्न हल करने अनिवार्य हैं।

1. रिक्त स्थानों की पूर्ति कीजिए–
(i) तीन या अधिक रेखाएँ जो किसी सामान्य बिंदु से गुजरती हैं, _____ कहलाती हैं।
(ii) दीवार की लम्बाई को ही चहारदीवारी का _____ कहते हैं।
(iii) आँकड़ों का चित्रों द्वारा प्रदर्शन को _____ कहते हैं।
(iv) त्रिभुज का _____ भाग होते हैं।

2. निम्न को परिभाषित कीजिए–
(i) चतुर्भुज (ii) रेखाखंड (iii) विषमबाहु त्रिभुज (iv) किरण
(v) बहुभुज (vi) त्रिभुज की माध्यिका (vii) वृत्त (viii) वृत्त का व्यास

3. पैमाने तथा परकार की सहायता से कोण बनाइए–
(i) 90° (ii) 180° (iii) 90° (iv) 45°

4. इबारती प्रश्न–
(i) वर्ग मीटर में उस आयत का क्षेत्रफल ज्ञात कीजिए जिसकी लंबाई 8 डेकामीटर तथा चौड़ाई 17.5 मी० है। (1 डेकामी० = 10 मी०)
(ii) $(p-q)$ में क्या जोड़े की योगफल $(2p+q)$ प्राप्त हो?
(iii) चार अंकों की सबसे बड़ी संख्या ज्ञात कीजिए, जिसे 8, 10 तथा 12 से पूर्णतया विभाजित हो जाए।
(iv) फिल्म के एक शो के 25 टिकटों का मूल्य ₹ 12000 है।

5. निम्न आकृतियों के परिमाप ज्ञात कीजिए–
(i)
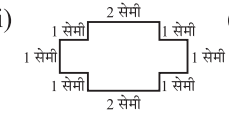

(ii)
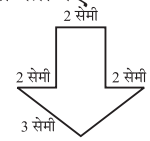

(iii)
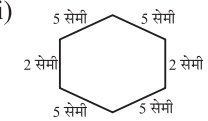

6. निम्न व्यंजकों को हल कीजिए–
(i) $(x+y+z)-(x-y-z)$ (ii) $5p-[4q-\{4p-(3q-2q-2p\}]$
(iii) $(2x^2+4x^2+3x+1)-(9x^2+7x-2)$

7. प्रगुणों के आधार पर भरिए–
(i) $646+182=\square$ (ii) $18146-\square=9561$
(iii) $67\times23=60\times\square+7\times\square$ (iv) $\square\div1=187$

वार्षिक परीक्षा
गणित मंथन

समय : ..... **कक्षा–7** **पूर्णांक : .....**

नोट–सभी प्रश्न हल करने अनिवार्य हैं।

1. अज्ञात कोण ज्ञात कीजिए–

(i)
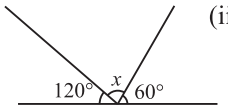

(ii)
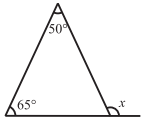

(iii)
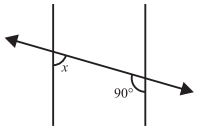

2. कौन–सा अंग्रेजी वर्णमाला का अक्षर रेखा तथा घूर्णन सममिति दोनों हैं?

V H B I T Y

3. रिक्त स्थानों की पूर्ति कीजिए–

(i) आँकड़ों में जिस पद की पुनरावृत्ति अधिकतम होती हैं, आँकड़ों का _____ होता है।

(ii) वस्तुएँ के समान आकार एवं रूप की होती उन्हें _____ कहते हैं।

(iii) व्यंजक में पदों के आंकिक भाग को उस पद का _____ कहते हैं।

(iv) घातांक 2 को _____ तथा घातांक 3 को _____ पढ़ते हैं।

4. 'हाँ' या 'नहीं' में उत्तर दीजिए–

(i) क्या 10^4 में घातांक 10 और आधार 3 है?

(ii) क्या समबाहु त्रिभुज का परिमाप = 3 × भुजा होता है?

(iii) क्या शून्य का कोई व्युत्क्रम नहीं होता है?

(iv) क्या सर्वसमिका $(a+b)(a-b)=a^2-b^2$ है?

5. इबारती प्रश्न–

(i) घनाभ की विमाएँ 6 : 4 : 1 अनुपात में है और उसका कुल पृष्ठ क्षेत्रफल 2816 सेमी^{2} है, विमाएँ बताइए।

(ii) 150 मी भुजा वाले वर्गाकार पार्क ₹ 150 प्रति मीटर की दर से चादर दीवारी कराने में कितना खर्च लगता है?

(iii) 32, 46, 62, 16, 40, 24, 70, 28 की माध्यिका ज्ञात कीजिए।

(iv) एक समकोण त्रिभुज के दो न्यूनकोणों का अनुपात 3 : 2 है, कोणों का मान ज्ञात कीजिए।

4 G Books

वार्षिक परीक्षा
गणित मंथन

समय : ..... कक्षा–7 पूर्णांक : .....

नोट–सभी प्रश्न हल करने अनिवार्य हैं।

1. अज्ञात कोण ज्ञात कीजिए–

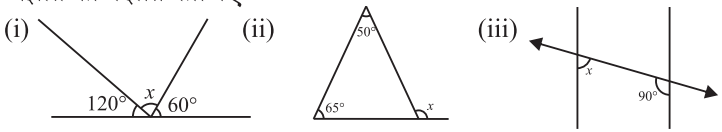

2. कौन–सा अंग्रेजी वर्णमाला का अक्षर रेखा तथा घूर्णन सममिति दोनों हैं?

V H B I T Y

3. रिक्त स्थानों की पूर्ति कीजिए–

(i) आँकड़ों में जिस पद की पुनरावृत्ति अधिकतम होती हैं, आँकड़ों का _____ होता है।

(ii) वस्तुएँ के समान आकार एवं रूप की होती उन्हें _____ कहते हैं।

(iii) व्यंजक में पदों के आंकिक भाग को उस पद का _____ कहते हैं।

(iv) घातांक 2 को _____ तथा घातांक 3 को _____ पढ़ते हैं।

4. 'हाँ' या 'नहीं' में उत्तर दीजिए–

(i) क्या 10^4 में घातांक 10 और आधार 3 है?

(ii) क्या समबाहु त्रिभुज का परिमाप = 3 × भुजा होता है?

(iii) क्या शून्य का कोई व्युत्क्रम नहीं होता है?

(iv) क्या सर्वसमिका $(a+b)(a-b)=a^2-b^2$ है?

5. इबारती प्रश्न–

(i) घनाभ की विमाएँ 6 : 4 : 1 अनुपात में है और उसका कुल पृष्ठ क्षेत्रफल 2816 सेमी^{2} है, विमाएँ बताइए।

(ii) 150 मी भुजा वाले वर्गाकार पार्क ₹ 150 प्रति मीटर की दर से चादर दीवारी कराने में कितना खर्च लगता है?

(iii) 32, 46, 62, 16, 40, 24, 70, 28 की माध्यिका ज्ञात कीजिए।

(iv) एक समकोण त्रिभुज के दो न्यूनकोणों का अनुपात 3 : 2 है, कोणों का मान ज्ञात कीजिए।

4 G Books

वार्षिक परीक्षा
गणित मंथन

समय : ..... **कक्षा–8** **पूर्णांक : .....**

नोट–सभी प्रश्न हल करने अनिवार्य हैं।

1. सही विकल्प पर गोला कीजिए–

(i) वर्गमूल के लिए चिह्न प्रयोग करते हैं। (√ /∛)

(ii) गोले का आयतन होता है। $\left(\frac{4}{3}\pi r^3/\frac{1}{2}(4\pi r^2)\right)$

(iii) वृत्त में किसी चार और जीवा से घिरी आकृति कहते हैं। (अर्द्धवृत्त/वृत्तखण्ड)

(iv) चतुर्भुज के अन्त:कोणों का योग होता है। (360°/180°)

2. रिक्त स्थानों की पूर्ति कीजिए–

(i) $(x)^{p/q}$ में परिमेय घातांक का हर '____' तथा अंश चढ़ाई गई 'घात' होती है।

(ii) _____ + _____ $=(a+b)(a^2-ab+b^2)$

(iii) पतंग की सम्मुख भुजाएँ _____ होती हैं।

(iv) उच्च सीमा तथा निम्न सीमा में अंतर _____ कहलाता है।

3. इबारती प्रश्न–

(i) –3456 को किस छोटी–से–छोटी संख्या से गुणा किया जाए कि वह पूर्ण घन हो जाए?

(ii) यदि एक व्यक्ति 10.2 किमी की दूरी 3 घण्टे में तय करता हैं, तो 5 घण्टे में उसके द्वारा तय की गयी दूरी बताइए।

(iii) 165°, 155° तथा 45° किसी चतुर्भुज के तीन कोण हैं। अज्ञात कोण की गणना कीजिए।

(iv) एक वृत्त का क्षेत्रफल 616 सेमी^{2} है। वृत्त का व्यास ज्ञात कीजिए।

4. प्रायिकता ज्ञात कीजिए–

(i) ताश के 52 पत्तों में से एक काला पत्ता प्राप्त करने की।

(ii) एक सप्तफलक चकरी को चलाने पर एक आने की।

5. निम्न को परिभाषित कीजिए–

(i) आयत चित्र (ii) वर्ग समीकरण (iii) मिश्रधन

6. निम्न आँकड़ों का आयत चित्र बनाइए–

वर्ग अंतराल	8-12	12-16	16-20	20-24	24-28
बारंबारता	7	9	10	15	8

4 G Books

वार्षिक परीक्षा
गणित मंथन

समय : ..... **कक्षा–8** **पूर्णांक : .....**

नोट–सभी प्रश्न हल करने अनिवार्य हैं।

1. सही विकल्प पर गोला कीजिए–

(i) वर्गमूल के लिए चिह्न प्रयोग करते हैं। (√ /∛)

(ii) गोले का आयतन होता है। $\left(\frac{4}{3}\pi r^3/\frac{1}{2}(4\pi r^2)\right)$

(iii) वृत्त में किसी चार और जीवा से घिरी आकृति कहते हैं। (अर्द्धवृत्त/वृत्तखण्ड)

(iv) चतुर्भुज के अन्त:कोणों का योग होता है। (360°/180°)

2. रिक्त स्थानों की पूर्ति कीजिए–

(i) $(x)^{p/q}$ में परिमेय घातांक का हर '____' तथा अंश चढ़ाई गई 'घात' होती है।

(ii) _____ + _____ $=(a+b)(a^2-ab+b^2)$

(iii) पतंग की सम्मुख भुजाएँ _____ होती हैं।

(iv) उच्च सीमा तथा निम्न सीमा में अंतर _____ कहलाता है।

3. इबारती प्रश्न–

(i) –3456 को किस छोटी–से–छोटी संख्या से गुणा किया जाए कि वह पूर्ण घन हो जाए?

(ii) यदि एक व्यक्ति 10.2 किमी की दूरी 3 घण्टे में तय करता हैं, तो 5 घण्टे में उसके द्वारा तय की गयी दूरी बताइए।

(iii) 165°, 155° तथा 45° किसी चतुर्भुज के तीन कोण हैं। अज्ञात कोण की गणना कीजिए।

(iv) एक वृत्त का क्षेत्रफल 616 सेमी^{2} है। वृत्त का व्यास ज्ञात कीजिए।

4. प्रायिकता ज्ञात कीजिए–

(i) ताश के 52 पत्तों में से एक काला पत्ता प्राप्त करने की।

(ii) एक सप्तफलक चकरी को चलाने पर एक आने की।

5. निम्न को परिभाषित कीजिए–

(i) आयत चित्र (ii) वर्ग समीकरण (iii) मिश्रधन

6. निम्न आँकड़ों का आयत चित्र बनाइए–

वर्ग अंतराल	8-12	12-16	16-20	20-24	24-28
बारंबारता	7	9	10	15	8

वार्षिक परीक्षा
समाज मंथन

समय : ..... **कक्षा–1** **पूर्णांक : .....**

नोट–सभी प्रश्न करने अनिवार्य हैं। स्वच्छता का विशेष ध्यान रखें।

I. निम्नलिखित प्रश्नों के उत्तर दीजिए–

1. वस्त्र किन–किन धागों से बनते हैं?
2. तेज गति से चलने वाली दो रेलगाड़ियों के नाम लिखिए।
3. सिक्खों के पूजा स्थल का नाम बताइए।
4. ट्रैफिक लाइट कितनी होती हैं? नाम बताइए।
5. अशोक ने बौद्ध धर्म के प्रचार हेतु क्या किया?

II. सही जोड़े बनाइए–

1.	दूधवाला	(i)	चार
2.	दिशाएँ	(ii)	पानी में चलते हैं।
3.	पुदीना, पालक	(iii)	हवा भरना
4.	नाव और जहाज	(iv)	शाक
5.	टायर–ट्यूब	(v)	दूध लाता है।

III. रिक्त स्थानों की पूर्ति कीजिए–

1. साँप जमीन पर _____ है।
2. महाराष्ट्र का प्रसिद्ध उत्सव _____ है।
3. बिजली के _____ को कभी नहीं छूना चाहिए।
4. समुद्र का पानी _____ होता है।
5. आदिमानव जंगलों में बनी _____ में रहता था।

IV. सही विकल्प पर (✓) का चिह्न लगाइए–

1. भारत में त्योहार मनाए जाते हैं—
   (i) एक ☐ (ii) पाँच ☐ (iii) अनेक ☐
2. बस, स्कूटर, ऑटो, ताँगा आदि चलते हैं—
   (i) जमीन पर ☐ (ii) आसमान पर ☐ (iii) भवनों में ☐
3. चाक पर बनाए जाते हैं—
   (i) पहिया ☐ (ii) गाड़ी ☐ (iii) बर्तन ☐

4 G Books

वार्षिक परीक्षा
समाज मंथन

समय : ..... कक्षा–1 पूर्णांक : .....

नोट–सभी प्रश्न करने अनिवार्य हैं। स्वच्छता का विशेष ध्यान रखें।

I. निम्नलिखित प्रश्नों के उत्तर दीजिए–
1. वस्त्र किन–किन धागों से बनते हैं?
2. तेज गति से चलने वाली दो रेलगाड़ियों के नाम लिखिए।
3. सिक्खों के पूजा स्थल का नाम बताइए।
4. ट्रैफिक लाइट कितनी होती हैं? नाम बताइए।
5. अशोक ने बौद्ध धर्म के प्रचार हेतु क्या किया?

II. सही जोड़े बनाइए–
1. दूधवाला (i) चार
2. दिशाएँ (ii) पानी में चलते हैं।
3. पुदीना, पालक (iii) हवा भरना
4. नाव और जहाज (iv) शाक
5. टायर–ट्यूब (v) दूध लाता है।

III. रिक्त स्थानों की पूर्ति कीजिए–
1. साँप जमीन पर _____ है।
2. महाराष्ट्र का प्रसिद्ध उत्सव _____ है।
3. बिजली के _____ को कभी नहीं छूना चाहिए।
4. समुद्र का पानी _____ होता है।
5. आदिमानव जंगलों में बनी _____ में रहता था।

IV. सही विकल्प पर (✓) का चिह्न लगाइए–
1. भारत में त्योहार मनाए जाते हैं—
(i) एक ☐ (ii) पाँच ☐ (iii) अनेक ☐
2. बस, स्कूटर, ऑटो, ताँगा आदि चलते हैं—
(i) जमीन पर ☐ (ii) आसमान पर ☐ (iii) भवनों में ☐
3. चाक पर बनाए जाते हैं—
(i) पहिया ☐ (ii) गाड़ी ☐ (iii) बर्तन ☐

वार्षिक परीक्षा

समाज मंथन

समय : ..... **कक्षा–2** **पूर्णांक : .....**

नोट–सभी प्रश्न करने अनिवार्य हैं। स्वच्छता का विशेष ध्यान रखें।

I. सही विकल्प पर (✓) का चिह्न लगाइए–

1. प्रौढ़ शिक्षा केंद्र में पढ़ाई होती है—
   (i) दिन में ☐ (ii) शाम को ☐ (iii) रात्रि में ☐
2. ध्रुव तारा हमेशा दिखाई देता है—
   (i) पूरब दिशा में ☐ (ii) उत्तर दिशा में ☐
   (iii) पश्चिम दिशा में ☐
3. अधिवर्ष में दिन होते हैं—
   (i) 365 ☐ (ii) 364 ☐ (iii) 366 ☐

II. सही उत्तर पर गोला (◯) बनाइए–

1. कैरम, शतरंज आउटजेट/इनजेट गेम है।
2. पी० टी०/कंप्यूटर के अध्यापक खेल दिवस का आयोजन करते हैं।
3. लोहे की पटरियों पर रेल/बस चलती है।
4. दिसंबर और जनवरी में सर्वाधिक गर्मी/ठंड पड़ती है।
5. जलोढ़ मिट्टी को दोमट/लाल मिट्टी भी कहते हैं।

III. रिक्त स्थानों की पूर्ति कीजिए–

1. रमजान के बाद _____ मनाई जाती है।
2. हमारा संविधान सन् _____ में लागू हुआ।
3. माध्यमिक विद्यालय कक्षा _____ तक होते हैं।
4. मानचित्र में नीचे की ओर _____ दिशा होती है।
5. एक दिन में _____ घंटे होते हैं।

IV. निम्नलिखित प्रश्नों के उत्तर दीजिए–

1. लड़के क्या–क्या कार्य करते हैं?
2. किण्डरगार्टन में बच्चे क्या सीखते हैं?
3. प्रदूषण किसे कहते हैं?
4. मौसम किन घटकों के मिलने से बनता है?

4 G Books

वार्षिक परीक्षा

समाज मंथन

समय : ..... कक्षा–2 पूर्णांक : .....

नोट–सभी प्रश्न करने अनिवार्य हैं। स्वच्छता का विशेष ध्यान रखें।

I. सही विकल्प पर (✓) का चिह्न लगाइए–

1. प्रौढ़ शिक्षा केंद्र में पढ़ाई होती है—
   (i) दिन में ☐ (ii) शाम को ☐ (iii) रात्रि में ☐
2. ध्रुव तारा हमेशा दिखाई देता है—
   (i) पूरब दिशा में ☐ (ii) उत्तर दिशा में ☐
   (iii) पश्चिम दिशा में ☐
3. अधिवर्ष में दिन होते हैं—
   (i) 365 ☐ (ii) 364 ☐ (iii) 366 ☐

II. सही उत्तर पर गोला (◯) बनाइए–

1. कैरम, शतरंज आउटजेट/इनजेट गेम है।
2. पी० टी०/कंप्यूटर के अध्यापक खेल दिवस का आयोजन करते हैं।
3. लोहे की पटरियों पर रेल/बस चलती है।
4. दिसंबर और जनवरी में सर्वाधिक गर्मी/ठंड पड़ती है।
5. जलोढ़ मिट्टी को दोमट/लाल मिट्टी भी कहते हैं।

III. रिक्त स्थानों की पूर्ति कीजिए–

1. रमजान के बाद _____ मनाई जाती है।
2. हमारा संविधान सन् _____ में लागू हुआ।
3. माध्यमिक विद्यालय कक्षा _____ तक होते हैं।
4. मानचित्र में नीचे की ओर _____ दिशा होती है।
5. एक दिन में _____ घंटे होते हैं।

IV. निम्नलिखित प्रश्नों के उत्तर दीजिए–

1. लड़के क्या–क्या कार्य करते हैं?
2. किण्डरगार्टन में बच्चे क्या सीखते हैं?
3. प्रदूषण किसे कहते हैं?
4. मौसम किन घटकों के मिलने से बनता है?

वार्षिक परीक्षा
समाज मंथन

समय : ..... **कक्षा–3** **पूर्णांक : .....**

नोट–सभी प्रश्न करने अनिवार्य हैं। स्वच्छता का विशेष ध्यान रखें।

I. निम्नलिखित प्रश्नों के उत्तर दीजिए–

1. भारत का विस्तार कितना है?
2. मुंबई की जलवायु किस प्रकार की है?
3. जीवन रक्षक टीके कहाँ लगाए जाते हैं?
4. देश के प्रमुख राष्ट्रीय प्रतीक कौन–कौन से हैं?
5. विवेकानंद के कार्यों का उल्लेख कीजिए।

II. निम्नलिखित कथनों को सही कीजिए–

1. मुंबई का प्रमुख त्योहार छठ पूजा है।
2. अशिक्षित व्यक्ति ज्ञानी होता है।
3. बहुमत प्राप्त दल के नेता को राष्ट्रपति कहा जाता है।
4. नगर समिति का प्रधान मुख्यमंत्री होता है।
5. सहकारिता शहरी विकास का एक आंदोलन है।

III. रिक्त स्थानों की पूर्ति कीजिए–

1. तमिलनाडु में रहने वालों को _____ कहते हैं।
2. हमारा राष्ट्रगान हमारी _____ का प्रतीक है।
3. भारत में _____ शासन व्यवस्था है।
4. पंचायत गाँव के छोटे–मोटे _____ को सुलझाती है।

IV. सही विकल्प पर (✓) का चिह्न लगाइए–

1. बृहदीश्वर मंदिर संबंधित है—
   (i) गुप्त वंश से ☐ (ii) मुगल वंश से ☐ (iii) चोल वंश से ☐
2. कौन–सा विभाग राज्य सरकार के अधीन नहीं है?
   (i) शिक्षा ☐ (ii) डाक ☐ (iii) पुलिस ☐
3. सहकारिता से कार्य हो जाता है—
   (i) सरल ☐ (ii) कठिन ☐ (iii) छोटा ☐

4 G Books

वार्षिक परीक्षा
समाज मंथन

समय : ..... **कक्षा–3** **पूर्णांक : .....**

नोट–सभी प्रश्न करने अनिवार्य हैं। स्वच्छता का विशेष ध्यान रखें।

I. निम्नलिखित प्रश्नों के उत्तर दीजिए–

1. भारत का विस्तार कितना है?
2. मुंबई की जलवायु किस प्रकार की है?
3. जीवन रक्षक टीके कहाँ लगाए जाते हैं?
4. देश के प्रमुख राष्ट्रीय प्रतीक कौन–कौन से हैं?
5. विवेकानंद के कार्यों का उल्लेख कीजिए।

II. निम्नलिखित कथनों को सही कीजिए–

1. मुंबई का प्रमुख त्योहार छठ पूजा है।
2. अशिक्षित व्यक्ति ज्ञानी होता है।
3. बहुमत प्राप्त दल के नेता को राष्ट्रपति कहा जाता है।
4. नगर समिति का प्रधान मुख्यमंत्री होता है।
5. सहकारिता शहरी विकास का एक आंदोलन है।

III. रिक्त स्थानों की पूर्ति कीजिए–

1. तमिलनाडु में रहने वालों को _____ कहते हैं।
2. हमारा राष्ट्रगान हमारी _____ का प्रतीक है।
3. भारत में _____ शासन व्यवस्था है।
4. पंचायत गाँव के छोटे–मोटे _____ को सुलझाती है।

IV. सही विकल्प पर (✓) का चिह्न लगाइए–

1. बृहदीश्वर मंदिर संबंधित है—
   (i) गुप्त वंश से ☐ (ii) मुगल वंश से ☐ (iii) चोल वंश से ☐
2. कौन–सा विभाग राज्य सरकार के अधीन नहीं है?
   (i) शिक्षा ☐ (ii) डाक ☐ (iii) पुलिस ☐
3. सहकारिता से कार्य हो जाता है—
   (i) सरल ☐ (ii) कठिन ☐ (iii) छोटा ☐

वार्षिक परीक्षा

समाज मंथन

समय : ..... **कक्षा–4** **पूर्णांक : .....**

नोट–सभी प्रश्न करने अनिवार्य हैं। स्वच्छता का विशेष ध्यान रखें।

I. रिक्त स्थानों की पूर्ति कीजिए–

1. डेल्टाई वन नदियों के _____ पर पाए जाते हैं।
2. जमीन के नीचे _____ रेल चलती है।
3. राष्ट्रगान को गाने का समय _____ सेकंड है।
4. गौतम बुद्ध के पुत्र का नाम _____ था।

II. निम्नलिखित प्रश्नों के उत्तर दीजिए–

1. मालवा की मुख्य फसल का नाम बताइए।
2. किसान के सहायक पशुओं के नाम लिखिए।
3. आधुनिक संचार के साधन कौन–से हैं?
4. केंद्र सरकार के मुख्य कार्य क्या हैं?
5. भारत में कौन–सी संगीत प्रणालियाँ प्रचलित हैं?

III. सही जोड़े बनाइए–

1.	चाय	(i)	घाना पक्षी विहार
2.	हाथी	(ii)	महाराष्ट्र, गोवा, दमन व द्वीप
3.	राजस्थान	(iii)	आंध्र प्रदेश
4.	मराठी	(iv)	असम, प० बंगाल, तमिलनाडु
5.	कुचीपुड़ी	(v)	सवारी के काम आता है।

IV. सही विकल्प पर (✓) का चिह्न लगाइए–

1. आर्थिक विकास में बाधक है—
   (i) अधिक जनसंख्या ☐ (ii) अशिक्षा ☐ (iii) ये सभी ☐
2. स्वामी विवेकानंद के गुरु थे—
   (i) गुरुनानक ☐ (ii) महात्मा गांधी ☐
   (iii) रामकृष्ण परमहंस ☐
3. जेंद अवेस्ता धार्मिक ग्रंथ है—
   (i) ईसाइयों का ☐ (ii) यहूदियों का ☐ (iii) पारसियों का ☐

4 G Books

वार्षिक परीक्षा

समाज मंथन

समय : ..... कक्षा–4 पूर्णांक : .....

नोट–सभी प्रश्न करने अनिवार्य हैं। स्वच्छता का विशेष ध्यान रखें।

I. रिक्त स्थानों की पूर्ति कीजिए–

1. डेल्टाई वन नदियों के _____ पर पाए जाते हैं।
2. जमीन के नीचे _____ रेल चलती है।
3. राष्ट्रगान को गाने का समय _____ सेकंड है।
4. गौतम बुद्ध के पुत्र का नाम _____ था।

II. निम्नलिखित प्रश्नों के उत्तर दीजिए–

1. मालवा की मुख्य फसल का नाम बताइए।
2. किसान के सहायक पशुओं के नाम लिखिए।
3. आधुनिक संचार के साधन कौन–से हैं?
4. केंद्र सरकार के मुख्य कार्य क्या हैं?
5. भारत में कौन–सी संगीत प्रणालियाँ प्रचलित हैं?

III. सही जोड़े बनाइए–

1.	चाय	(i)	घाना पक्षी विहार
2.	हाथी	(ii)	महाराष्ट्र, गोवा, दमन व द्वीप
3.	राजस्थान	(iii)	आंध्र प्रदेश
4.	मराठी	(iv)	असम, प० बंगाल, तमिलनाडु
5.	कुचीपुड़ी	(v)	सवारी के काम आता है।

IV. सही विकल्प पर (✓) का चिह्न लगाइए–

1. आर्थिक विकास में बाधक है—
   (i) अधिक जनसंख्या ☐ (ii) अशिक्षा ☐ (iii) ये सभी ☐
2. स्वामी विवेकानंद के गुरु थे—
   (i) गुरुनानक ☐ (ii) महात्मा गांधी ☐
   (iii) रामकृष्ण परमहंस ☐
3. जेंद अवेस्ता धार्मिक ग्रंथ है—
   (i) ईसाइयों का ☐ (ii) यहूदियों का ☐ (iii) पारसियों का ☐

वार्षिक परीक्षा
समाज मंथन

समय : ..... **कक्षा–5** **पूर्णांक : .....**

नोट–सभी प्रश्न करने अनिवार्य हैं। स्वच्छता का विशेष ध्यान रखें।

I. निम्नलिखित प्रश्नों के उत्तर दीजिए–

1. ग्लोब की अपेक्षा मानचित्र लाभदायक हैं, क्यों?
2. पिग्मी जाति के लोगों की मुख्य विशेषताएँ क्या हैं?
3. अंतरिक्ष सेतु किसे कहते हैं?
4. भारत अंग्रेजों का गुलाम किस प्रकार हुआ?
5. भारतीयों ने पूर्ण स्वराज्य की माँग कब व क्यों की?
6. संयुक्त राष्ट्र के उद्देश्यों का वर्णन कीजिए।

II. रिक्त स्थानों की पूर्ति कीजिए–

1. एडवर्ड जेनर ने _____ के टीके की खोज की।
2. जलयान _____ के बने होते हैं।
3. मिस्र में _____ पौधे से कागज बनाया गया।
4. भारतीय राष्ट्रीय कांग्रेस की स्थापना सन् _____ में की गई।
5. प्रथम विश्वयुद्ध _____ में समाप्त हुआ।

III. संक्षिप्त टिप्पणी लिखिए–

1. एक्स–रे 2. मोबाइल फोन 3. अंतर्राष्ट्रीय मुद्राकोष

IV. सही जोड़े बनाइए–

1. यूनेस्को	(i) 11 सितंबर, 1948
2. यूनिसेफ	(ii) 7 अप्रैल, 1948
3. डब्ल्यू० एच० ओ०	(iii) 4 नवंबर, 1945

V. सही विकल्प पर (✓) का चिह्न लगाइए–

1. पंच–परमेश्वर रचना है—
   (i) अरविंदो घोष की ☐ (ii) प्रेमचंद की ☐ (iii) श्यामलाल गुप्ता की ☐
2. रेडियो के आविष्कारकर्ता थे—
   (i) मारकोनी ☐ (ii) डॉ० भाभा ☐ (iii) ग्राहम बेल ☐

4 G Books

वार्षिक परीक्षा
समाज मंथन

समय : ..... कक्षा–5 पूर्णांक : .....

नोट–सभी प्रश्न करने अनिवार्य हैं। स्वच्छता का विशेष ध्यान रखें।

I. निम्नलिखित प्रश्नों के उत्तर दीजिए–
1. ग्लोब की अपेक्षा मानचित्र लाभदायक हैं, क्यों?
2. पिग्मी जाति के लोगों की मुख्य विशेषताएँ क्या हैं?
3. अंतरिक्ष सेतु किसे कहते हैं?
4. भारत अंग्रेजों का गुलाम किस प्रकार हुआ?
5. भारतीयों ने पूर्ण स्वराज्य की माँग कब व क्यों की?
6. संयुक्त राष्ट्र के उद्देश्यों का वर्णन कीजिए।

II. रिक्त स्थानों की पूर्ति कीजिए–
1. एडवर्ड जेनर ने _____ के टीके की खोज की।
2. जलयान _____ के बने होते हैं।
3. मिस्र में _____ पौधे से कागज बनाया गया।
4. भारतीय राष्ट्रीय कांग्रेस की स्थापना सन् _____ में की गई।
5. प्रथम विश्वयुद्ध _____ में समाप्त हुआ।

III. संक्षिप्त टिप्पणी लिखिए–
1. एक्स–रे 2. मोबाइल फोन 3. अंतर्राष्ट्रीय मुद्राकोष

IV. सही जोड़े बनाइए–
1. यूनेस्को (i) 11 सितंबर, 1948
2. यूनिसेफ (ii) 7 अप्रैल, 1948
3. डब्ल्यू० एच० ओ० (iii) 4 नवंबर, 1945

V. सही विकल्प पर (✓) का चिह्न लगाइए–
1. पंच–परमेश्वर रचना है—
(i) अरविंदो घोष की ☐ (ii) प्रेमचंद की ☐ (iii) श्यामलाल गुप्ता की ☐
2. रेडियो के आविष्कारकर्ता थे—
(i) मारकोनी ☐ (ii) डॉ० भाभा ☐ (iii) ग्राहम बेल ☐

वार्षिक परीक्षा

समाज मंथन

समय : ..... **कक्षा–6** **पूर्णांक : .....**

नोट–सभी प्रश्न करने अनिवार्य हैं। स्वच्छता का विशेष ध्यान रखें।

I. निम्नलिखित प्रश्नों के उत्तर दीजिए–

1. मौर्य प्रशासन व्यवस्था का वर्णन कीजिए।
2. दक्षिण भारत के भक्ति आंदोलन पर प्रकाश डालिए।
3. भारत की भौगोलिक स्थिति का वर्णन कीजिए।
4. बुद्ध के उपदेशों को लिखिए।
5. खेतिहर मजदूरों का उल्लेख कीजिए।

II. 'हाँ' अथवा 'नहीं' में उत्तर दीजिए–

1. क्या माउंट एवरेस्ट नेपाल में है? _____
2. क्या स्तूप का शाब्दिक अर्थ टीला होता है? _____
3. क्या भारत में वर्षा का वितरण एक समान है? _____
4. क्या बहुत बड़े होटल को पाँच सितारा होटल कहा जाता है? _____

III. रिक्त स्थानों की पूर्ति कीजिए–

1. वैदिक प्रार्थनाओं की रचना _____ ने की थी।
2. गुप्त वंश का पहला शासक _____ था।
3. बंगाल की खाड़ी की सबसे लंबी नदी _____ है।
4. स्वत: उगने वाली मौलिक वनस्पति को _____ कहा जाता है।
5. शहरी क्षेत्रों में बहुत _____ देखने को मिलती है।

IV. कारण बताइए, क्यों?

1. ध्रुवीय क्षेत्रों में कम गर्मी पड़ती है _____
2. भारतीय जलवायु को मानसूनी जलवायु कहा जाता है _____
3. बौद्ध धर्म सरल होने के कारण बहुत लोकप्रिय हुआ _____
4. भारत विश्व का सबसे बड़ा गणतंत्र देश है _____
5. लोकतंत्र में मताधिकार बहुत महत्त्वपूर्ण है _____

V. सही विकल्प पर (✓) का चिह्न लगाइए–

1. शून्य का ज्ञान विश्व को दिया—
   (i) भारत ने ☐ (ii) चीन ने ☐ (iii) अमेरिका ने ☐
2. मौसम के विविध रूपों को कहते हैं—
   (i) ऋतुएँ ☐ (ii) जलवायु ☐ (iii) वायुमंडल ☐

4 G Books

वार्षिक परीक्षा

समाज मंथन

समय : ..... कक्षा–6 पूर्णांक : .....

नोट–सभी प्रश्न करने अनिवार्य हैं। स्वच्छता का विशेष ध्यान रखें।

I. निम्नलिखित प्रश्नों के उत्तर दीजिए–

1. मौर्य प्रशासन व्यवस्था का वर्णन कीजिए।
2. दक्षिण भारत के भक्ति आंदोलन पर प्रकाश डालिए।
3. भारत की भौगोलिक स्थिति का वर्णन कीजिए।
4. बुद्ध के उपदेशों को लिखिए।
5. खेतिहर मजदूरों का उल्लेख कीजिए।

II. 'हाँ' अथवा 'नहीं' में उत्तर दीजिए–

1. क्या माउंट एवरेस्ट नेपाल में है? _____
2. क्या स्तूप का शाब्दिक अर्थ टीला होता है? _____
3. क्या भारत में वर्षा का वितरण एक समान है? _____
4. क्या बहुत बड़े होटल को पाँच सितारा होटल कहा जाता है? _____

III. रिक्त स्थानों की पूर्ति कीजिए–

1. वैदिक प्रार्थनाओं की रचना _____ ने की थी।
2. गुप्त वंश का पहला शासक _____ था।
3. बंगाल की खाड़ी की सबसे लंबी नदी _____ है।
4. स्वत: उगने वाली मौलिक वनस्पति को _____ कहा जाता है।
5. शहरी क्षेत्रों में बहुत _____ देखने को मिलती है।

IV. कारण बताइए, क्यों?

1. ध्रुवीय क्षेत्रों में कम गर्मी पड़ती है _____
2. भारतीय जलवायु को मानसूनी जलवायु कहा जाता है _____
3. बौद्ध धर्म सरल होने के कारण बहुत लोकप्रिय हुआ _____
4. भारत विश्व का सबसे बड़ा गणतंत्र देश है _____
5. लोकतंत्र में मताधिकार बहुत महत्त्वपूर्ण है _____

V. सही विकल्प पर (✓) का चिह्न लगाइए–

1. शून्य का ज्ञान विश्व को दिया—
   (i) भारत ने ☐ (ii) चीन ने ☐ (iii) अमेरिका ने ☐
2. मौसम के विविध रूपों को कहते हैं—
   (i) ऋतुएँ ☐ (ii) जलवायु ☐ (iii) वायुमंडल ☐

4 G Books

वार्षिक परीक्षा

समाज मंथन

समय : ..... **कक्षा–7** **पूर्णांक : .....**

नोट–सभी प्रश्न करने अनिवार्य हैं। स्वच्छता का विशेष ध्यान रखें।

I. सही विकल्प पर (✓) का चिह्न लगाइए–

1. बाबर ने मुगल साम्राज्य की स्थापना की—
   (i) 1496 ई० में ☐ (ii) 1526 ई० में ☐ (iii) 1556 ई० में ☐
2. लंबी दूरी की यात्रा के लिए उपयोगी साधन है—
   (i) रेल परिवहन ☐ (ii) बैलगाड़ी ☐ (iii) साइकिल ☐
3. दहेज प्रथा कानूनी रूप से है—
   (i) अवैध ☐ (ii) वैध ☐ (iii) निषिद्ध ☐

II. रिक्त स्थानों की पूर्ति कीजिए–

1. परमार _____ के सामंत थे।
2. अकबर के संरक्षक _____ थे।
3. मैंटल _____ गहराई तक पाया जाता है।
4. सहारा मरुस्थल की सबसे प्रमुख भू-आकृति _____ है।
5. राज्यपाल _____ का नाममात्र का प्रधान होता है।

III. सही उत्तर पर गोला (◯) बनाइए–

1. राजतरंगिणी के लेखक चंदबरदाई/कल्हण हैं।
2. शाहजहाँ/जहाँगीर के बचपन का नाम खुर्रम था।
3. वृक्षों की अधिकता वाले क्षेत्र को वन/जंगल कहते हैं।
4. लोकसभा के अध्यक्ष को स्पीकर/उपराष्ट्रपति कहा जाता है।
5. केंद्रशासित प्रदेश दिल्ली/पुड्डुचेरी को विशेष दर्जा प्राप्त है।

IV. निम्नलिखित के लिए एक शब्द में उत्तर दीजिए–

1. चैतन्य महाप्रभु उपासक थे _____
2. पृथ्वी का जलीय भाग है _____
3. राज्यों में कार्यपालिका का मुखिया होता है _____
4. दक्षिण अफ्रीका के घास के मैदान हैं _____

V. निम्नलिखित प्रश्नों के उत्तर दीजिए–

1. मुगल साम्राज्य के पतन के कारणों की विवेचना कीजिए।
2. अनाच्छादन के वाहक बताइए।
3. शीतोष्ण घास के मैदानों में जनजीवन कैसा है? वर्णन कीजिए।
4. मानवीय पर्यावरण का क्या अर्थ है?
5. राज्य की विधानसभा पर एक लेख लिखिए।

4 G Books

वार्षिक परीक्षा

समाज मंथन

समय : ..... **कक्षा–7** **पूर्णांक : .....**

नोट–सभी प्रश्न करने अनिवार्य हैं। स्वच्छता का विशेष ध्यान रखें।

I. सही विकल्प पर (✓) का चिह्न लगाइए–

1. बाबर ने मुगल साम्राज्य की स्थापना की—
   (i) 1496 ई० में ☐ (ii) 1526 ई० में ☐ (iii) 1556 ई० में ☐
2. लंबी दूरी की यात्रा के लिए उपयोगी साधन है—
   (i) रेल परिवहन ☐ (ii) बैलगाड़ी ☐ (iii) साइकिल ☐
3. दहेज प्रथा कानूनी रूप से है—
   (i) अवैध ☐ (ii) वैध ☐ (iii) निषिद्ध ☐

II. रिक्त स्थानों की पूर्ति कीजिए–

1. परमार _____ के सामंत थे।
2. अकबर के संरक्षक _____ थे।
3. मैंटल _____ गहराई तक पाया जाता है।
4. सहारा मरुस्थल की सबसे प्रमुख भू-आकृति _____ है।
5. राज्यपाल _____ का नाममात्र का प्रधान होता है।

III. सही उत्तर पर गोला (◯) बनाइए–

1. राजतरंगिणी के लेखक चंदबरदाई/कल्हण हैं।
2. शाहजहाँ/जहाँगीर के बचपन का नाम खुर्रम था।
3. वृक्षों की अधिकता वाले क्षेत्र को वन/जंगल कहते हैं।
4. लोकसभा के अध्यक्ष को स्पीकर/उपराष्ट्रपति कहा जाता है।
5. केंद्रशासित प्रदेश दिल्ली/पुड्डुचेरी को विशेष दर्जा प्राप्त है।

IV. निम्नलिखित के लिए एक शब्द में उत्तर दीजिए–

1. चैतन्य महाप्रभु उपासक थे _____
2. पृथ्वी का जलीय भाग है _____
3. राज्यों में कार्यपालिका का मुखिया होता है _____
4. दक्षिण अफ्रीका के घास के मैदान हैं _____

V. निम्नलिखित प्रश्नों के उत्तर दीजिए–

1. मुगल साम्राज्य के पतन के कारणों की विवेचना कीजिए।
2. अनाच्छादन के वाहक बताइए।
3. शीतोष्ण घास के मैदानों में जनजीवन कैसा है? वर्णन कीजिए।
4. मानवीय पर्यावरण का क्या अर्थ है?
5. राज्य की विधानसभा पर एक लेख लिखिए।

वार्षिक परीक्षा

समाज मंथन

समय : ..... **कक्षा–8** **पूर्णांक : .....**

नोट–सभी प्रश्न करने अनिवार्य हैं। स्वच्छता का विशेष ध्यान रखें।

I. निम्नलिखित प्रश्नों के उत्तर दीजिए–

1. गांधी जी के नेतृत्व में स्वतंत्रता आंदोलनों में क्या प्रगति हुई?
2. कृषि पर आधारित उद्योगों का वर्णन कीजिए।
3. भारत में खनिजों के वितरण पर प्रकाश डालिए।
4. संयुक्त राष्ट्र के प्रमुख उद्देश्य क्या हैं?
5. पर्यावरण के ह्रास पर हम किस प्रकार नियंत्रण कर सकते हैं?

II. रिक्त स्थानों की पूर्ति कीजिए–

1. ब्रिटिश सरकार _____ और न्यायिक नहीं थी।
2. भूमि का रूप _____ है।
3. आपदा _____ प्रकार का संकट है।
4. नागा समस्या _____ दशक में प्रारंभ हुई।
5. वायु में _____ गैस की मात्रा बढ़ जाने से प्रदूषण होता है।

III. निम्नलिखित प्रश्नों के उत्तर 'हाँ' अथवा 'नहीं' में दीजिए–

1. क्या वर्तमान में भारत में 29 राज्य हैं? _____
2. क्या तात्या टोपे का वास्तविक नाम खान बहादुर था? _____
3. क्या अल्पाइन शब्द यूरोप के आल्पस पर्वत से बना है? _____
4. क्या वायु प्रदूषण से हमारे नेत्र प्रभावित होते हैं? _____

IV. सही कथन के सामने (✓) तथा गलत कथन के सामने (✗) का चिह्न लगाइए–

1. गांधी जी ने प्रथम विश्वयुद्ध में अंग्रेजी सरकार की मदद की थी।
2. मानव स्वयं एक सर्वोत्तम साधन है।
3. तेज गति वाली आँधी को सुनामी कहते हैं।
4. अंतर्राष्ट्रीय न्यायालय में 16 न्यायाधीश होते हैं।
5. सभी खनिज ऊर्जा के स्रोत हैं।

V. सही विकल्प पर (✓) का चिह्न लगाइए–

1. क्रांति के संदेश हेतु प्रतीक बनाया गया—
   (i) कमल के फूल को ☐ (ii) रोटी को ☐ (iii) दोनों को ☐
2. भारत में लोहे का प्रमुख उत्पादक राज्य है—
   (i) ओडिशा ☐ (ii) उत्तर प्रदेश ☐ (iii) केरल ☐
3. भय और आतंक का साया मुंबई में छाया रहा—
   (i) दो दिन तक ☐ (ii) चार दिन तक ☐ (iii) सात दिन तक ☐

4 G Books

वार्षिक परीक्षा

समाज मंथन

समय : ..... कक्षा–8 पूर्णांक : .....

नोट–सभी प्रश्न करने अनिवार्य हैं। स्वच्छता का विशेष ध्यान रखें।

I. निम्नलिखित प्रश्नों के उत्तर दीजिए–

1. गांधी जी के नेतृत्व में स्वतंत्रता आंदोलनों में क्या प्रगति हुई?
2. कृषि पर आधारित उद्योगों का वर्णन कीजिए।
3. भारत में खनिजों के वितरण पर प्रकाश डालिए।
4. संयुक्त राष्ट्र के प्रमुख उद्देश्य क्या हैं?
5. पर्यावरण के ह्रास पर हम किस प्रकार नियंत्रण कर सकते हैं?

II. रिक्त स्थानों की पूर्ति कीजिए–

1. ब्रिटिश सरकार _____ और न्यायिक नहीं थी।
2. भूमि का रूप _____ है।
3. आपदा _____ प्रकार का संकट है।
4. नागा समस्या _____ दशक में प्रारंभ हुई।
5. वायु में _____ गैस की मात्रा बढ़ जाने से प्रदूषण होता है।

III. निम्नलिखित प्रश्नों के उत्तर 'हाँ' अथवा 'नहीं' में दीजिए–

1. क्या वर्तमान में भारत में 29 राज्य हैं? _____
2. क्या तात्या टोपे का वास्तविक नाम खान बहादुर था? _____
3. क्या अल्पाइन शब्द यूरोप के आल्पस पर्वत से बना है? _____
4. क्या वायु प्रदूषण से हमारे नेत्र प्रभावित होते हैं? _____

IV. सही कथन के सामने (✓) तथा गलत कथन के सामने (✗) का चिह्न लगाइए–

1. गांधी जी ने प्रथम विश्वयुद्ध में अंग्रेजी सरकार की मदद की थी।
2. मानव स्वयं एक सर्वोत्तम साधन है।
3. तेज गति वाली आँधी को सुनामी कहते हैं।
4. अंतर्राष्ट्रीय न्यायालय में 16 न्यायाधीश होते हैं।
5. सभी खनिज ऊर्जा के स्रोत हैं।

V. सही विकल्प पर (✓) का चिह्न लगाइए–

1. क्रांति के संदेश हेतु प्रतीक बनाया गया—
   (i) कमल के फूल को ☐ (ii) रोटी को ☐ (iii) दोनों को ☐
2. भारत में लोहे का प्रमुख उत्पादक राज्य है—
   (i) ओडिशा ☐ (ii) उत्तर प्रदेश ☐ (iii) केरल ☐
3. भय और आतंक का साया मुंबई में छाया रहा—
   (i) दो दिन तक ☐ (ii) चार दिन तक ☐ (iii) सात दिन तक ☐

4 G Books

वार्षिक परीक्षा
कम्प्यूटर मंथन

समय : ..... **कक्षा–1** **पूर्णांक : .....**

नोट–सभी प्रश्न करने अनिवार्य हैं। स्वच्छता का विशेष ध्यान रखें।

(क) रिक्त स्थान भरिए–

1. हम माउस _____ को स्क्रीन पर कहीं भी ले जा सकते हैं।
2. शिफ्ट कुंजियाँ _____ करने में सहायक होती है।
3. आउटपुट में हमें कार्य के _____ प्राप्त होते हैं।
4. मॉनीटर _____ की तरह दिखाई देता है।
5. कम्प्यूटर एक _____ मशीन है।

(ख) सही कथन के सामने (✓) का तथा गलत कथन के सामने (✗) का चिह्न लगाइए–

1. मॉनीटर को सी० पी० यू० भी कहते हैं। ☐
2. फंक्शन कीज की कुल संख्या 12 होती है। ☐
3. कर्सर एक बड़ी, सीधी रेखा होती है। ☐
4. मॉनीटर तीन प्रकार के होते हैं। ☐
5. एक की–बोर्ड में 101 से 104 बटन होते हैं। ☐

(ग) हाँ या नहीं में उत्तर दीजिए–

1. क्या कम्प्यूटर चल सकता है? _____
2. क्या की–बोर्ड एक इनपुट उपकरण है? _____
3. क्या शिफ्ट कुंजियाँ सबसे बड़ी होती हैं? _____
4. क्या कम्प्यूटर अपने आप सब कुछ कर सकता है? _____
5. क्या मशीन को दी गई वस्तु इनपुट कहलाती है? _____

(घ) निम्नलिखित प्रश्नों के उत्तर दीजिए–

1. मशीने किस सिद्धान्त पर कार्य करती हैं?
2. मॉनीटर को क्या–क्या कहते हैं?
3. बैकस्पेस कुंजी का क्या प्रयोग है?
4. 'क्लिक करना' किसे कहा जाता है?
5. कम्प्यूटर के कौन–कौन से मुख्य भाग होते हैं?

4 G Books

वार्षिक परीक्षा
कम्प्यूटर मंथन

समय : ..... **कक्षा–1** **पूर्णांक : .....**

नोट–सभी प्रश्न करने अनिवार्य हैं। स्वच्छता का विशेष ध्यान रखें।

(क) रिक्त स्थान भरिए–

1. हम माउस _____ को स्क्रीन पर कहीं भी ले जा सकते हैं।
2. शिफ्ट कुंजियाँ _____ करने में सहायक होती है।
3. आउटपुट में हमें कार्य के _____ प्राप्त होते हैं।
4. मॉनीटर _____ की तरह दिखाई देता है।
5. कम्प्यूटर एक _____ मशीन है।

(ख) सही कथन के सामने (✓) का तथा गलत कथन के सामने (✗) का चिह्न लगाइए–

1. मॉनीटर को सी० पी० यू० भी कहते हैं। ☐
2. फंक्शन कीज की कुल संख्या 12 होती है। ☐
3. कर्सर एक बड़ी, सीधी रेखा होती है। ☐
4. मॉनीटर तीन प्रकार के होते हैं। ☐
5. एक की–बोर्ड में 101 से 104 बटन होते हैं। ☐

(ग) हाँ या नहीं में उत्तर दीजिए–

1. क्या कम्प्यूटर चल सकता है? _____
2. क्या की–बोर्ड एक इनपुट उपकरण है? _____
3. क्या शिफ्ट कुंजियाँ सबसे बड़ी होती हैं? _____
4. क्या कम्प्यूटर अपने आप सब कुछ कर सकता है? _____
5. क्या मशीन को दी गई वस्तु इनपुट कहलाती है? _____

(घ) निम्नलिखित प्रश्नों के उत्तर दीजिए–

1. मशीने किस सिद्धान्त पर कार्य करती हैं?
2. मॉनीटर को क्या–क्या कहते हैं?
3. बैकस्पेस कुंजी का क्या प्रयोग है?
4. 'क्लिक करना' किसे कहा जाता है?
5. कम्प्यूटर के कौन–कौन से मुख्य भाग होते हैं?

4 G Books

वार्षिक परीक्षा
कम्प्यूटर मंथन

समय : ..... **कक्षा–2** **पूर्णांक : .....**

नोट–सभी प्रश्न करने अनिवार्य हैं। स्वच्छता का विशेष ध्यान रखें।

(क) रिक्त स्थान भरिए–

1. _____ का प्रयोग चित्र बनाने के उद्देश्य से किया जाता है।
2. पेंट में अनेक _____ टूल्स तथा रंग हो सकते हैं।
3. _____ एक कूड़ेदान के समान होता है।
4. की–बोर्ड _____ का एक सरल साधन है।
5. स्क्रीन के बाईं ओर _____ बटन होता है।

(ख) सही कथन के सामने (✓) का तथा गलत कथन के सामने (✗) का चिह्न लगाइए–

1. कुछ प्रिंटर आउटपुट का रंगीन प्रिंट करते हैं। ☐
2. टास्क बार पर स्टार्ट बटन का आइकन होता है। ☐
3. ऑपरेटिंग सिस्टम एक प्रकार की एप्लीकेशन होती है। ☐
4. टेक्स्ट टूल से चित्र में कुछ लिखा जाता है। ☐
5. एफ० डी० (FD) 30 टर्टल को 25 चरण पीछे ले जाएगा। ☐

(ग) निम्नलिखित को परिभाषित कीजिए–

1. एफ० डी० (FD) कमांड _____
2. पेंसिल टूल _____
3. मिनीमाइज बटन _____
4. रिसाइकिल बटन _____
5. प्रिंटर _____

(घ) निम्नलिखित प्रश्नों के उत्तर दीजिए–

1. आउटपुट डिवाइस क्या होते हैं?
2. स्टोरेज से आप क्या समझते हो?
3. टाइटल बार किसे कहते हैं?
4. एम० एस० पेंट के उपयोग लिखिए।
5. बी० के० (BK) का टर्टल किस दिशा में गति करता है?

4 G Books

वार्षिक परीक्षा
कम्प्यूटर मंथन

समय : ..... **कक्षा–2** **पूर्णांक : .....**

नोट–सभी प्रश्न करने अनिवार्य हैं। स्वच्छता का विशेष ध्यान रखें।

(क) रिक्त स्थान भरिए–

1. _____ का प्रयोग चित्र बनाने के उद्देश्य से किया जाता है।
2. पेंट में अनेक _____ टूल्स तथा रंग हो सकते हैं।
3. _____ एक कूड़ेदान के समान होता है।
4. की–बोर्ड _____ का एक सरल साधन है।
5. स्क्रीन के बाईं ओर _____ बटन होता है।

(ख) सही कथन के सामने (✓) का तथा गलत कथन के सामने (✗) का चिह्न लगाइए–

1. कुछ प्रिंटर आउटपुट का रंगीन प्रिंट करते हैं। ☐
2. टास्क बार पर स्टार्ट बटन का आइकन होता है। ☐
3. ऑपरेटिंग सिस्टम एक प्रकार की एप्लीकेशन होती है। ☐
4. टेक्स्ट टूल से चित्र में कुछ लिखा जाता है। ☐
5. एफ० डी० (FD) 30 टर्टल को 25 चरण पीछे ले जाएगा। ☐

(ग) निम्नलिखित को परिभाषित कीजिए–

1. एफ० डी० (FD) कमांड _____
2. पेंसिल टूल _____
3. मिनीमाइज बटन _____
4. रिसाइकिल बटन _____
5. प्रिंटर _____

(घ) निम्नलिखित प्रश्नों के उत्तर दीजिए–

1. आउटपुट डिवाइस क्या होते हैं?
2. स्टोरेज से आप क्या समझते हो?
3. टाइटल बार किसे कहते हैं?
4. एम० एस० पेंट के उपयोग लिखिए।
5. बी० के० (BK) का टर्टल किस दिशा में गति करता है?

वार्षिक परीक्षा
कम्प्यूटर मंथन

समय : ..... **कक्षा–3** **पूर्णांक : .....**

नोट–सभी प्रश्न करने अनिवार्य हैं। स्वच्छता का विशेष ध्यान रखें।

(क) रिक्त स्थानों की पूर्ति कीजिए–

1. _____ मॉडम कम्प्यूटर के अंदर अवस्थित रहता है।
2. ग्रॉफिक एरिया के केंद्र को _____ कहते हैं।
3. त्रिकोण का ऊपरी कोना टर्टल का _____ भाग है।
4. _____ बटन से आप विंडो को बंद कर सकते हैं।
5. हाइब्रिड कम्प्यूटर में _____ एवं _____ कम्प्यूटर दोनों ने गुण समायोजित होते हैं।

(ख) सही मिलान कीजिए–

1. ए० टी० एम०	• हैड
2. लाइववेयर	• कम्प्यूटर ऑपरेटर
3. विश्वव्यापी नेटवर्क	• एनालॉग कम्प्यूटर
4. त्रिकोण का ऊपरी कोना	• इंटरनेट
5. वोल्टमीटर	• नकदी निकालना

(ग) सही वाक्यों के सामने (✓) तथा गलत वाक्यों के सामने (✗) का निशान लगाइए–

1. नेटवर्किंग में कम्प्यूटरों को प्लगों से जोड़ते हैं। ☐
2. लोगो के कमांड्स को प्रिमिटिव्स भी कहा जाता है। ☐
3. टर्टल को एक ही दिशा में घुमाया जा सकता है। ☐
4. विंडोज एक ऑपरेटिंग सिस्टम है। ☐
5. डिजिटल कम्प्यूटर के पाँच प्रकार होते हैं। ☐

(घ) निम्नलिखित शब्दों पर टिप्पणी कीजिए–

1. नेटवर्किंग 2. टर्टल 3. हाइब्रिड कम्प्यूटर 4. स्क्रॉल बार

(ङ) निम्नलिखित प्रश्नों के उत्तर दीजिए–

1. नेटवर्क किस प्रकार बनाया जाता है?
2. HOME प्रिमिटिव का उपयोग कब किया जाता है?
3. लोगो भाषा का पूरा नाम क्या है?
4. आइकन और फोल्डर से आप क्या समझते हैं?
5. कम्प्यूटर का मानव जीवन में महत्त्व लिखिए।

4 G Books

वार्षिक परीक्षा
कम्प्यूटर मंथन

समय : ..... कक्षा–3 पूर्णांक : .....

नोट–सभी प्रश्न करने अनिवार्य हैं। स्वच्छता का विशेष ध्यान रखें।

(क) रिक्त स्थानों की पूर्ति कीजिए–

1. _____ मॉडम कम्प्यूटर के अंदर अवस्थित रहता है।
2. ग्रॉफिक एरिया के केंद्र को _____ कहते हैं।
3. त्रिकोण का ऊपरी कोना टर्टल का _____ भाग है।
4. _____ बटन से आप विंडो को बंद कर सकते हैं।
5. हाइब्रिड कम्प्यूटर में _____ एवं _____ कम्प्यूटर दोनों ने गुण समायोजित होते हैं।

(ख) सही मिलान कीजिए–

1. ए० टी० एम०	• हैड
2. लाइववेयर	• कम्प्यूटर ऑपरेटर
3. विश्वव्यापी नेटवर्क	• एनालॉग कम्प्यूटर
4. त्रिकोण का ऊपरी कोना	• इंटरनेट
5. वोल्टमीटर	• नकदी निकालना

(ग) सही वाक्यों के सामने (✓) तथा गलत वाक्यों के सामने (✗) का निशान लगाइए–

1. नेटवर्किंग में कम्प्यूटरों को प्लगों से जोड़ते हैं। ☐
2. लोगो के कमांड्स को प्रिमिटिव्स भी कहा जाता है। ☐
3. टर्टल को एक ही दिशा में घुमाया जा सकता है। ☐
4. विंडोज एक ऑपरेटिंग सिस्टम है। ☐
5. डिजिटल कम्प्यूटर के पाँच प्रकार होते हैं। ☐

(घ) निम्नलिखित शब्दों पर टिप्पणी कीजिए–

1. नेटवर्किंग 2. टर्टल 3. हाइब्रिड कम्प्यूटर 4. स्क्रॉल बार

(ङ) निम्नलिखित प्रश्नों के उत्तर दीजिए–

1. नेटवर्क किस प्रकार बनाया जाता है?
2. HOME प्रिमिटिव का उपयोग कब किया जाता है?
3. लोगो भाषा का पूरा नाम क्या है?
4. आइकन और फोल्डर से आप क्या समझते हैं?
5. कम्प्यूटर का मानव जीवन में महत्त्व लिखिए।

4 G Books

वार्षिक परीक्षा
कम्प्यूटर मंथन

समय : ..... **कक्षा–4** **पूर्णांक : .....**

नोट–सभी प्रश्न करने अनिवार्य हैं। स्वच्छता का विशेष ध्यान रखें।

(क) रिक्त स्थानों की पूर्ति कीजिए–

1. _____ मेन्यू की सूची को प्रदर्शित करती है।
2. शॉर्टकट पहले से तैयार किसी _____ या _____ को बनाते हैं।
3. माइक्रोसॉफ्ट वर्ड का प्रयोग उत्तम क्वालिटी के _____ बनाने के लिए किया जाता है।
4. RT 90 टर्टल को इसकी _____ ओर घुमा देगी।
5. बाजार में यूजर की आवश्यकताओं के आधार पर नई कम्प्यूटर _____ आने लगी।

(ख) सही कथन के सामने (✓) का तथा गलत कथन के सामने (✗) का चिह्न लगाइए–

1. संख्याओं को जोड़ने के लिए (.) का प्रयोग किया जाता है। ☐
2. कम्प्यूटर की प्रथम विंडो डेस्कटॉप कहलाती है। ☐
3. हम वर्ड प्रोग्राम को सीधे प्रारंभ नहीं कर सकते। ☐
4. सामग्री–क्षेत्र वर्ड विंडो का सबसे छोटा भाग होता है। ☐
5. 25 से 5 की गुणा करने पर गुणनफल 125 आएगा। ☐

(ग) निम्नलिखित को परिभाषित कीजिए–

1. प्लॉपी डिस्क 2. सेव एज 3. वर्ड–पैड 4. शीर्ष मार्जिन

(घ) निम्नलिखित प्रश्नों के उत्तर दीजिए–

1. कम्प्यूटर के सॉफ्टवेयर से आप क्या समझते हैं?
2. टैक्स्ट फार्मेट करने की विधि बताइए।
3. एम० एस०–विंडो के लाभ बताएँ।
4. फाइल तैयार करने की विधि बताइए।
5. लोगो क्या है?

(ङ) सही शब्द पर गोला (◯) बनाइए–

1. स्टैंडर्ड टूलबार पुश बटनों की एक (पंक्ति/क्रम) होता है।
2. रूलर (चार/दो) प्रकार के होते हैं।
3. लोगो एक (सरल/कठिन) भाषा है।
4. सिंटेक्स कमांड टर्टल की (आगे/पीछे) चलने का निर्देश देती है।

4 G Books

वार्षिक परीक्षा
कम्प्यूटर मंथन

समय : ..... **कक्षा–4** **पूर्णांक : .....**

नोट–सभी प्रश्न करने अनिवार्य हैं। स्वच्छता का विशेष ध्यान रखें।

(क) रिक्त स्थानों की पूर्ति कीजिए–

1. _____ मेन्यू की सूची को प्रदर्शित करती है।
2. शॉर्टकट पहले से तैयार किसी _____ या _____ को बनाते हैं।
3. माइक्रोसॉफ्ट वर्ड का प्रयोग उत्तम क्वालिटी के _____ बनाने के लिए किया जाता है।
4. RT 90 टर्टल को इसकी _____ ओर घुमा देगी।
5. बाजार में यूजर की आवश्यकताओं के आधार पर नई कम्प्यूटर _____ आने लगी।

(ख) सही कथन के सामने (✓) का तथा गलत कथन के सामने (✗) का चिह्न लगाइए–

1. संख्याओं को जोड़ने के लिए (.) का प्रयोग किया जाता है। ☐
2. कम्प्यूटर की प्रथम विंडो डेस्कटॉप कहलाती है। ☐
3. हम वर्ड प्रोग्राम को सीधे प्रारंभ नहीं कर सकते। ☐
4. सामग्री–क्षेत्र वर्ड विंडो का सबसे छोटा भाग होता है। ☐
5. 25 से 5 की गुणा करने पर गुणनफल 125 आएगा। ☐

(ग) निम्नलिखित को परिभाषित कीजिए–

1. प्लॉपी डिस्क 2. सेव एज 3. वर्ड–पैड 4. शीर्ष मार्जिन

(घ) निम्नलिखित प्रश्नों के उत्तर दीजिए–

1. कम्प्यूटर के सॉफ्टवेयर से आप क्या समझते हैं?
2. टैक्स्ट फार्मेट करने की विधि बताइए।
3. एम० एस०–विंडो के लाभ बताएँ।
4. फाइल तैयार करने की विधि बताइए।
5. लोगो क्या है?

(ङ) सही शब्द पर गोला (◯) बनाइए–

1. स्टैंडर्ड टूलबार पुश बटनों की एक (पंक्ति/क्रम) होता है।
2. रूलर (चार/दो) प्रकार के होते हैं।
3. लोगो एक (सरल/कठिन) भाषा है।
4. सिंटेक्स कमांड टर्टल की (आगे/पीछे) चलने का निर्देश देती है।

वार्षिक परीक्षा
कम्प्यूटर मंथन

समय : ..... **कक्षा–5** **पूर्णांक : .....**

नोट–सभी प्रश्न करने अनिवार्य हैं। स्वच्छता का विशेष ध्यान रखें।

(क) रिक्त स्थानों की पूर्ति कीजिए–

1. पॉवर पॉइंट में _____ टूलबार होती हैं।
2. _____ बाइनरी को एनालॉग सिग्नल में बदलता है।
3. इंटरनेट ज्ञान का _____ है।
4. टर्मिनल बॉक्स का आकार _____ होता है।
5. LAN का आरंभ सन् _____ ई० में हुआ था।

(ख) गलत शब्द को काटिए–

1. (मॉनीटर/की–बोर्ड) टी० वी० के समान दिखाई देता है।
2. नेटवर्किंग में (बैंक एकाउंट/यूजर एकाउंट) बेहद महत्त्वपूर्ण होता है।
3. कम्प्यूटर को इंटरनेट से (मॉडम/टेलीफोन) द्वारा जोड़ा जाता है।
4. मॉडम (चार/दो) प्रकार के होते हैं।
5. किसी कार्य को क्रमबद्ध तरीके से लिखना (फ्लोचार्ट/एल्गोरिथ्म) कहलाता है।

(ग) सही कथन के सामने (✓) का तथा गलत कथन के सामने (✗) का चिह्न लगाइए–

1. डिसीजन बॉक्स का प्रयोग निर्णय लेने की स्थिति में किया जाता है। ☐
2. WAN का अर्थ लोकल एरिया नेटवर्क हैं। ☐
3. ई–मेल भेजने के लिए एकाउंट बनाना आवश्यक है। ☐
4. स्वास्थ्य के क्षेत्र में भी इंटरनेट का उपयोग किया जाता है। ☐
5. पेपर डाक्यूमेंट कागज पर केवल आउटपुट दर्शाता है। ☐

(घ) सही मिलान कीजिए–

1. रीड ओनली मैमोरी	• फ्लॉपी
2. लचीली डिस्क	• वेब को खोलना
3. वेब ब्राउजर	• दो प्रकार के
4. कंप्यूटर नेटवर्क	• रोम

(ङ) निम्नलिखित प्रश्नों के उत्तर दीजिए–

1. कर्सर किसे कहते हैं? 2. फ्लोचार्ट के चिह्नों का वर्णन कीजिए।
3. वर्ड प्रोसेसर क्या है? 4. इंटरनेट चलाने की प्रक्रिया क्या होती है?
5. पियर नेटवर्क किसे कहते हैं?
6. इंटरनेट की उपयोगिता बताइए।

4 G Books

वार्षिक परीक्षा
कम्प्यूटर मंथन

समय : ..... कक्षा–5 पूर्णांक : .....

नोट–सभी प्रश्न करने अनिवार्य हैं। स्वच्छता का विशेष ध्यान रखें।

(क) रिक्त स्थानों की पूर्ति कीजिए–
1. पॉवर पॉइंट में _____ टूलबार होती हैं।
2. _____ बाइनरी को एनालॉग सिग्नल में बदलता है।
3. इंटरनेट ज्ञान का _____ है।
4. टर्मिनल बॉक्स का आकार _____ होता है।
5. LAN का आरंभ सन् _____ ई० में हुआ था।

(ख) गलत शब्द को काटिए–
1. (मॉनीटर/की–बोर्ड) टी० वी० के समान दिखाई देता है।
2. नेटवर्किंग में (बैंक एकाउंट/यूजर एकाउंट) बेहद महत्त्वपूर्ण होता है।
3. कम्प्यूटर को इंटरनेट से (मॉडम/टेलीफोन) द्वारा जोड़ा जाता है।
4. मॉडम (चार/दो) प्रकार के होते हैं।
5. किसी कार्य को क्रमबद्ध तरीके से लिखना (फ्लोचार्ट/एल्गोरिथ्म) कहलाता है।

(ग) सही कथन के सामने (✓) का तथा गलत कथन के सामने (✗) का चिह्न लगाइए–
1. डिसीजन बॉक्स का प्रयोग निर्णय लेने की स्थिति में किया जाता है। ☐
2. WAN का अर्थ लोकल एरिया नेटवर्क हैं। ☐
3. ई–मेल भेजने के लिए एकाउंट बनाना आवश्यक है। ☐
4. स्वास्थ्य के क्षेत्र में भी इंटरनेट का उपयोग किया जाता है। ☐
5. पेपर डाक्यूमेंट कागज पर केवल आउटपुट दर्शाता है। ☐

(घ) सही मिलान कीजिए–
1. रीड ओनली मैमोरी • फ्लॉपी
2. लचीली डिस्क • वेब को खोलना
3. वेब ब्राउजर • दो प्रकार के
4. कंप्यूटर नेटवर्क • रोम

(ङ) निम्नलिखित प्रश्नों के उत्तर दीजिए–
1. कर्सर किसे कहते हैं? 2. फ्लोचार्ट के चिह्नों का वर्णन कीजिए।
3. वर्ड प्रोसेसर क्या है? 4. इंटरनेट चलाने की प्रक्रिया क्या होती है?
5. पियर नेटवर्क किसे कहते हैं?
6. इंटरनेट की उपयोगिता बताइए।

वार्षिक परीक्षा
कम्प्यूटर मंथन

समय : ..... **कक्षा-6** **पूर्णांक : .....**

नोट–सभी प्रश्न करने अनिवार्य हैं। स्वच्छता का विशेष ध्यान रखें।

(क) निम्नलिखित प्रश्नों के उत्तर दीजिए–

1. डिलीट का क्या कार्य होता है?
2. एम० एस० एक्सेल की क्या विशेषताएँ हैं?
3. 'BASIC' का पूरा नाम क्या है?
4. फ्लोचार्ट के विषम में क्या जानते हैं? समझाइए।
5. कंप्यूटर नेटवर्क सामान्यतया कितने प्रकार के होते हैं?

(ख) रेखांकित शब्द को सही कीजिए–

1. टर्मिनल वृत्त आकृति का होता है।
2. नेपियर बोन का आविष्कार सन्1642 में किया गया था।
3. लोगो का प्रारूप जॉन बेकस ने तैयार किया था।
4. स्टेटस बार पाठ्य क्षेत्र के ठीक ऊपर होता है।
5. ट्रैफिक अधिक होने के कारण रिंग टोपोलॉजी धीमी गति से कार्य करती है।

(ग) रिक्त स्थानों की पूर्ति कीजिए–

1. स्प्रैडशीट _____ तथा _____ में विभाजित होती है।
2. एक निश्चित कार्य को पूरा करने के लिए चरणबद्ध ढंग से कार्य का वर्णन करना _____ कहलाता है।
3. मशीनी भाषा केवल दो अंकों _____ और _____ का प्रयोग करती है।
4. मॉडम _____ प्रकार के होते हैं।
5. ई-मेल सेवा सबसे पहले _____ ने शुरू की।

(घ) सही कथन के सामने (✓) का तथा गलत कथन के सामने (✗) का चिह्न लगाइए–

1. फॉर्मूले से Excel में गणना का कार्य कठिन हो जाता है। ☐
2. Entry Connector अंत में होता है। ☐
3. फॉरट्रान भाषा का विकास सन् 1957 में हुआ था। ☐
4. नेटवर्क का उद्देश्य सूचनाओं का आदान-प्रदान करना होता है। ☐
5. डैन ब्रिकलिन और बॉब फ्रैंकस्टर ने पहले इलेक्ट्रॉनिक स्प्रैडशीट का प्रारूप विकसित किया। ☐

(ङ) निम्नलिखित पर टिप्पणी लिखिए–

1. चैक बॉक्स 2. लिस्ट बॉक्स

4 G Books

वार्षिक परीक्षा
कम्प्यूटर मंथन

समय : ..... कक्षा-6 पूर्णांक : .....

नोट–सभी प्रश्न करने अनिवार्य हैं। स्वच्छता का विशेष ध्यान रखें।

(क) निम्नलिखित प्रश्नों के उत्तर दीजिए–
1. डिलीट का क्या कार्य होता है?
2. एम० एस० एक्सेल की क्या विशेषताएँ हैं?
3. 'BASIC' का पूरा नाम क्या है?
4. फ्लोचार्ट के विषम में क्या जानते हैं? समझाइए।
5. कंप्यूटर नेटवर्क सामान्यतया कितने प्रकार के होते हैं?

(ख) रेखांकित शब्द को सही कीजिए–
1. टर्मिनल वृत्त आकृति का होता है।
2. नेपियर बोन का आविष्कार सन्1642 में किया गया था।
3. लोगो का प्रारूप जॉन बेकस ने तैयार किया था।
4. स्टेटस बार पाठ्य क्षेत्र के ठीक ऊपर होता है।
5. ट्रैफिक अधिक होने के कारण रिंग टोपोलॉजी धीमी गति से कार्य करती है।

(ग) रिक्त स्थानों की पूर्ति कीजिए–
1. स्प्रैडशीट _____ तथा _____ में विभाजित होती है।
2. एक निश्चित कार्य को पूरा करने के लिए चरणबद्ध ढंग से कार्य का वर्णन करना _____ कहलाता है।
3. मशीनी भाषा केवल दो अंकों _____ और _____ का प्रयोग करती है।
4. मॉडम _____ प्रकार के होते हैं।
5. ई-मेल सेवा सबसे पहले _____ ने शुरू की।

(घ) सही कथन के सामने (✓) का तथा गलत कथन के सामने (✗) का चिह्न लगाइए–
1. फॉर्मूले से Excel में गणना का कार्य कठिन हो जाता है। ☐
2. Entry Connector अंत में होता है। ☐
3. फॉरट्रान भाषा का विकास सन् 1957 में हुआ था। ☐
4. नेटवर्क का उद्देश्य सूचनाओं का आदान-प्रदान करना होता है। ☐
5. डैन ब्रिकलिन और बॉब फ्रैंकस्टर ने पहले इलेक्ट्रॉनिक स्प्रैडशीट का प्रारूप विकसित किया। ☐

(ङ) निम्नलिखित पर टिप्पणी लिखिए–
1. चैक बॉक्स 2. लिस्ट बॉक्स

वार्षिक परीक्षा

4 G Books

कम्प्यूटर मंथन

समय : ..... **कक्षा–7** **पूर्णांक : .....**

नोट–सभी प्रश्न करने अनिवार्य हैं। स्वच्छता का विशेष ध्यान रखें।

(क) सही कथन के सामने (✓) का तथा गलत कथन के सामने (✗) का चिह्न लगाइए–

1. स्टैंडर्ड टूलबार डॉक्यूमेंट विंडो का एक अवयव है। ☐
2. U के द्वारा underline होती है। ☐
3. इंटरनेट से वीडियो कांफ्रेंसिंग की जा सकती है। ☐
4. चिह्न (+) का अर्थ बराबर होता है। ☐
5. सुपर कम्प्यूटर मद्रास में बनाया गया था। ☐

(ख) सही शब्द पर गोला (◯) कीजिए–

1. प्रस्तुतीकरण के प्रत्येक पृष्ठ को (स्लाइड/हैंडआउट) कहते हैं।
2. गूगल एक (फैन/सर्च) इंजन है।
3. एक्सेल का तत्व (ड्राइंग एरिया/सैल) नहीं है।
4. कम्प्यूटर खराब करने वाले सॉफ्टवेयर को (वायरस/सायरस) कहा जाता है।
5. इंटरनेट द्वारा भेजे गए संदेश को (पोस्टमेल/ई–मेल) कहते हैं।

(ग) रिक्त स्थानों की पूर्ति कीजिए–

1. सैल में डाटा _____ किया जाता है।
2. प्रोग्राम के कथनों का पालन करने की दिशा को _____ का प्रवाह कहा जाता है।
3. कंप्यूटर केवल _____ भाषा को समझ सकता है।
4. टाइप किया गया टैक्स्ट सदैव _____ में रहता है।
5. वायरस फाइलों को _____ कर सकता है।

(घ) सही मिलान कीजिए–

1. Open बटन	• (C) Brain
2. कॉपी अथवा मूव	• मेन्यू बार
3. पहला वायरस	• लॉजिक बम
4. टाइम बम	• क्लिपबोर्ड

(ङ) निम्नलिखित प्रश्नों के उत्तर दीजिए–

1. एक्सेल के तत्वों के नाम लिखिए।
2. ब्रांचिंग किसे कहते हैं?
3. डाउनलोडिंग कैसे की जाती है?
4. कम्प्यूटर पर वायरस के क्या–क्या प्रभाव पड़ते हैं?
5. MS-Word स्पैलिंग चैक कैसे करता है? समझाइए।

वार्षिक परीक्षा

4 G Books

कम्प्यूटर मंथन

समय : ..... **कक्षा–7** **पूर्णांक : .....**

नोट–सभी प्रश्न करने अनिवार्य हैं। स्वच्छता का विशेष ध्यान रखें।

(क) सही कथन के सामने (✓) का तथा गलत कथन के सामने (✗) का चिह्न लगाइए–

1. स्टैंडर्ड टूलबार डॉक्यूमेंट विंडो का एक अवयव है। ☐
2. U के द्वारा underline होती है। ☐
3. इंटरनेट से वीडियो कांफ्रेंसिंग की जा सकती है। ☐
4. चिह्न (+) का अर्थ बराबर होता है। ☐
5. सुपर कम्प्यूटर मद्रास में बनाया गया था। ☐

(ख) सही शब्द पर गोला (◯) कीजिए–

1. प्रस्तुतीकरण के प्रत्येक पृष्ठ को (स्लाइड/हैंडआउट) कहते हैं।
2. गूगल एक (फैन/सर्च) इंजन है।
3. एक्सेल का तत्व (ड्राइंग एरिया/सैल) नहीं है।
4. कम्प्यूटर खराब करने वाले सॉफ्टवेयर को (वायरस/सायरस) कहा जाता है।
5. इंटरनेट द्वारा भेजे गए संदेश को (पोस्टमेल/ई–मेल) कहते हैं।

(ग) रिक्त स्थानों की पूर्ति कीजिए–

1. सैल में डाटा _____ किया जाता है।
2. प्रोग्राम के कथनों का पालन करने की दिशा को _____ का प्रवाह कहा जाता है।
3. कंप्यूटर केवल _____ भाषा को समझ सकता है।
4. टाइप किया गया टैक्स्ट सदैव _____ में रहता है।
5. वायरस फाइलों को _____ कर सकता है।

(घ) सही मिलान कीजिए–

1. Open बटन	• (C) Brain
2. कॉपी अथवा मूव	• मेन्यू बार
3. पहला वायरस	• लॉजिक बम
4. टाइम बम	• क्लिपबोर्ड

(ङ) निम्नलिखित प्रश्नों के उत्तर दीजिए–

1. एक्सेल के तत्वों के नाम लिखिए।
2. ब्रांचिंग किसे कहते हैं?
3. डाउनलोडिंग कैसे की जाती है?
4. कम्प्यूटर पर वायरस के क्या–क्या प्रभाव पड़ते हैं?
5. MS-Word स्पैलिंग चैक कैसे करता है? समझाइए।

वार्षिक परीक्षा
कम्प्यूटर मंथन

समय : ..... **कक्षा-8** **पूर्णांक : .....**

नोट–सभी प्रश्न करने अनिवार्य हैं। स्वच्छता का विशेष ध्यान रखें।

(क) रिक्त स्थानों की पूर्ति कीजिए–

1. डाटा स्रोत सूचनाओं का एक _____ सेट होता है।
2. कॉरल ड्रा एक _____ से संबंधित प्रोग्राम है।
3. C भाषा _____ द्वारा लिखी गई है।
4. वर्कशीट में _____ तथा _____ होती हैं।
5. _____ उपभोक्ता के लिए 24 घंटे उपलब्ध रहती है।

(ख) गलत शब्द को काटिए–

1. एक्सेल में चार्ट (दो/चार) प्रकार के होते हैं।
2. हब एक (हार्डवेयर/साफ्टवेयर) डिवाइस हैं।
3. C-भाषा का विकास (1970/1972) में हुआ था।
4. कम्प्यूटर में वायरस आ जाने की क्रिया को (सिंकिंग/इंफैक्शन) कहते हैं।
5. बूट वायरस का प्रभाव (हार्ड डिस्क/सॉफ्ट डिस्क) पर पड़ता है।

(ग) सही कथन के सामने (✓) का तथा गलत कथन के सामने (✗) का चिह्न लगाइए–

1. Selecting Starting Document चरण में आपके पास अपना मुख्य दस्तावेज अर्थात् पत्र चुनने के सात विकल्प होते हैं। ☐
2. डाटा बस डाटा का संचरण CPU में करती है। ☐
3. C-भाषा एक उच्चस्तरीय भाषा है। ☐
4. एक्सेल की वर्कशीट में कॉलम्स तथा रो होते हैं। ☐
5. इंटरनेट का पूर्ववर्ती नेटवर्क ARPANET था। ☐

(घ) निम्नलिखित प्रश्नों के उत्तर दीजिए–

1. मेल मर्ज विजार्ड क्या है?
2. इलेक्ट्रॉनिक स्प्रैडशीट का उपयोग कहाँ होता है?
3. वैरीएबल के नाम रखने के नियम लिखिए।
4. एक्सेल में चार्ट तैयार करने की विधि बताइए।
5. कंपैनियन वायरस किसे कहते हैं?

4 G Books

वार्षिक परीक्षा
कम्प्यूटर मंथन

समय : ..... कक्षा-8 पूर्णांक : .....

नोट–सभी प्रश्न करने अनिवार्य हैं। स्वच्छता का विशेष ध्यान रखें।

(क) रिक्त स्थानों की पूर्ति कीजिए–
1. डाटा स्रोत सूचनाओं का एक _____ सेट होता है।
2. कॉरल ड्रा एक _____ से संबंधित प्रोग्राम है।
3. C भाषा _____ द्वारा लिखी गई है।
4. वर्कशीट में _____ तथा _____ होती हैं।
5. _____ उपभोक्ता के लिए 24 घंटे उपलब्ध रहती है।

(ख) गलत शब्द को काटिए–
1. एक्सेल में चार्ट (दो/चार) प्रकार के होते हैं।
2. हब एक (हार्डवेयर/साफ्टवेयर) डिवाइस हैं।
3. C-भाषा का विकास (1970/1972) में हुआ था।
4. कम्प्यूटर में वायरस आ जाने की क्रिया को (सिंकिंग/इंफैक्शन) कहते हैं।
5. बूट वायरस का प्रभाव (हार्ड डिस्क/सॉफ्ट डिस्क) पर पड़ता है।

(ग) सही कथन के सामने (✓) का तथा गलत कथन के सामने (✗) का चिह्न लगाइए–
1. Selecting Starting Document चरण में आपके पास अपना मुख्य दस्तावेज अर्थात् पत्र चुनने के सात विकल्प होते हैं। ☐
2. डाटा बस डाटा का संचरण CPU में करती है। ☐
3. C-भाषा एक उच्चस्तरीय भाषा है। ☐
4. एक्सेल की वर्कशीट में कॉलम्स तथा रो होते हैं। ☐
5. इंटरनेट का पूर्ववर्ती नेटवर्क ARPANET था। ☐

(घ) निम्नलिखित प्रश्नों के उत्तर दीजिए–
1. मेल मर्ज विजार्ड क्या है?
2. इलेक्ट्रॉनिक स्प्रैडशीट का उपयोग कहाँ होता है?
3. वैरीएबल के नाम रखने के नियम लिखिए।
4. एक्सेल में चार्ट तैयार करने की विधि बताइए।
5. कंपैनियन वायरस किसे कहते हैं?

4 G Books

वार्षिक परीक्षा
संस्कृत मंथन

समय : ..... **कक्षा–1** **पूर्णांक : .....**

नोट–सभी प्रश्न करने अनिवार्य हैं। स्वच्छता का विशेष ध्यान रखें।

1. निम्नलिखित वर्णों से बनने वाले शब्द संस्कृत में लिखिए–

इ = _____ ए = _____

घ = _____ ब = _____

व = _____ ह = _____

क्ष = _____ ज्ञ = _____

2. निम्नलिखित शब्दों के लिङ्ग लिखिए–

हंस: = _____ चटका = _____

सेवम् = _____ गृहम् = _____

जन: = _____ लता = _____

बालिका = _____ जनक: = _____

3. निम्नलिखित क्रिया शब्दों के अर्थ लिखिए–

खादन्ति = _____ हसति = _____

लिखत: = _____ पठन्ति = _____

गच्छति = _____ धावत: = _____

लिखन्ति = _____ पठति = _____

4. निम्नलिखित प्रश्नों के उत्तर संस्कृत में लिखिए–

(क) स्वरा: कति भवन्ति?

(ख) व्यञ्जनानि कति भवन्ति?

(ग) वचनानि कति भवन्ति?

(घ) क: उपदिशति?

(ङ) वाटिका कीदृशी अस्ति?

4 G Books

वार्षिक परीक्षा
संस्कृत मंथन

समय : ..... **कक्षा–1** **पूर्णांक : .....**

नोट–सभी प्रश्न करने अनिवार्य हैं। स्वच्छता का विशेष ध्यान रखें।

1. निम्नलिखित वर्णों से बनने वाले शब्द संस्कृत में लिखिए–

इ = _____ ए = _____

घ = _____ ब = _____

व = _____ ह = _____

क्ष = _____ ज्ञ = _____

2. निम्नलिखित शब्दों के लिङ्ग लिखिए–

हंस: = _____ चटका = _____

सेवम् = _____ गृहम् = _____

जन: = _____ लता = _____

बालिका = _____ जनक: = _____

3. निम्नलिखित क्रिया शब्दों के अर्थ लिखिए–

खादन्ति = _____ हसति = _____

लिखत: = _____ पठन्ति = _____

गच्छति = _____ धावत: = _____

लिखन्ति = _____ पठति = _____

4. निम्नलिखित प्रश्नों के उत्तर संस्कृत में लिखिए–

(क) स्वरा: कति भवन्ति?

(ख) व्यञ्जनानि कति भवन्ति?

(ग) वचनानि कति भवन्ति?

(घ) क: उपदिशति?

(ङ) वाटिका कीदृशी अस्ति?

वार्षिक परीक्षा
संस्कृत मंथन

समय : ..... **कक्षा–2** **पूर्णांक : .....**

नोट–सभी प्रश्न करने अनिवार्य हैं। स्वच्छता का विशेष ध्यान रखें।

1. निम्नलिखित पंक्तियों के अर्थ लिखिए–

(क) असतो मा सद्गमय।
(ख) अहं गीतं गायामि।
(ग) कृष्ण: अत्र पठति।
(घ) रवि: उदयति।
(ङ) अयं क: अस्ति?

2. वाक्य पूरे कीजिए–

(क) शशका: _____।
(ख) कृष्णाय _____।
(ग) अयं मम _____ अस्ति।
(घ) एकदा सर्प: _____ भक्षितवान्।
(ङ) तदा अयं _____ गच्छति।

3. संस्कृत में वाक्य बनाइए–

(क) स: = _____
(ख) एता: = _____
(ग) एतत् = _____
(घ) रविम् = _____

4. निम्नलिखित प्रश्नों के उत्तर संस्कृत में लिखिए–

(क) कृष्णस्य गुरु: क: आसीत्?
(ख) विद्यालय: कीदृश: अस्ति?
(ग) क: नश्यति?
(घ) गुरो: नानकदेवस्य को सन्देश:?

4 G Books

वार्षिक परीक्षा
संस्कृत मंथन

समय : ..... **कक्षा–2** **पूर्णांक : .....**

नोट–सभी प्रश्न करने अनिवार्य हैं। स्वच्छता का विशेष ध्यान रखें।

1. निम्नलिखित पंक्तियों के अर्थ लिखिए–

(क) असतो मा सद्गमय।
(ख) अहं गीतं गायामि।
(ग) कृष्ण: अत्र पठति।
(घ) रवि: उदयति।
(ङ) अयं क: अस्ति?

2. वाक्य पूरे कीजिए–

(क) शशका: _____।
(ख) कृष्णाय _____।
(ग) अयं मम _____ अस्ति।
(घ) एकदा सर्प: _____ भक्षितवान्।
(ङ) तदा अयं _____ गच्छति।

3. संस्कृत में वाक्य बनाइए–

(क) स: = _____
(ख) एता: = _____
(ग) एतत् = _____
(घ) रविम् = _____

4. निम्नलिखित प्रश्नों के उत्तर संस्कृत में लिखिए–

(क) कृष्णस्य गुरु: क: आसीत्?
(ख) विद्यालय: कीदृश: अस्ति?
(ग) क: नश्यति?
(घ) गुरो: नानकदेवस्य को सन्देश:?

4 G Books

वार्षिक परीक्षा
संस्कृत मंथन

समय : ..... **कक्षा–3** **पूर्णांक : .....**

नोट–सभी प्रश्न करने अनिवार्य हैं। स्वच्छता का विशेष ध्यान रखें।

1. निम्नलिखित प्रश्नों के उत्तर संस्कृत में लिखिए–

(क) वाटिकायां के सन्ति?
(ख) लक्ष्मणस्य माता का आसीत्?
(ग) गान्धिन: महोदयस्य कौ अस्त्रौ आस्ताम्?
(घ) हंसस्य रक्षक: क: आसीत्?
(ङ) कै: सह मित्रता न कार्या?

2. निम्नलिखित शब्दों के द्विवचन व बहुवचन रूप लिखिए–

बालकेन	_____	_____
वाटिकाम्	_____	_____
पुष्पे	_____	_____
मम	_____	_____
तस्यै	_____	_____

3. हिंदी में अर्थ लिखिए–

पुष्पपादपा: =	_____	श्यामपट्टे =	_____
उद्यानम् =	_____	पञ्च =	_____
कारागारे =	_____	अल्पाहारम् =	_____

4. उचित शब्द-रूप द्वारा वाक्यों को पूर्ण कीजिए–

(क) पितामही _____ पुष्पाणि आनयति। *(लता)*
(ख) श्रीराम: _____ अगच्छत्। *(वनम्)*
(ग) लोभ: _____ कारणम्। *(विनाश:)*
(घ) कृषका: _____ अन्नम् उत्पादयन्ति। *(परिश्रम:)*

4 G Books

वार्षिक परीक्षा
संस्कृत मंथन

समय : ..... **कक्षा–3** **पूर्णांक : .....**

नोट–सभी प्रश्न करने अनिवार्य हैं। स्वच्छता का विशेष ध्यान रखें।

1. निम्नलिखित प्रश्नों के उत्तर संस्कृत में लिखिए–

(क) वाटिकायां के सन्ति?
(ख) लक्ष्मणस्य माता का आसीत्?
(ग) गान्धिन: महोदयस्य कौ अस्त्रौ आस्ताम्?
(घ) हंसस्य रक्षक: क: आसीत्?
(ङ) कै: सह मित्रता न कार्या?

2. निम्नलिखित शब्दों के द्विवचन व बहुवचन रूप लिखिए–

बालकेन	_____	_____
वाटिकाम्	_____	_____
पुष्पे	_____	_____
मम	_____	_____
तस्यै	_____	_____

3. हिंदी में अर्थ लिखिए–

पुष्पपादपा: =	_____	श्यामपट्टे =	_____
उद्यानम् =	_____	पञ्च =	_____
कारागारे =	_____	अल्पाहारम् =	_____

4. उचित शब्द-रूप द्वारा वाक्यों को पूर्ण कीजिए–

(क) पितामही _____ पुष्पाणि आनयति। *(लता)*
(ख) श्रीराम: _____ अगच्छत्। *(वनम्)*
(ग) लोभ: _____ कारणम्। *(विनाश:)*
(घ) कृषका: _____ अन्नम् उत्पादयन्ति। *(परिश्रम:)*

4 G Books

वार्षिक परीक्षा
संस्कृत मंथन

समय : ..... **कक्षा–4** **पूर्णांक : .....**

नोट–सभी प्रश्न करने अनिवार्य हैं। स्वच्छता का विशेष ध्यान रखें।

1. श्लोक-पंक्तियों को पूर्ण कीजिए–

(क) मातेव _____ परमेशं _____ तम्।
(ख) परलोके _____ शीलं _____ धनम्।
(ग) नैनं _____ नैनं _____ पावक:।
(घ) वाण्येका _____ पुरुषं या _____।

2. शब्दार्थों का मिलान कीजिए–

(क) कृपया	(i) फैलाकर
(ख) पावनत्वम्	(ii) कृपा से
(ग) प्रसार्य	(iii) छोड़कर
(घ) त्यक्त्वा	(iv) पवित्रता

3. निम्नलिखित शब्दों में से विशेषण शब्दों अलग करके लिखिए–

अभूतपूर्व: शिष्य: = _____
सहृदया: जना: = _____
एकल: वीर: = _____
विचित्रं शरीरम् = _____
धूर्त: शृगाल: = _____
मनोहरं गीतम् = _____

4. निम्नलिखित प्रश्नों के उत्तर संस्कृत में लिखिए–

(क) क: पितेव हितं करोति?
(ख) नूतन संविधानस्य घोषणा कदा अभवत्?
(ग) का भाषा सर्वासां भाषाणां जननी?
(घ) क: न दहति आत्मानम्?
(ङ) दीपावल्या: उत्सव: कदा भवति?

4 G Books

वार्षिक परीक्षा
संस्कृत मंथन

समय : ..... **कक्षा–4** **पूर्णांक : .....**

नोट–सभी प्रश्न करने अनिवार्य हैं। स्वच्छता का विशेष ध्यान रखें।

1. श्लोक-पंक्तियों को पूर्ण कीजिए–

(क) मातेव _____ परमेशं _____ तम्।
(ख) परलोके _____ शीलं _____ धनम्।
(ग) नैनं _____ नैनं _____ पावक:।
(घ) वाण्येका _____ पुरुषं या _____।

2. शब्दार्थों का मिलान कीजिए–

(क) कृपया	(i) फैलाकर
(ख) पावनत्वम्	(ii) कृपा से
(ग) प्रसार्य	(iii) छोड़कर
(घ) त्यक्त्वा	(iv) पवित्रता

3. निम्नलिखित शब्दों में से विशेषण शब्दों अलग करके लिखिए–

अभूतपूर्व: शिष्य: = _____
सहृदया: जना: = _____
एकल: वीर: = _____
विचित्रं शरीरम् = _____
धूर्त: शृगाल: = _____
मनोहरं गीतम् = _____

4. निम्नलिखित प्रश्नों के उत्तर संस्कृत में लिखिए–

(क) क: पितेव हितं करोति?
(ख) नूतन संविधानस्य घोषणा कदा अभवत्?
(ग) का भाषा सर्वासां भाषाणां जननी?
(घ) क: न दहति आत्मानम्?
(ङ) दीपावल्या: उत्सव: कदा भवति?

वार्षिक परीक्षा

संस्कृत मंथन

समय : ..... **कक्षा–5** **पूर्णांक : .....**

नोट–सभी प्रश्न करने अनिवार्य हैं। स्वच्छता का विशेष ध्यान रखें।

1. रिक्त स्थानों को पूर्ण कीजिए–

(क) कमलस्य _____ सह स्नेह: अस्ति।

(ख) स: मुनि: द्वौ _____ अपालयत्।

(ग) सर्वत्रैव _____ गतिरवलोक्यते।

(घ) अस्माकं कृते _____ अवसर: अपि भविष्यति।

(ङ) शठे _____ समाचरेत्।

2. निम्नलिखित वाक्यों में से अव्यय-पदों को छाँटकर लिखिए–

(क) जले एव कमलस्य उत्पत्ति: भवति।

(ख) सर्वदा चरित्रस्य रक्षा कार्या।

(ग) आम्, संस्कृते काव्यम् अपि अस्ति।

(घ) वर्तमाने विज्ञानं विना सर्वं व्यर्थम् अस्ति।

3. निम्नलिखित श्लोकों का हिंदी में अनुवाद कीजिए–

(क) नहि कश्चित् विजानाति कस्य किं श्वो भविष्यति।
अत: श्व: करणीयानि कुर्यादद्यैव बुद्धिमान्।।

(ख) गुणो भूषयते रूपं ज्ञानं भूषयते धनम्।
सिद्धि: भूषयते विद्यां शीलं सर्वत्र वै धनम्।।

4. निम्नलिखित प्रश्नों के उत्तर संस्कृत में लिखिए–

(क) कीदृशाय सर्वात्मने नम:?

(ख) इन्द्रियसंयम: कस्य मूले उतिष्ठति?

(ग) किं न जायते न च म्रियते?

(घ) कस्य संसर्ग: त्याज्य:?

(ङ) साधु किम् उक्तम्?

4 G Books

वार्षिक परीक्षा

संस्कृत मंथन

समय : ..... कक्षा–5 पूर्णांक : .....

नोट–सभी प्रश्न करने अनिवार्य हैं। स्वच्छता का विशेष ध्यान रखें।

1. रिक्त स्थानों को पूर्ण कीजिए–

(क) कमलस्य _____ सह स्नेह: अस्ति।

(ख) स: मुनि: द्वौ _____ अपालयत्।

(ग) सर्वत्रैव _____ गतिरवलोक्यते।

(घ) अस्माकं कृते _____ अवसर: अपि भविष्यति।

(ङ) शठे _____ समाचरेत्।

2. निम्नलिखित वाक्यों में से अव्यय-पदों को छाँटकर लिखिए–

(क) जले एव कमलस्य उत्पत्ति: भवति।

(ख) सर्वदा चरित्रस्य रक्षा कार्या।

(ग) आम्, संस्कृते काव्यम् अपि अस्ति।

(घ) वर्तमाने विज्ञानं विना सर्वं व्यर्थम् अस्ति।

3. निम्नलिखित श्लोकों का हिंदी में अनुवाद कीजिए–

(क) नहि कश्चित् विजानाति कस्य किं श्वो भविष्यति।
अत: श्व: करणीयानि कुर्यादद्यैव बुद्धिमान्।।

(ख) गुणो भूषयते रूपं ज्ञानं भूषयते धनम्।
सिद्धि: भूषयते विद्यां शीलं सर्वत्र वै धनम्।।

4. निम्नलिखित प्रश्नों के उत्तर संस्कृत में लिखिए–

(क) कीदृशाय सर्वात्मने नम:?

(ख) इन्द्रियसंयम: कस्य मूले उतिष्ठति?

(ग) किं न जायते न च म्रियते?

(घ) कस्य संसर्ग: त्याज्य:?

(ङ) साधु किम् उक्तम्?

4 G Books

वार्षिक परीक्षा
संस्कृत मंथन

समय : ..... **कक्षा-6** **पूर्णांक : .....**

नोट–सभी प्रश्न करने अनिवार्य हैं। स्वच्छता का विशेष ध्यान रखें।

1. संधि-विच्छेद कीजिए–

देवन्देवत्रा	= ____+____		ग्रामेष्वपि	= ____+____	
अद्यैव	= ____+____		जीवाश्च	= ____+____	
गङ्गोदकम्	= ____+____		सोऽपि	= ____+____	
यद्यपि	= ____+____		स्वर्गादपि	= ____+____	

2. निम्नलिखित वाक्यों में दिए गए रेखांकित पदों के लिङ्ग व वचन लिखिए–

(क) शिक्षाक्षेत्रे पुस्तकालयस्य बहु महत्त्व वर्तते।
(ख) तत्र महिला: जलेन घटान् पूरयन्ति स्म।
(ग) कुक्कुर: गर्दभस्य दुर्गतिम् अवलोक्य हसति।
(घ) नदीषु वस्त्रादीनि न क्षालनीयानि।
(ङ) तत्र आवासाय काष्ठखण्डं नीयते स्म।

3. हिंदी में अनुवाद कीजिए–

(क) शिक्षाप्रसाराय ग्रामेष्वपि पुस्तकालयानाम् आवश्यकता अस्ति।
(ख) महाराणाप्रताप: स्वदेशस्य मुक्तये लेशमात्रमपि कष्टं न गणितवान्।
(ग) अहं तु पलायनस्य बहुविधं कौशलं जानामि।
(घ) गुरु गोविन्दसिंह: कवि: विद्यानुरागी अप्यासीत्।
(ङ) स: अवशिष्टया गुलिकया स्वात्मानं हतवान्।

4. निम्नलिखित क्रिया-पदों के लकार व पुरुष लिखिए–

उपलभ्यन्ते	प्रदास्यामि	स्मरताम्
अचिन्तय:	सम्पादयत	स्याम्

5. निम्नलिखित प्रश्नों के उत्तर संस्कृत में लिखिए–

(क) ईश्वर: कीदृश: अस्ति? (ख) प्रताप: कां प्रतिज्ञां कृतवान्?
(ग) वरदराज: मार्गे किम् अपश्यत् किं च अचिन्तयत्?
(घ) गुरुगोविन्दसिंहास्य जन्म कदा अभवत्?
(ङ) आत्मां कीदृश: अस्ति?
(च) लालबहादुर शास्त्री महोदय: जनताया: श्रद्धाभाजनं कथम् अभूत्?

4 G Books

वार्षिक परीक्षा
संस्कृत मंथन

समय : ..... **कक्षा-6** **पूर्णांक : .....**

नोट–सभी प्रश्न करने अनिवार्य हैं। स्वच्छता का विशेष ध्यान रखें।

1. संधि-विच्छेद कीजिए–

देवन्देवत्रा	= ____+____		ग्रामेष्वपि	= ____+____	
अद्यैव	= ____+____		जीवाश्च	= ____+____	
गङ्गोदकम्	= ____+____		सोऽपि	= ____+____	
यद्यपि	= ____+____		स्वर्गादपि	= ____+____	

2. निम्नलिखित वाक्यों में दिए गए रेखांकित पदों के लिङ्ग व वचन लिखिए–

(क) शिक्षाक्षेत्रे पुस्तकालयस्य बहु महत्त्व वर्तते।
(ख) तत्र महिला: जलेन घटान् पूरयन्ति स्म।
(ग) कुक्कुर: गर्दभस्य दुर्गतिम् अवलोक्य हसति।
(घ) नदीषु वस्त्रादीनि न क्षालनीयानि।
(ङ) तत्र आवासाय काष्ठखण्डं नीयते स्म।

3. हिंदी में अनुवाद कीजिए–

(क) शिक्षाप्रसाराय ग्रामेष्वपि पुस्तकालयानाम् आवश्यकता अस्ति।
(ख) महाराणाप्रताप: स्वदेशस्य मुक्तये लेशमात्रमपि कष्टं न गणितवान्।
(ग) अहं तु पलायनस्य बहुविधं कौशलं जानामि।
(घ) गुरु गोविन्दसिंह: कवि: विद्यानुरागी अप्यासीत्।
(ङ) स: अवशिष्टया गुलिकया स्वात्मानं हतवान्।

4. निम्नलिखित क्रिया-पदों के लकार व पुरुष लिखिए–

उपलभ्यन्ते	प्रदास्यामि	स्मरताम्
अचिन्तय:	सम्पादयत	स्याम्

5. निम्नलिखित प्रश्नों के उत्तर संस्कृत में लिखिए–

(क) ईश्वर: कीदृश: अस्ति? (ख) प्रताप: कां प्रतिज्ञां कृतवान्?
(ग) वरदराज: मार्गे किम् अपश्यत् किं च अचिन्तयत्?
(घ) गुरुगोविन्दसिंहास्य जन्म कदा अभवत्?
(ङ) आत्मां कीदृश: अस्ति?
(च) लालबहादुर शास्त्री महोदय: जनताया: श्रद्धाभाजनं कथम् अभूत्?

वार्षिक परीक्षा
संस्कृत मंथन

समय : ..... **कक्षा–7** **पूर्णांक : .....**

नोट–सभी प्रश्न करने अनिवार्य हैं। स्वच्छता का विशेष ध्यान रखें।

1. निम्नलिखित प्रश्नों के उत्तर संस्कृत में लिखिए–

(क) क्रोध: कथम् अभिज्ञायते? (ख) विद्या कल्पलतेव अस्ति; कथम्?
(ग) कीदृशं ब्रूयात्? (घ) भारतभूमे: वैशिष्ट्यं किमिति?
(ङ) दीपावली पर्व कदा मन्यते? (च) देवी कया प्रीता अभवत्?

2. श्लोकों को पूर्ण कीजिए–

(क) विषया _____ देहिन:। (ख) _____ विद्यते तव _____।
रसवर्जं _____ निवर्तते।। व्ययतो _____ सञ्चयात्।।
(ग) _____ पुस्तकस्था _____ धनम्।
_____ सा _____।।

3. निम्नलिखित शब्दों से संस्कृत में वाक्य बनाइए–

तुष्ट:, वीराङ्गना, बद्धा:, सुपुत्र:, प्रेम्णा।

4. सही वाक्य के सामने (✓) का चिह्न तथा गलत वाक्य के सामने (✗) का चिह्न लगाइए–

(क) अरण्ये केवलं मानवा: निवसन्ति। ☐
(ख) महाराज्ञी लक्ष्मीबाई आङ्ग्लसैनिकै: सह पराक्रमेण युद्धम् अकरोत्। ☐
(ग) विद्या लक्ष्मीं कीर्तिं च वितनोति। ☐
(घ) वल्लभभाई पटेल: 1936 तमे वर्षे कांग्रेससमिते: अध्यक्ष: अभवत्। ☐
(ङ) ऋषिकेशे स्थित: 'लक्ष्मणझूला' अति प्रसिद्ध: अस्ति। ☐
(च) आर्यभटस्य द्वितीयं पुस्तकं 'हर्षचरितम्' अस्ति। ☐

5. निम्नलिखित वाक्यों में से सर्वनाम पदों को चुनिए और उनके मूल शब्द भी लिखिए–

(क) वने सर्वे प्राणिन: स्वतन्त्रतया विचरन्ति।
(ख) कथम् एतेषाम् इयम् विकृता अवस्था?
(ग) तेन अनेकानि लोकहितानि कार्याणि कृतानि।
(घ) अहं तस्मै पण्डिताय प्रभूतं धनं दास्यामि।
(ङ) त्वया सह मम अध्ययनं सफलम् अभवत्।
(च) सा तस्य सत्यवादितया अति प्रभाविता अभवत्।

4 G Books

वार्षिक परीक्षा
संस्कृत मंथन

समय : ..... कक्षा–7 पूर्णांक : .....

नोट–सभी प्रश्न करने अनिवार्य हैं। स्वच्छता का विशेष ध्यान रखें।

1. निम्नलिखित प्रश्नों के उत्तर संस्कृत में लिखिए–
(क) क्रोध: कथम् अभिज्ञायते? (ख) विद्या कल्पलतेव अस्ति; कथम्?
(ग) कीदृशं ब्रूयात्? (घ) भारतभूमे: वैशिष्ट्यं किमिति?
(ङ) दीपावली पर्व कदा मन्यते? (च) देवी कया प्रीता अभवत्?

2. श्लोकों को पूर्ण कीजिए–
(क) विषया _____ देहिन:। (ख) _____ विद्यते तव _____।
रसवर्जं _____ निवर्तते।। व्ययतो _____ सञ्चयात्।।
(ग) _____ पुस्तकस्था _____ धनम्।
_____ सा _____।।

3. निम्नलिखित शब्दों से संस्कृत में वाक्य बनाइए–
तुष्ट:, वीराङ्गना, बद्धा:, सुपुत्र:, प्रेम्णा।

4. सही वाक्य के सामने (✓) का चिह्न तथा गलत वाक्य के सामने (✗) का चिह्न लगाइए–
(क) अरण्ये केवलं मानवा: निवसन्ति। ☐
(ख) महाराज्ञी लक्ष्मीबाई आङ्ग्लसैनिकै: सह पराक्रमेण युद्धम् अकरोत्। ☐
(ग) विद्या लक्ष्मीं कीर्तिं च वितनोति। ☐
(घ) वल्लभभाई पटेल: 1936 तमे वर्षे कांग्रेससमिते: अध्यक्ष: अभवत्। ☐
(ङ) ऋषिकेशे स्थित: 'लक्ष्मणझूला' अति प्रसिद्ध: अस्ति। ☐
(च) आर्यभटस्य द्वितीयं पुस्तकं 'हर्षचरितम्' अस्ति। ☐

5. निम्नलिखित वाक्यों में से सर्वनाम पदों को चुनिए और उनके मूल शब्द भी लिखिए–
(क) वने सर्वे प्राणिन: स्वतन्त्रतया विचरन्ति।
(ख) कथम् एतेषाम् इयम् विकृता अवस्था?
(ग) तेन अनेकानि लोकहितानि कार्याणि कृतानि।
(घ) अहं तस्मै पण्डिताय प्रभूतं धनं दास्यामि।
(ङ) त्वया सह मम अध्ययनं सफलम् अभवत्।
(च) सा तस्य सत्यवादितया अति प्रभाविता अभवत्।

4 G Books

वार्षिक परीक्षा

संस्कृत मंथन

समय : ..... **कक्षा-8** **पूर्णांक : .....**

नोट–सभी प्रश्न करने अनिवार्य हैं। स्वच्छता का विशेष ध्यान रखें।

1. निम्नलिखित श्लोकों का हिंदी में अनुवाद कीजिए–

(क) अन्नाद् भवन्ति भूतानि पर्जन्यादन्नसम्भव:।
यज्ञाद् भवति पर्जन्यो यज्ञ: कर्मसमुद्भव:।।

(ख) गौरवं प्राप्यते दानात् न तु वित्तस्य सञ्चयात्।
स्थिति: उच्चै: पयोदानां पयोधीनाम् अध: स्थिति:।।

(ग) परोक्षे कार्यन्तारं प्रत्यक्षेत प्रियवादिनम्।
वर्जयेत् तादृशं मित्रं विषकुम्भं पयोमुखम्।।

2. निम्नलिखित क्रियापदों की धातुएँ लिखिए–

स्मरन्, वर्धते, परित्यज्य, गतवान्, स्यात्, इच्छामि, शक्नुम:, प्राविशति, कुर्यात्, अलभत।

3. कोष्ठक में दिए पदों का उचित प्रयोग करके वाक्य पूर्ण कीजिए–

(क) तुल्यसीपादपे असङ्ख्या: गुणा: _____। *(अस्)*

(ख) वैषणव भक्ता: तुलसी काष्ठं मालारूपे कण्ठे _____। *(धारय्)*

(ग) उत्सवोऽयं महता _____ मानयन्ति जना:। *(उल्लास)*

(घ) ना ऽ हं _____ विफला करिष्यामि। *(विद्या)*

(ङ) _____ चित्तं तु अतीव प्रसन्नं जातम्। *(अस्मद्)*

(च) स्वास्थ्यस्य _____ सन्तुलित: आहार: अत्यावश्यक:। *(रक्षा)*

4. निम्नलिखित वाक्यों में दिए गए रेखांकित पदों के कारक, वचन व लिङ्ग लिखिए–

(क) अस्या: <u>तुलस्या:</u> महिमा लोके प्रसिद्धा अस्ति।

(ख) <u>कर्मवीरा:</u> एव श्रेष्ठं पदं लभन्ते।

(ग) महर्षि दयानन्द: बाल्यावस्थायां <u>रात्रौ</u> व्रतम् आचरितवान्।

(घ) <u>साधूनां</u> दर्शनं पुण्यमिव।

(ङ) स्वामिना विवेकानन्देन लिखितानि <u>पुस्तकानि</u> ज्ञानप्रदानि सन्ति।

(च) <u>तपसा</u> प्रसन्न: भगवान् विष्णु: तस्मै बालकाय दर्शनं दत्तवान्।

5. निम्नलिखित प्रश्नों के उत्तर संस्कृत में लिखिए–

(क) शरीयात्रा कथं सिद्धयति? (ख) प्रकृति: कां शिक्षां ददाति?

(ग) शरीरस्य कति दोषा: सन्ति? के च ते?

(घ) विद्यार्थिन: पञ्च लक्षणानि कानि?

(ङ) जना: ग्रीष्मऋतौ किमिच्छन्ति? (च) दुर्जनस्य स्वभाव: कीदृश: भवति?

4 G Books

वार्षिक परीक्षा

संस्कृत मंथन

समय : ..... **कक्षा-8** **पूर्णांक : .....**

नोट–सभी प्रश्न करने अनिवार्य हैं। स्वच्छता का विशेष ध्यान रखें।

1. निम्नलिखित श्लोकों का हिंदी में अनुवाद कीजिए–

(क) अन्नाद् भवन्ति भूतानि पर्जन्यादन्नसम्भव:।
यज्ञाद् भवति पर्जन्यो यज्ञ: कर्मसमुद्भव:।।

(ख) गौरवं प्राप्यते दानात् न तु वित्तस्य सञ्चयात्।
स्थिति: उच्चै: पयोदानां पयोधीनाम् अध: स्थिति:।।

(ग) परोक्षे कार्यन्तारं प्रत्यक्षेत प्रियवादिनम्।
वर्जयेत् तादृशं मित्रं विषकुम्भं पयोमुखम्।।

2. निम्नलिखित क्रियापदों की धातुएँ लिखिए–

स्मरन्, वर्धते, परित्यज्य, गतवान्, स्यात्, इच्छामि, शक्नुम:, प्राविशति, कुर्यात्, अलभत।

3. कोष्ठक में दिए पदों का उचित प्रयोग करके वाक्य पूर्ण कीजिए–

(क) तुल्यसीपादपे असङ्ख्या: गुणा: _____। *(अस्)*

(ख) वैषणव भक्ता: तुलसी काष्ठं मालारूपे कण्ठे _____। *(धारय्)*

(ग) उत्सवोऽयं महता _____ मानयन्ति जना:। *(उल्लास)*

(घ) ना ऽ हं _____ विफला करिष्यामि। *(विद्या)*

(ङ) _____ चित्तं तु अतीव प्रसन्नं जातम्। *(अस्मद्)*

(च) स्वास्थ्यस्य _____ सन्तुलित: आहार: अत्यावश्यक:। *(रक्षा)*

4. निम्नलिखित वाक्यों में दिए गए रेखांकित पदों के कारक, वचन व लिङ्ग लिखिए–

(क) अस्या: <u>तुलस्या:</u> महिमा लोके प्रसिद्धा अस्ति।

(ख) <u>कर्मवीरा:</u> एव श्रेष्ठं पदं लभन्ते।

(ग) महर्षि दयानन्द: बाल्यावस्थायां <u>रात्रौ</u> व्रतम् आचरितवान्।

(घ) <u>साधूनां</u> दर्शनं पुण्यमिव।

(ङ) स्वामिना विवेकानन्देन लिखितानि <u>पुस्तकानि</u> ज्ञानप्रदानि सन्ति।

(च) <u>तपसा</u> प्रसन्न: भगवान् विष्णु: तस्मै बालकाय दर्शनं दत्तवान्।

5. निम्नलिखित प्रश्नों के उत्तर संस्कृत में लिखिए–

(क) शरीयात्रा कथं सिद्धयति? (ख) प्रकृति: कां शिक्षां ददाति?

(ग) शरीरस्य कति दोषा: सन्ति? के च ते?

(घ) विद्यार्थिन: पञ्च लक्षणानि कानि?

(ङ) जना: ग्रीष्मऋतौ किमिच्छन्ति? (च) दुर्जनस्य स्वभाव: कीदृश: भवति?